เส้นขนาน

ชื่อ.....ชั้น.....เลขที่.....

---

1. จากรูป $\overleftrightarrow{AB}$ // $\overleftrightarrow{DC}$ จงหา $\hat{x}$ กางกี่องศา

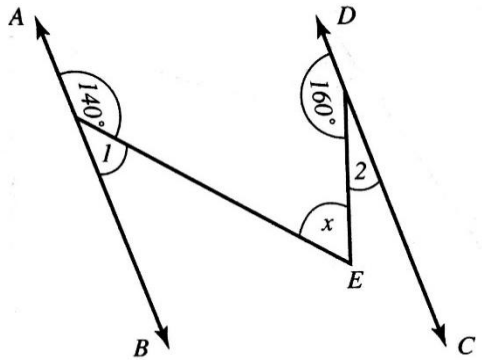

2. จากรูป กำหนดให้ $\overleftrightarrow{AB}$ // $\overleftrightarrow{CD}$ ค่าของ x + y มีค่าเท่าใด

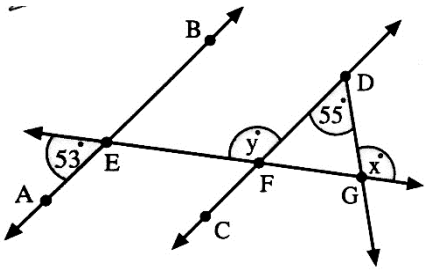

3. กำหนด $\overline{AB} = \overline{BC}$ และ $A\hat{B}D = 130^\circ$, $B\hat{A}C$ มีขนาดเท่าไร

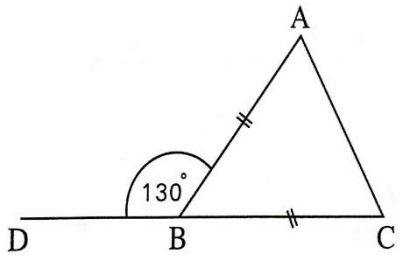

4. กำหนด ABCD เป็นรูปสี่เหลี่ยมด้านขนาน ค่าของ x + y มีค่าเท่าใด

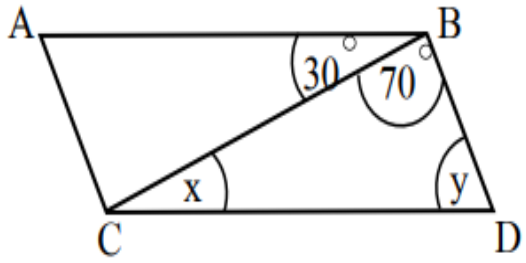

5. กำหนด $A\hat{B}C = 115^\circ$ และ $B\hat{C}D = 105^\circ$ จงหา $\hat{x}$ กางกี่องศา

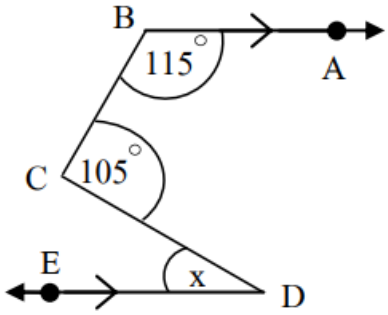

6. กำหนด สามเหลี่ยม ABC เป็นสามเหลี่ยมหน้าจั่ว

$\hat{A} = 75^\circ$ และ $\overrightarrow{AB} // \overrightarrow{CD}$ ค่าของ x + y มีค่าเท่าใด

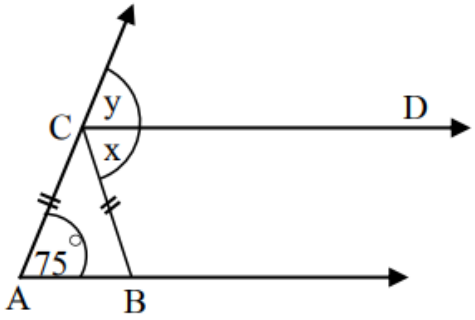

7. กำหนดให้ $\overleftrightarrow{AB} // \overleftrightarrow{CD}$ ถ้า $B\hat{A}F = 52^\circ$ และ $A\hat{E}C = 104^\circ$ จงหาขนาดของ $E\hat{C}D$

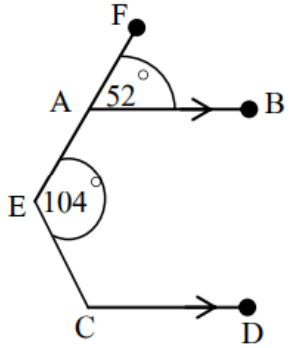

8. ค่าของ x + y มีค่าเท่าใด

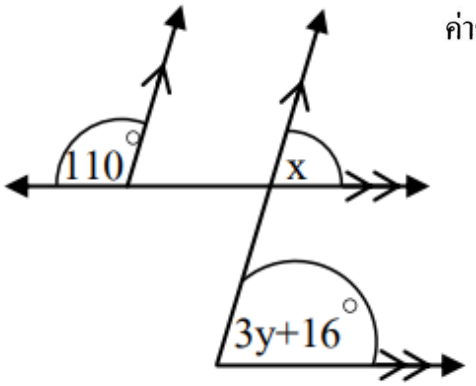

9. จงหา $\hat{x}$ กางกี่องศา

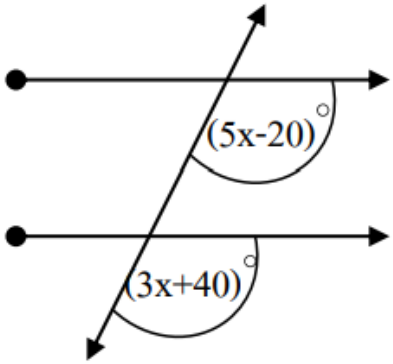

10 ค่าของ x + y มีค่าเท่าใด

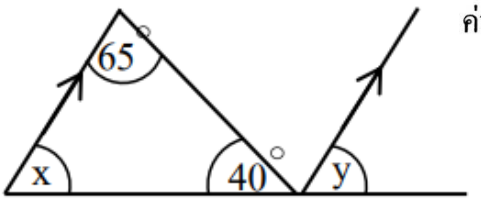

11 ค่าของ x + y มีค่าเท่าใด

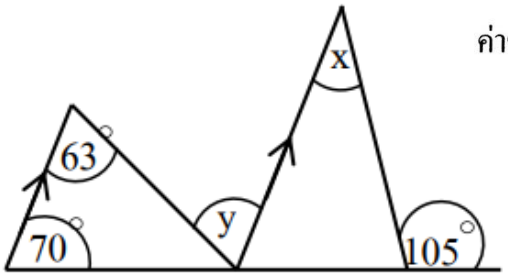

12 ค่าของ x + y มีค่าเท่าใด

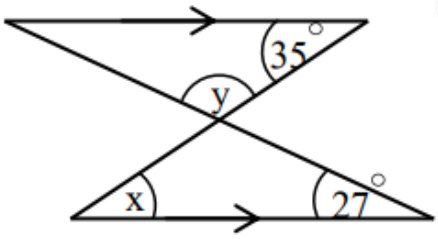

13 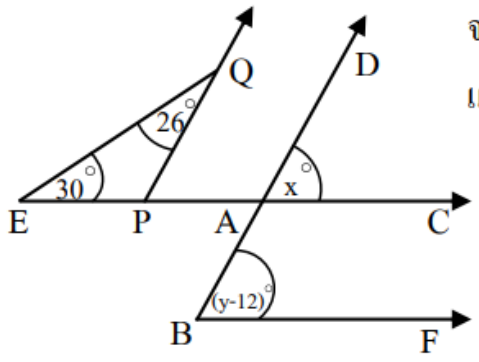

จากรูป กำหนดให้ $\overleftrightarrow{PQ} // \overleftrightarrow{AD}$ และ $\overleftrightarrow{AC} // \overleftrightarrow{BF}$ จงหาค่า x และ y

14 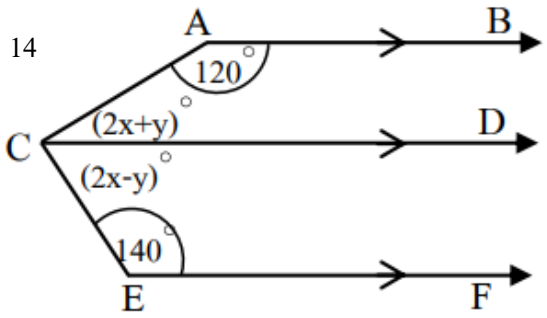

จากรูป กำหนดให้ $A\hat{C}D = (2x+y)^o$ และ $D\hat{C}E = (2x-y)^o$ จงหาค่า x และ y

15 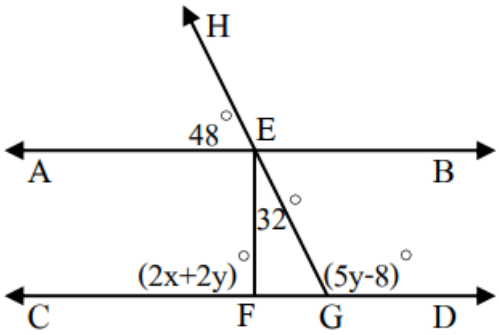

จากรูป กำหนดให้ $\overleftrightarrow{AB} // \overleftrightarrow{CD}$ มี $C\hat{E}F = (2x+2y)^o$ และ $D\hat{G}E = (5y-8)^o$ จงหาค่า x และ y