Biodata

Nama : SRI RIZKI MATANARI
NIM : 24030130084
Prodi : Pendidikan Matematika D 2024

Visualisasi dan Perhitungan Geometri dengan EMT

Euler menyediakan beberapa fungsi untuk melakukan visualisasi dan perhitungan geometri, baik secara numerik maupun analitik (seperti biasanya tentunya, menggunakan Maxima). Fungsi-fungsi untuk visualisasi dan perhitungan geometeri tersebut disimpan di dalam file program "geometry.e", sehingga file tersebut harus dipanggil sebelum menggunakan fungsi-fungsi atau perintah-perintah untuk geometri.

```
>load geometry
```

```
Numerical and symbolic geometry.
```

Fungsi-fungsi Geometri

Fungsi-fungsi untuk Menggambar Objek Geometri:

```
defaultd:=textheight()*1.5: nilai asli untuk parameter d
setPlotrange(x1,x2,y1,y2): menentukan rentang x dan y pada bidang koordinat
setPlotRange(r): pusat bidang koordinat (0,0) dan batas-batas sumbu-x dan y adalah -r sd r
plotPoint (P, "P"): menggambar titik P dan diberi label "P"
plotSegment (A,B, "AB", d): menggambar ruas garis AB, diberi label "AB" sejauh d
plotLine (g, "g", d): menggambar garis g diberi label "g" sejauh d
plotCircle (c,"c",v,d): Menggambar lingkaran c dan diberi label "c"
plotLabel (label, P, V, d): menuliskan label pada posisi P
```

Fungsi-fungsi Geometri Analitik (numerik maupun simbolik):

```
turn(v, phi): memutar vektor v sejauh phi
turnLeft(v):   memutar vektor v ke kiri
turnRight(v):  memutar vektor v ke kanan
normalize(v): normal vektor v
crossProduct(v, w): hasil kali silang vektorv dan w.
lineThrough(A, B): garis melalui A dan B, hasilnya [a,b,c] sdh. ax+by=c.
lineWithDirection(A,v): garis melalui A searah vektor v
getLineDirection(g): vektor arah (gradien) garis g
getNormal(g): vektor normal (tegak lurus) garis g
getPointOnLine(g):  titik pada garis g
perpendicular(A, g):  garis melalui A tegak lurus garis g
parallel (A, g):  garis melalui A sejajar garis g
lineIntersection(g, h):  titik potong garis g dan h
projectToLine(A, g):   proyeksi titik A pada garis g
distance(A, B):  jarak titik A dan B
distanceSquared(A, B):  kuadrat jarak A dan B
quadrance(A, B): kuadrat jarak A dan B
areaTriangle(A, B, C):  luas segitiga ABC
computeAngle(A, B, C):   besar sudut <ABC
angleBisector(A, B, C): garis bagi sudut <ABC
circleWithCenter (A, r): lingkaran dengan pusat A dan jari-jari r
getCircleCenter(c):  pusat lingkaran c
getCircleRadius(c):  jari-jari lingkaran c
circleThrough(A,B,C):  lingkaran melalui A, B, C
middlePerpendicular(A, B): titik tengah AB
lineCircleIntersections(g, c): titik potong garis g dan lingkran c
circleCircleIntersections (c1, c2):  titik potong lingkaran c1 dan c2
planeThrough(A, B, C):  bidang melalui titik A, B, C
```

Fungsi-fungsi Khusus Untuk Geometri Simbolik:

```
getLineEquation (g,x,y): persamaan garis g dinyatakan dalam x dan y
getHesseForm (g,x,y,A): bentuk Hesse garis g dinyatakan dalam x dan y dengan titik A pada
sisi positif (kanan/atas) garis
quad(A,B): kuadrat jarak AB
spread(a,b,c): Spread segitiga dengan panjang sisi-sisi a,b,c, yakni sin(alpha)^2 dengan
alpha sudut yang menghadap sisi a.
crosslaw(a,b,c,sa): persamaan 3 quads dan 1 spread pada segitiga dengan panjang sisi a, b, c.
triplespread(sa,sb,sc): persamaan 3 spread sa,sb,sc yang memebntuk suatu segitiga
doublespread(sa): Spread sudut rangkap Spread 2*phi, dengan sa=sin(phi)^2 spread a.
```

Contoh 1: Luas, Lingkaran Luar, Lingkaran Dalam Segitiga

Untuk menggambar objek-objek geometri, langkah pertama adalah menentukan rentang sumbu-sumbu koordinat. Semua objek geometri akan digambar pada satu bidang koordinat, sampai didefinisikan bidang koordinat yang baru.

```
>setPlotRange(-0.5,2.5,-0.5,2.5): // mendefinisikan bidang koordinat baru
```

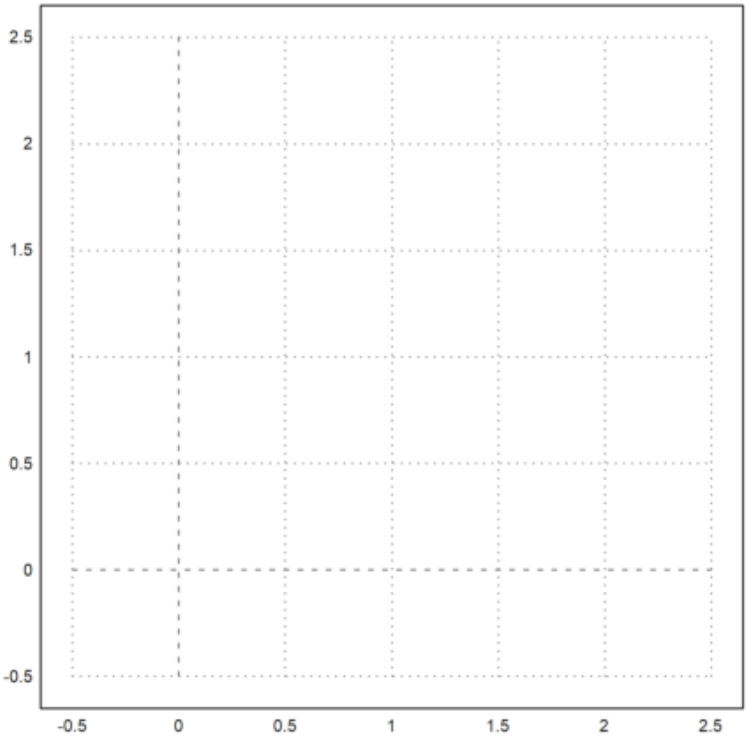

Sekarang atur tiga titik dan plot mereka

```
>A=[1,0]; plotPoint(A,"A"): // definisi dan gambar tiga titik
```

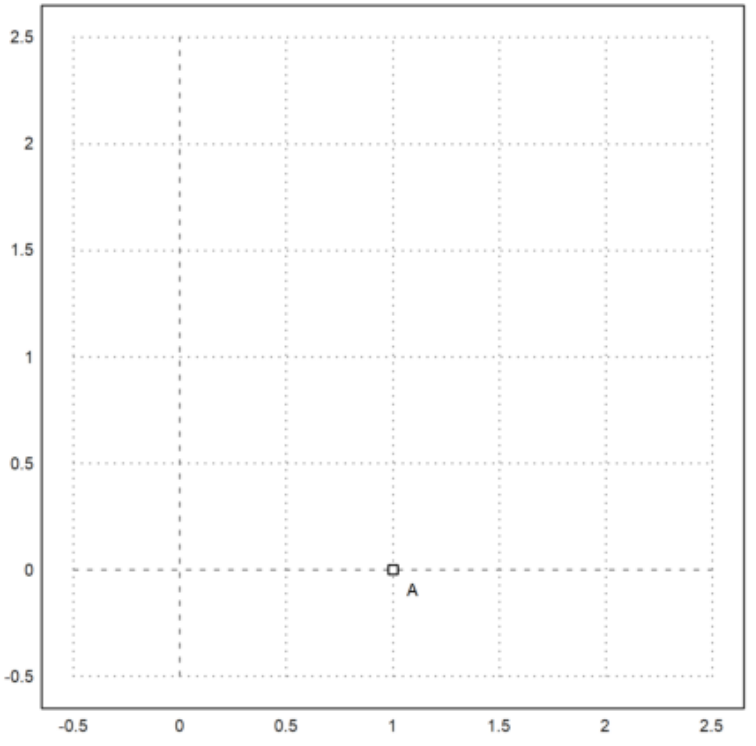


```
>B=[0,1]; plotPoint(B,"B"):
```

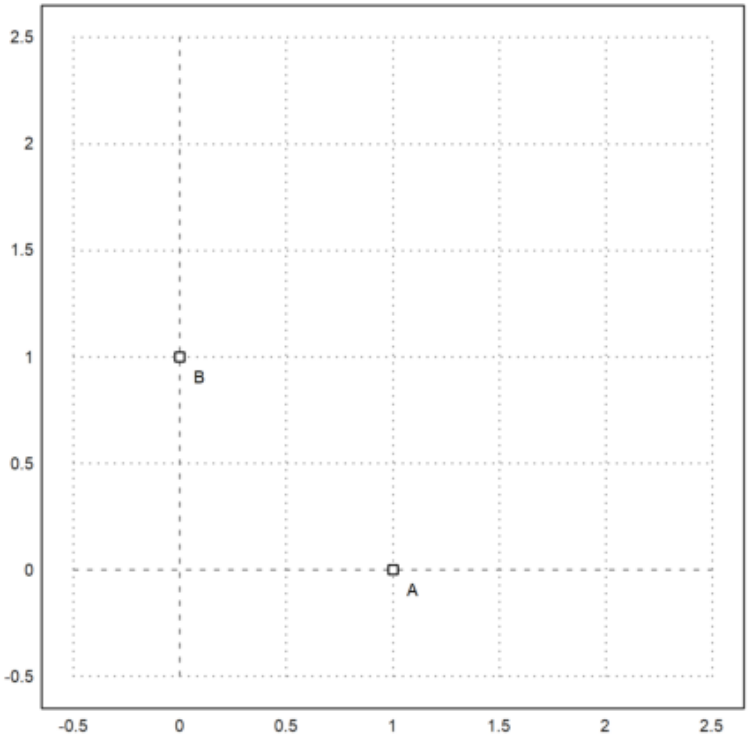


```
>C=[2,2]; plotPoint(C,"C"):
```

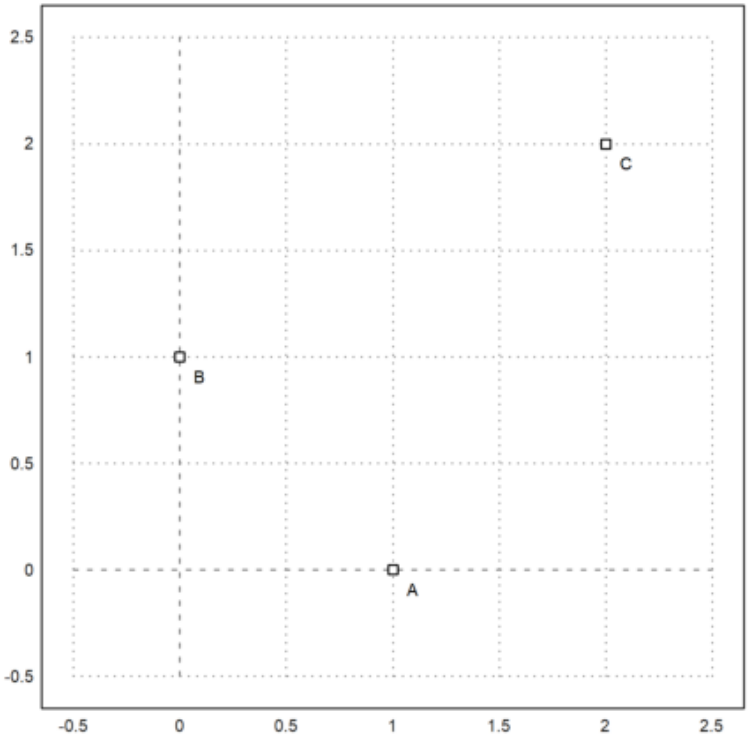

Lalu tiga segmen

```
>plotSegment(A,B,"c"): // c=AB
```

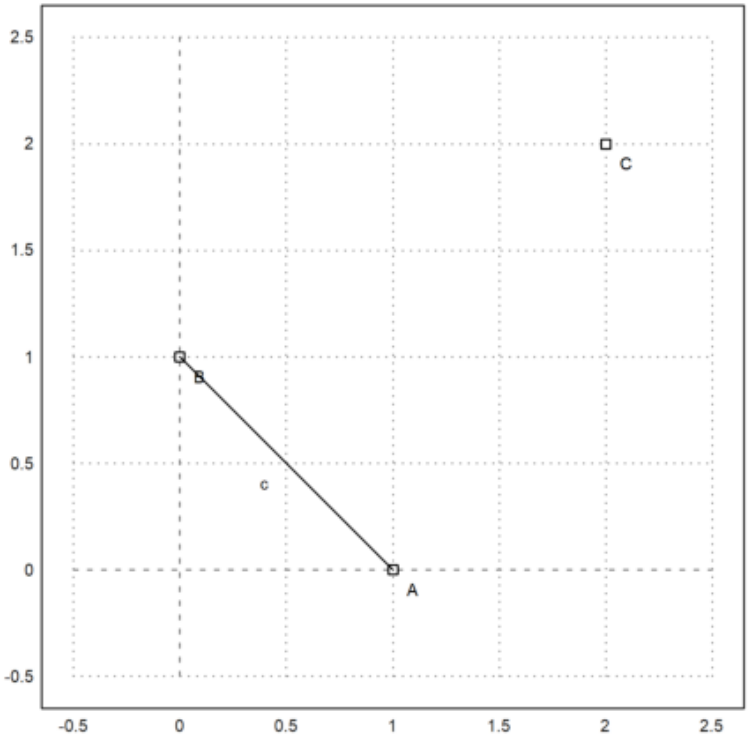


```
>plotSegment(B,C,"a"): // a=BC
```

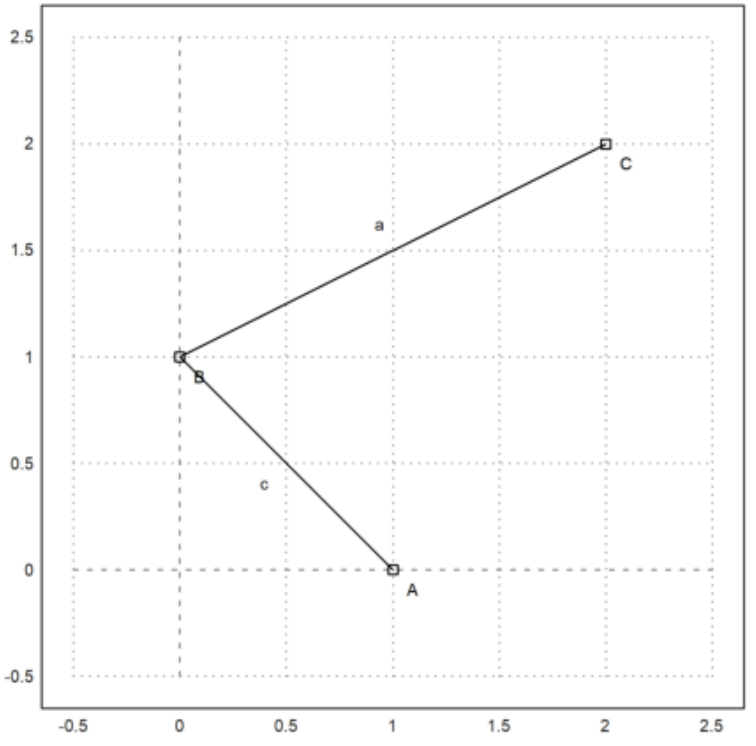


```
>plotSegment(A,C,"b"): // b=AC
```

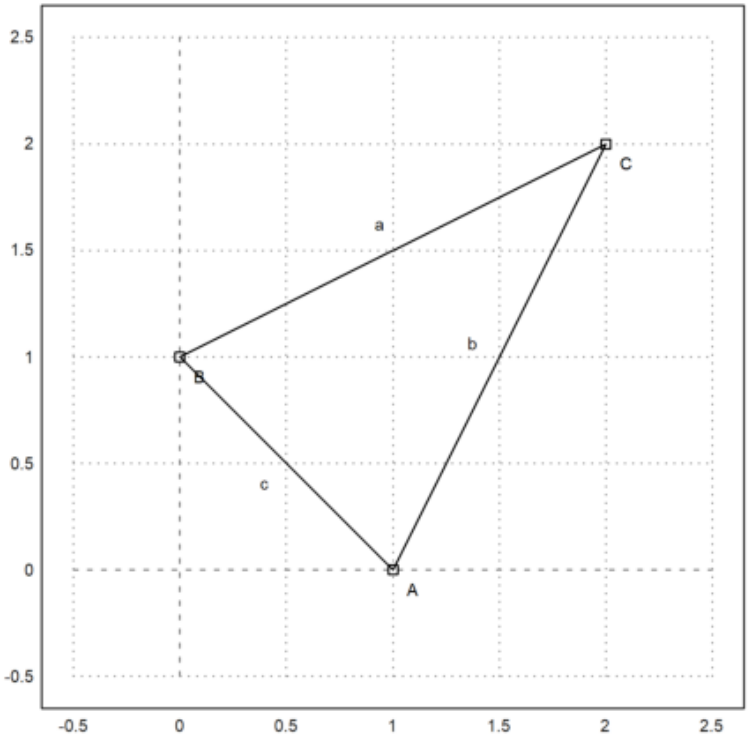

Fungsi geometri meliputi fungsi membuat garis dan lingkaran. Format barisnya adalah [a,b,c], yang mewakili garis dengan persamaan ax+by=c

```
>lineThrough(B,C) // garis yang melalui B dan C
```

```
[-1,  2,  2]
```

Hitung garis tegak lurus yang melalui A pada BC.
lingkaran. Format barisnya adalah [a,b,c], yang mewakili garis dengan persamaan ax+by=c

```
>h=perpendicular(A,lineThrough(B,C)): // garis h tegak lurus BC melalui A
```

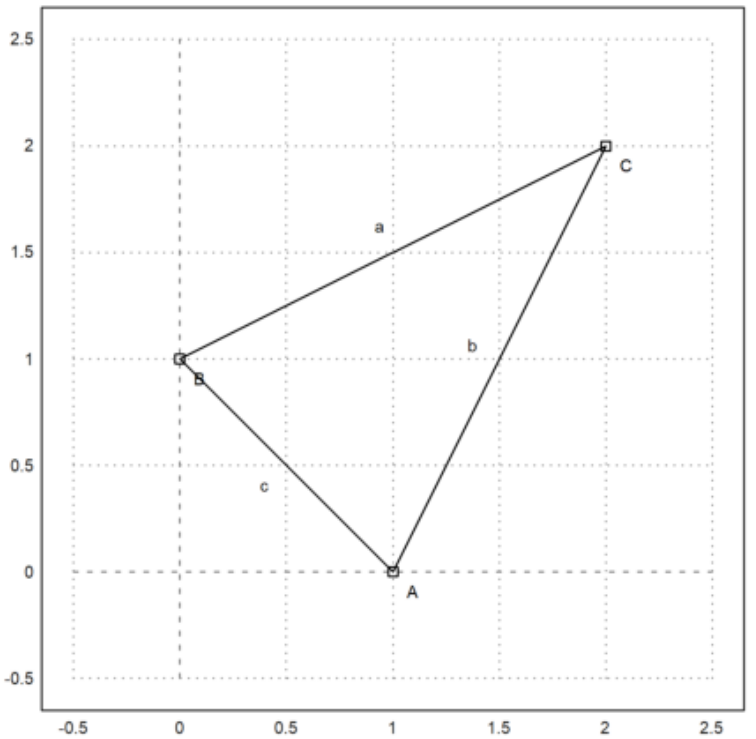

Dan perpotongannya dengan BC

```
>D=lineIntersection(h,lineThrough(B,C)): // D adalah titik potong h dan BC
```

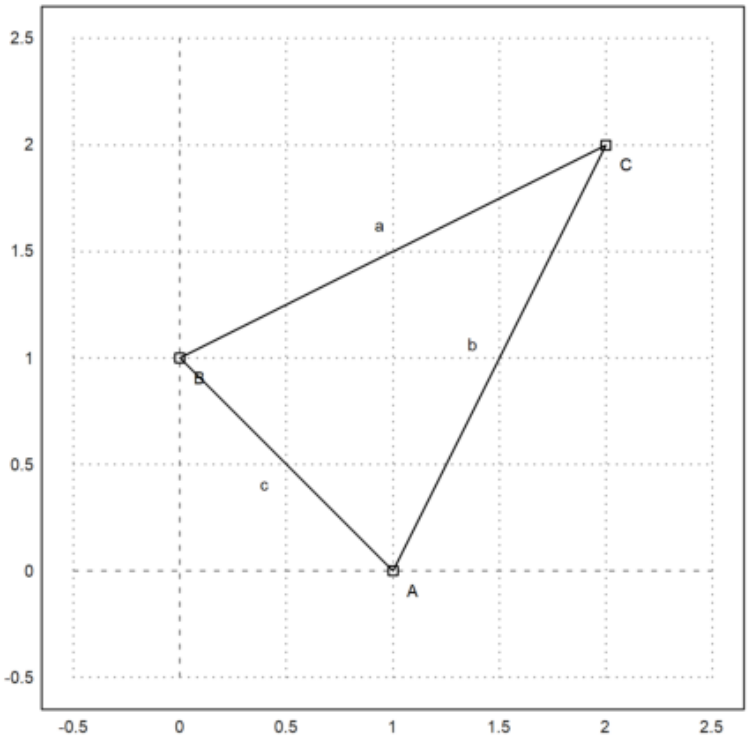

Plot itu

```
>plotPoint(D,value=1): // koordinat D ditampilkan
```

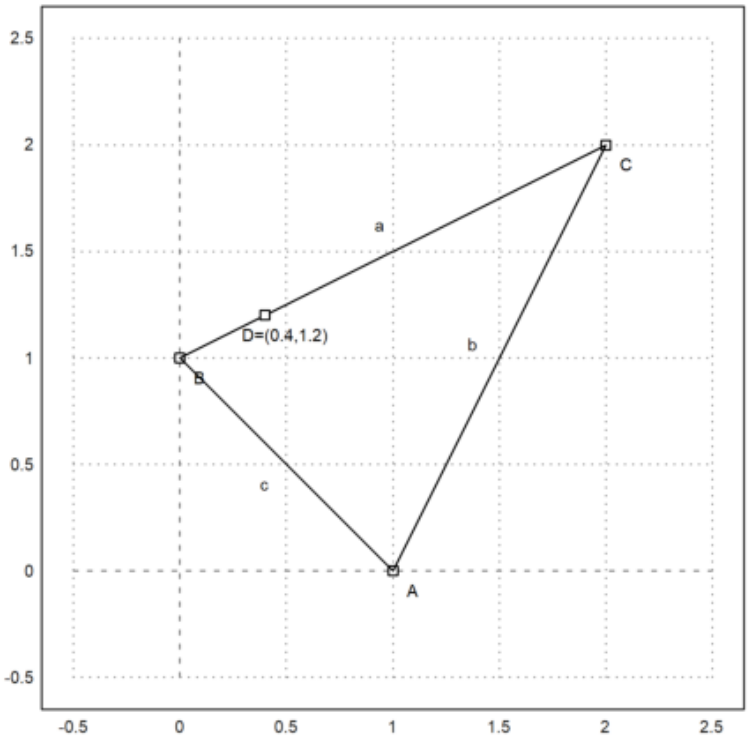

```
>aspect(1); plotSegment(A,D): // tampilkan semua gambar hasil plot...()
```

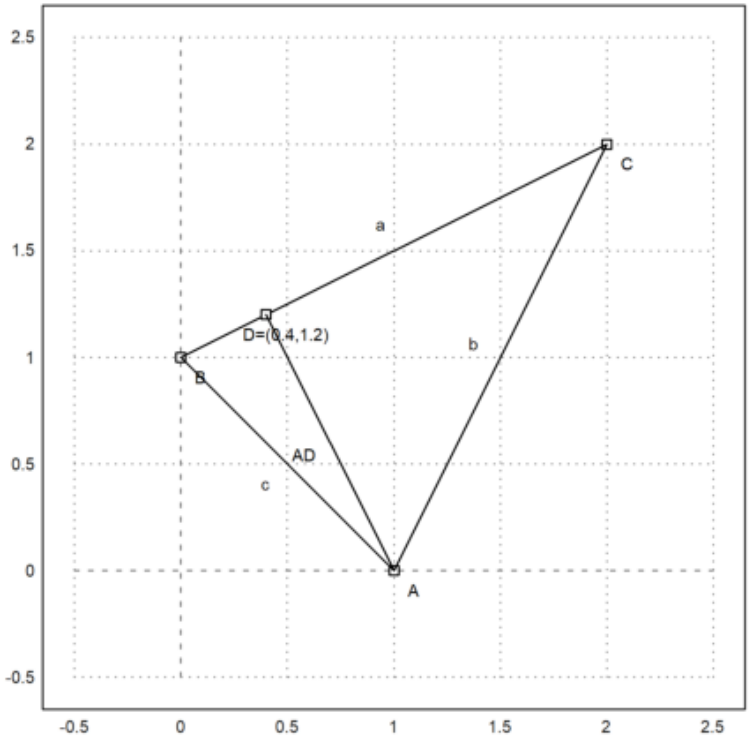

Hitung luas ABC:

$$L_{\triangle ABC} = \frac{1}{2} AD.BC.$$

```
>norm(A-D)*norm(B-C)/2 // AD=norm(A-D), BC=norm(B-C)
```

```
  1.5
```

Bandingkan dengan rumus determinan.

```
>areaTriangle(A,B,C) // hitung luas segitiga langusng dengan fungsi
```

```
  1.5
```

Cara lain menghitung luas segitigas ABC:

```
>distance(A,D)*distance(B,C)/2
```

```
  1.5
```

Sudut di C.

```
>degprint(computeAngle(B,C,A))
```

```
  36°52’11.63’’
```

Sekarang lingkaran luar segitiga.

```
>c=circleThrough(A,B,C); // lingkaran luar segitiga ABC
>R=getCircleRadius(c); // jari2 lingkaran luar
>O=getCircleCenter(c); // titik pusat lingkaran c
>plotPoint(O,"O"); // gambar titik "O"
>plotCircle(c,"Lingkaran luar segitiga ABC"):
```

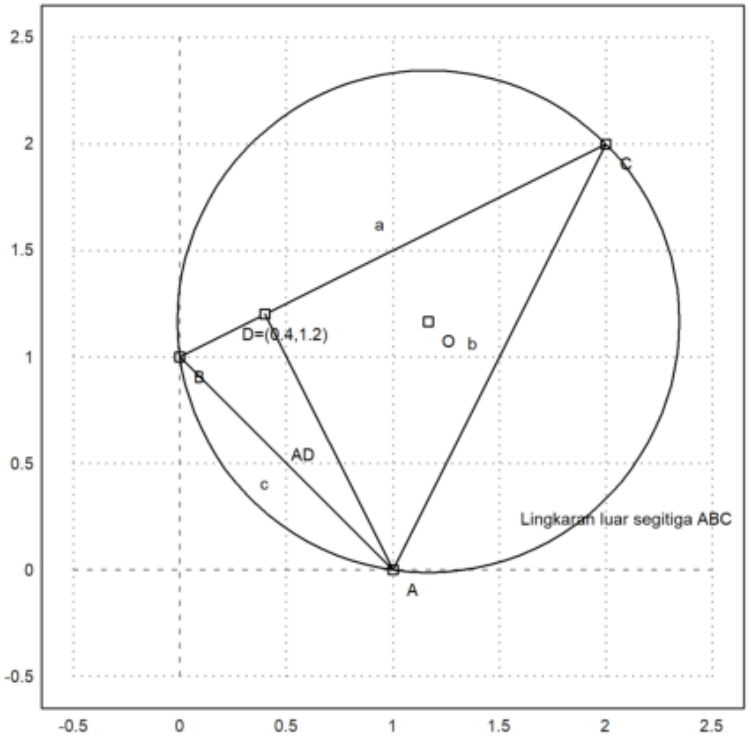

Tampilkan koordinat titik pusat dan jari-jari lingkaran luar.

```
>O, R
```

```
  [1.16667,  1.16667]
  1.17851130198
```

Sekarang akan digambar lingkaran dalam segitiga ABC. Titik pusat lingkaran dalam adalah titik potong garis-garis bagi sudut.

```
>l=angleBisector(A,C,B); // garis bagi <ACB
>g=angleBisector(C,A,B); // garis bagi <CAB
>P=lineIntersection(l,g) // titik potong kedua garis bagi sudut
```

```
  [0.86038,  0.86038]
```

Tambahkan semuanya ke plot

```
>color(5); plotLine(l); plotLine(g); color(1); // gambar kedua garis bagi sudut
>plotPoint(P,"P"); // gambar titik potongnya
>r=norm(P-projectToLine(P,lineThrough(A,B))) // jari-jari lingkaran dalam
```

```
  0.509653732104
```

```
>plotCircle(circleWithCenter(P,r),"Lingkaran dalam segitiga ABC"): // gambar lingkaran dalam
```

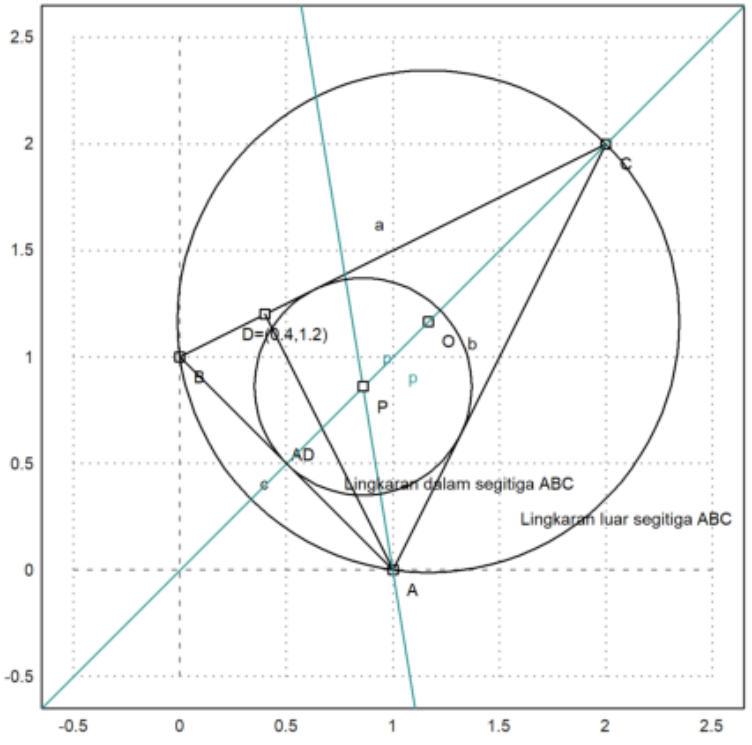
2.5
2
1.5
1
0.5
0
-0.5
-0.5
0
0.5
1
1.5
2
2.5
a
C
D=(0.4,1.2)
O
b
B
P
AD
c
Lingkaran dalam segitiga ABC
Lingkaran luar segitiga ABC
A

Latihan

1. Tentukan ketiga titik singgung lingkaran dalam dengan sisi-sisi segitiga ABC.
2. Gambar segitiga dengan titik-titik sudut ketiga titik singgung tersebut. Merupakan segitiga apakah itu?
3. Hitung luas segitiga tersebut.
4. Tunjukkan bahwa garis bagi sudut yang ke tiga juga melalui titik pusat lingkaran dalam.
5. Gambar jari-jari lingkaran dalam.
6. Hitung luas lingkaran luar dan luas lingkaran dalam segitiga ABC. Adakah hubungan antara luas kedua lingkaran tersebut dengan luas segitiga ABC?

Penyelesaian:
1. Tentukan ketiga titik singgung lingkaran dalam dengan sisi-sisi segitiga ABC.

```
>load geometry
```

```
  Numerical and symbolic geometry.
```

```
>setPlotRange(-1.5,3.5,-1.5,3.5);
>A=[-1,1]; plotPoint(A,"A"):
```

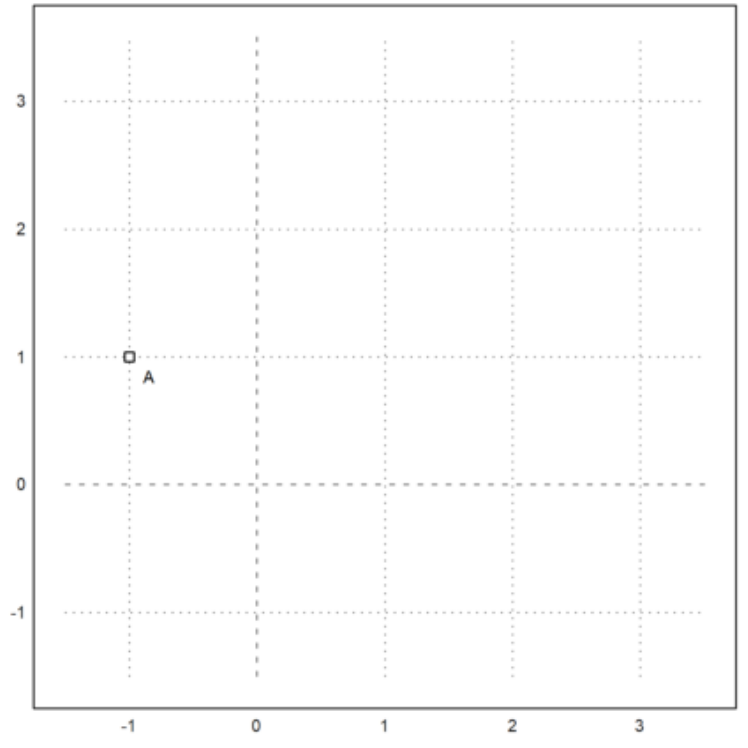


```
>B=[1,-1]; plotPoint(B,"B"):
```

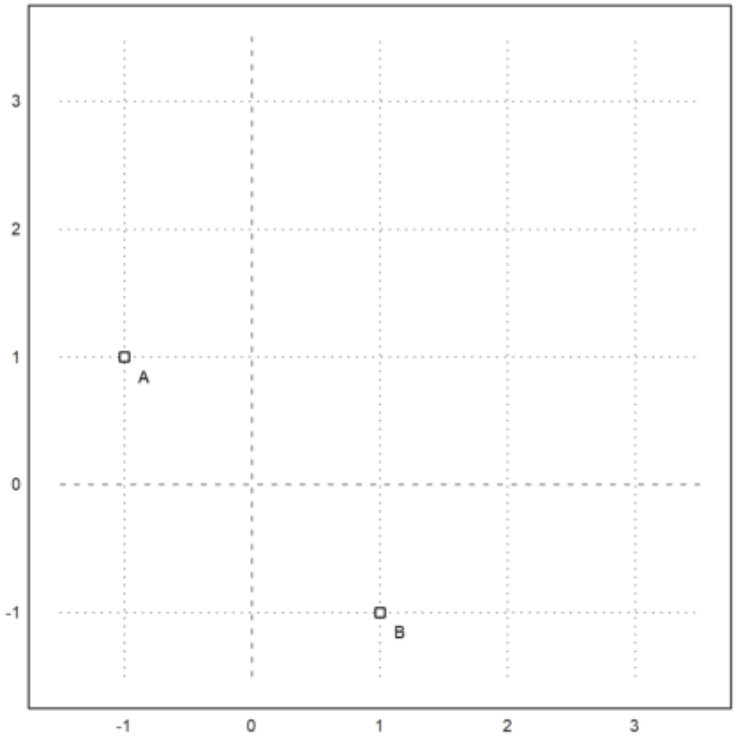


```
>C=[3,3]; plotPoint(C,"C"):
```

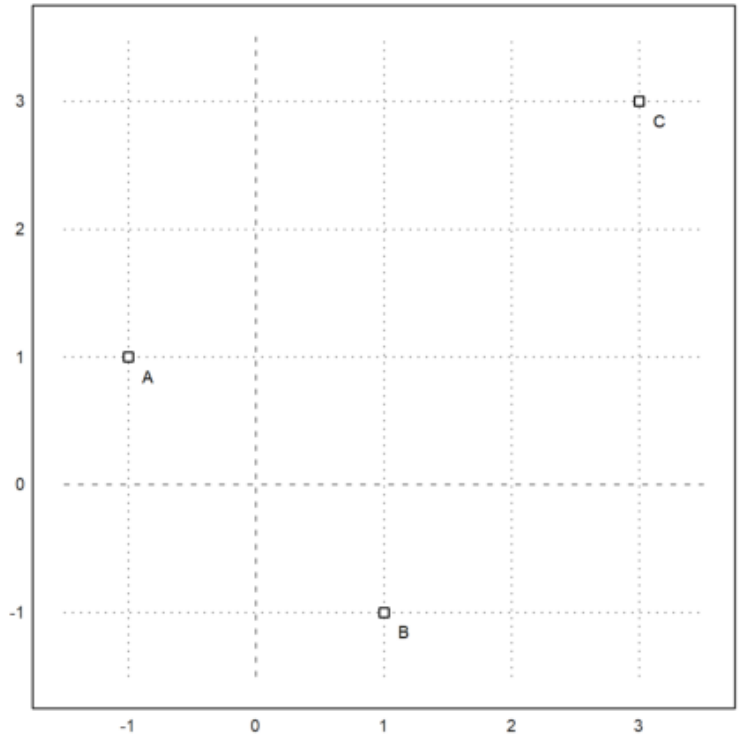

2. Gambar segitiga dengan titik-titik sudut ketiga titik singgung tersebut

```
>plotSegment(A,B,"a")
>plotSegment(B,C,"b")
>plotSegment(A,C,"c")
>aspect(1):
```

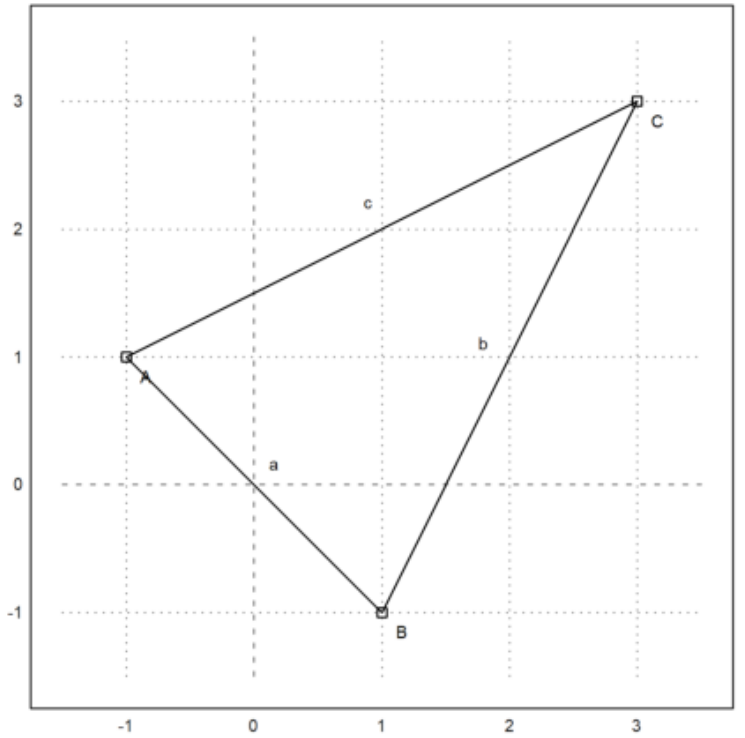

3. Hitung luas segitiga .

```
>areaTriangle(A,B,C)
```

```
>distance(A,D)*distance(B,C)/2
```

```
  3.16227766017
```

4. Tunjukkan bahwa garis bagi sudut yang ke tiga juga melalui titik pusat lingkaran dalam.

```
>l=angleBisector(A,C,B);
>g=angleBisector(C,A,B);
>P=lineIntersection(l,g)
```

```
  [0.720759,  0.720759]
```

```
>color(5); plotLine(l); plotLine(g); color(1);
>plotPoint(P,"P");
>plotCircle(circleWithCenter(P,r),"Lingkaran dalam segitiga ABC"):
```

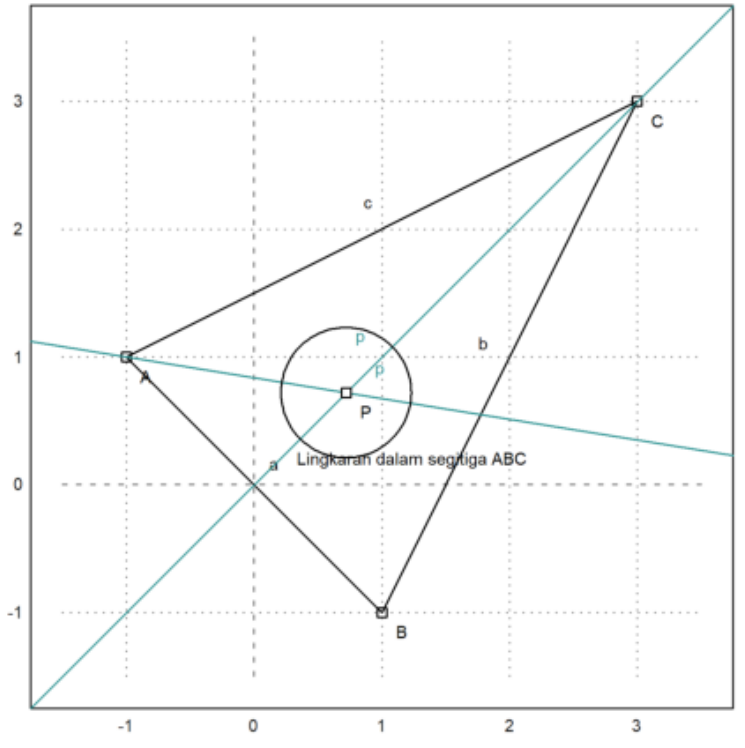

5. Gambar jari-jari lingkaran dalam.

```
>r=norm(P-projectToLine(P,lineThrough(A,B)))
```

```
1.01930746421
```

```
>plotCircle(circleWithCenter(P,r),"Lingkaran dalam segitiga ABC"):
```

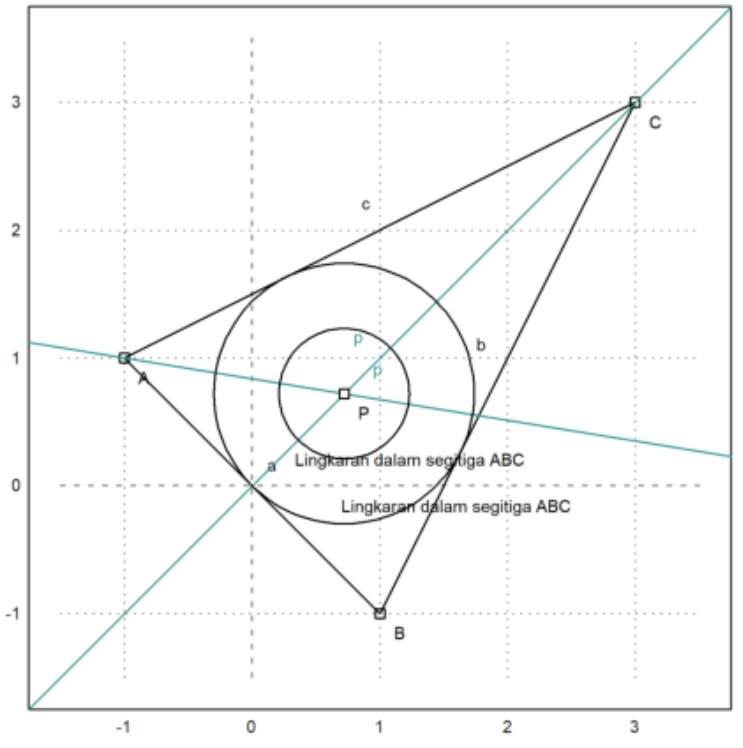

6. Hitung luas lingkaran luar dan luas lingkaran dalam segitiga ABC. Adakah hubungan antara luas kedua lingkaran tersebut dengan luas segitiga ABC?

Contoh 2: Geometri Smbolik

Kita dapat menghitung geometri secara numerik dan simbolik menggunakan Maxima.
File geometry.e menyediakan fungsi yang sama (dan lebih banyak lagi) di Maxima. Namun, kita dapat menggunakan perhitungan simbolik sekarang.

```
>A &= [1,0]; B &= [0,1]; C &= [2,2]; // menentukan tiga titik A, B, C
```

Fungsi untuk garis dan lingkaran bekerja seperti fungsi Euler, tetapi menyediakan penghitungan simbolik.

```
>c &= lineThrough(B,C) // c=BC
```

```
[- 1, 2, 2]
```

Kita bisa mendapatkan persamaan untuk sebuah garis dengan mudah

```
>$getLineEquation(c,x,y), $solve(%,y) | expand // persamaan garis c
```

$$2\,y - x = 2$$

$$\left[y = \frac{x}{2} + 1\right]$$

```
>$getLineEquation(lineThrough([x1,y1],[x2,y2]),x,y), $solve(%,y) // persamaan garis melalui(x1, y1)
```

$$x\ (y_1 - y_2) + (x_2 - x_1)\ y = x_1\ (y_1 - y_2) + (x_2 - x_1)\ y_1$$

$$\left[y = \frac{-(x_1 - x)\ y_2 - (x - x_2)\ y_1}{x_2 - x_1}\right]$$

```
>$getLineEquation(lineThrough(A,[x1,y1]),x,y) // persamaan garis melalui A dan (x1, y1)
```

$$(x_1 - 1)\ y - x\ y_1 = -y_1$$

```
>h &= perpendicular(A,lineThrough(B,C)) // h melalui A tegak lurus BC
```

```
[2, 1, 2]
```

```
>Q &= lineIntersection(c,h) // Q titik potong garis c=BC dan h
```

$$\left[\frac{2}{5}, \frac{6}{5}\right]$$

```
>$projectToLine(A,lineThrough(B,C)) // proyeksi A pada BC
```

$$\left[\frac{2}{5}, \frac{6}{5}\right]$$

```
>$distance(A,Q) // jarak AQ
```

$$\frac{3}{\sqrt{5}}$$

```
>cc &= circleThrough(A,B,C); $cc // (titik pusat dan jari-jari) lingkaran melalui A, B, C
```

$$\left[\frac{7}{6}, \frac{7}{6}, \frac{5}{3\sqrt{2}}\right]$$

```
>r&=getCircleRadius(cc); $r , $float(r) // tampilkan nilai jari-jari
```

$$\frac{5}{3\sqrt{2}}$$

$$1.178511301977579$$

```
>$computeAngle(A,C,B) // nilai <ACB
```

$$\arccos\left(\frac{4}{5}\right)$$

```
>$solve(getLineEquation(angleBisector(A,C,B),x,y),y)[1] // persamaan garis bagi <ACB
```

$$y = x$$

```
>P &= lineIntersection(angleBisector(A,C,B),angleBisector(C,B,A)); $P // titik potong 2 garis bagi s
```

$$\left[\frac{\sqrt{2}\sqrt{5}+2}{6}, \frac{\sqrt{2}\sqrt{5}+2}{6}\right]$$

```
>P() // hasilnya sama dengan perhitungan sebelumnya
```

```
  [0.86038,  0.86038]
```

Garis dan Lingkaran yang Berpotongan

Tentu saja, kita juga bisa memotong garis dengan lingkaran, dan lingkaran dengan lingkaran.

```
>A &:= [1,0]; c=circleWithCenter(A,4);
>B &:= [1,2]; C &:= [2,1]; l=lineThrough(B,C);
>setPlotRange(5); plotCircle(c); plotLine(l):
```

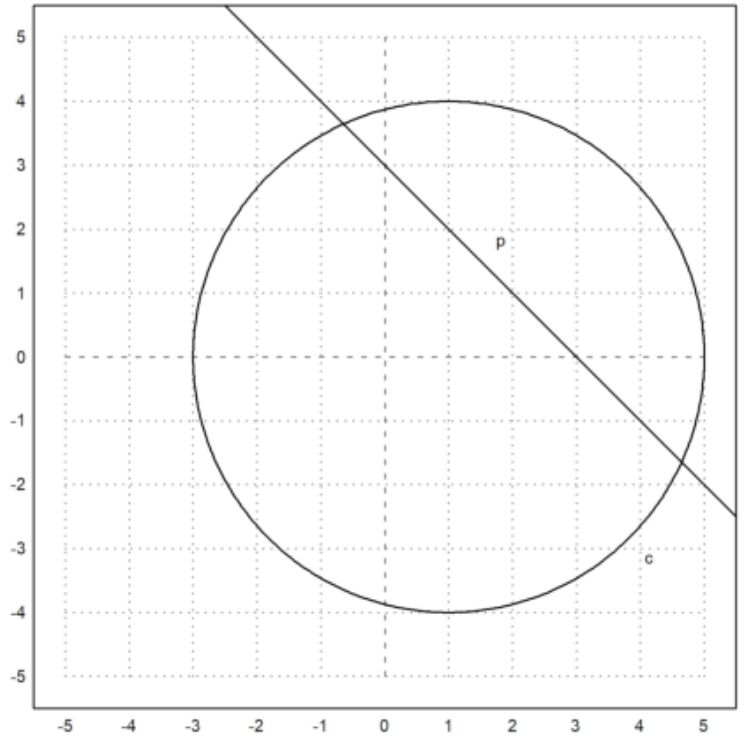

Perpotongan garis dengan lingkaran mengembalikan dua titik dan jumlah titik perpotongan.

```
>{P1,P2,f}=lineCircleIntersections(l,c);
>P1, P2, f
```

```
[4.64575,  -1.64575]
[-0.645751,  3.64575]
2
```

```
>plotPoint(P1); plotPoint(P2):
```

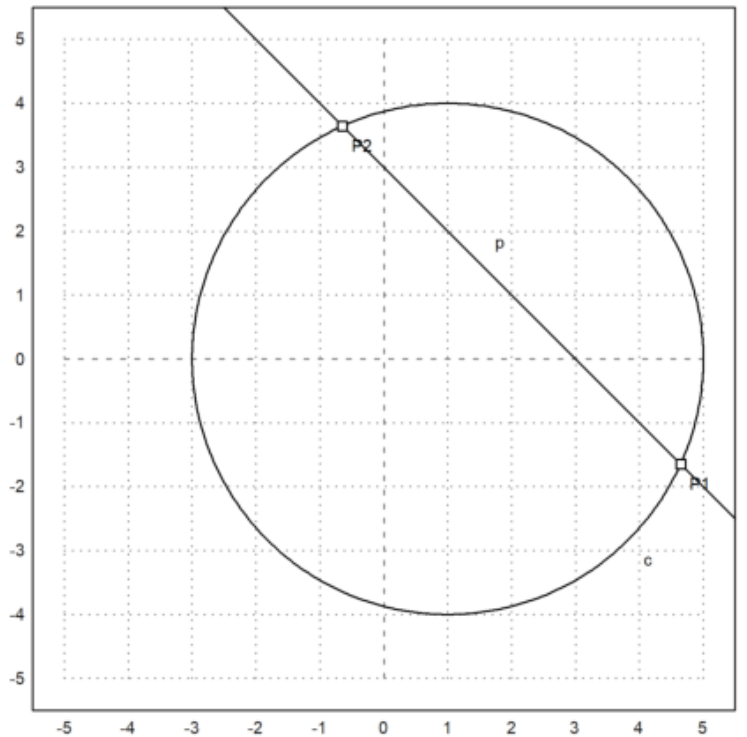

Hal yang sama di Maxima

```
>c &= circleWithCenter(A,4) // lingkaran dengan pusat A jari-jari 4
```

[1, 0, 4]

```
>l &= lineThrough(B,C) // garis l melalui B dan C
```

[1, 1, 3]

```
>$lineCircleIntersections(l,c) | radcan, // titik potong lingkaran c dan garis l
```

$$\left[\left[\sqrt{7}+2, 1-\sqrt{7}\right], \left[2-\sqrt{7}, \sqrt{7}+1\right]\right]$$

Akan ditunjukkan bahwa sudut-sudut yang menghadap bsuusr yang sama adalah sama besar.

```
>C=A+normalize([-2,-3])*4; plotPoint(C); plotSegment(P1,C); plotSegment(P2,C);
>degprint(computeAngle(P1,C,P2))
```

```
  69°17’42.68’’
```

```
>C=A+normalize([-4,-3])*4; plotPoint(C); plotSegment(P1,C); plotSegment(P2,C);
>degprint(computeAngle(P1,C,P2))
```

```
  69°17’42.68’’
```

```
>insimg;
```

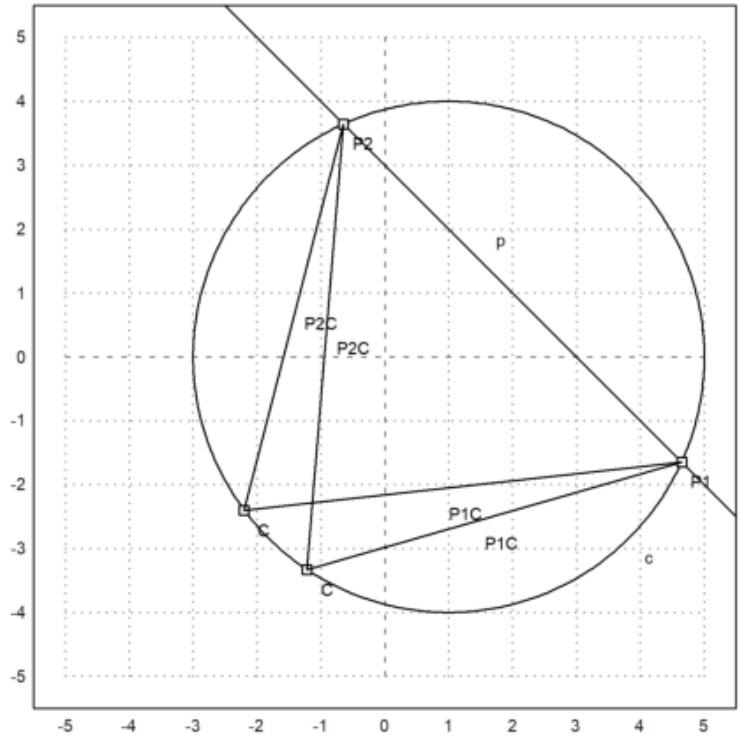
P2
p
P2C
P2C
P1
P1C
P1C
C
C
c

Berikut adalah langkah-langkah menggambar garis sumbu ruas garis AB:

1. Gambar lingkaran dengan pusat A melalui B.
2. Gambar lingkaran dengan pusat B melalui A.
3. Tarik garis melallui kedua titik potong kedua lingkaran tersebut. Garis ini merupakan garis sumbu (melalui titik tengah dan tegak lurus) AB.

```
>A=[2,2]; B=[-1,-2];
>c1=circleWithCenter(A,distance(A,B));
>c2=circleWithCenter(B,distance(A,B));
>{P1,P2,f}=circleCircleIntersections(c1,c2);
>l=lineThrough(P1,P2);
>setPlotRange(5); plotCircle(c1); plotCircle(c2):
```

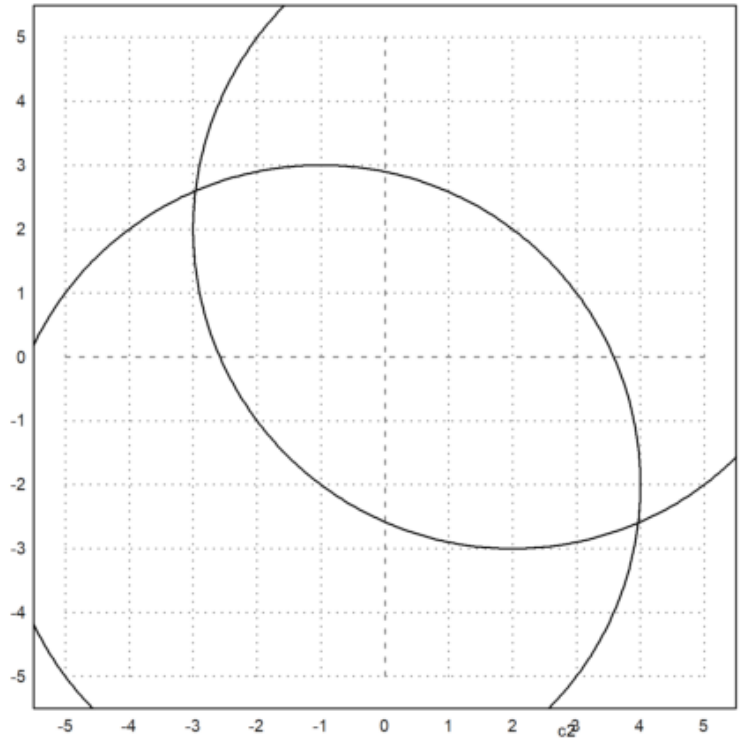


```
>plotPoint(A); plotPoint(B); plotSegment(A,B); plotLine(l):
```

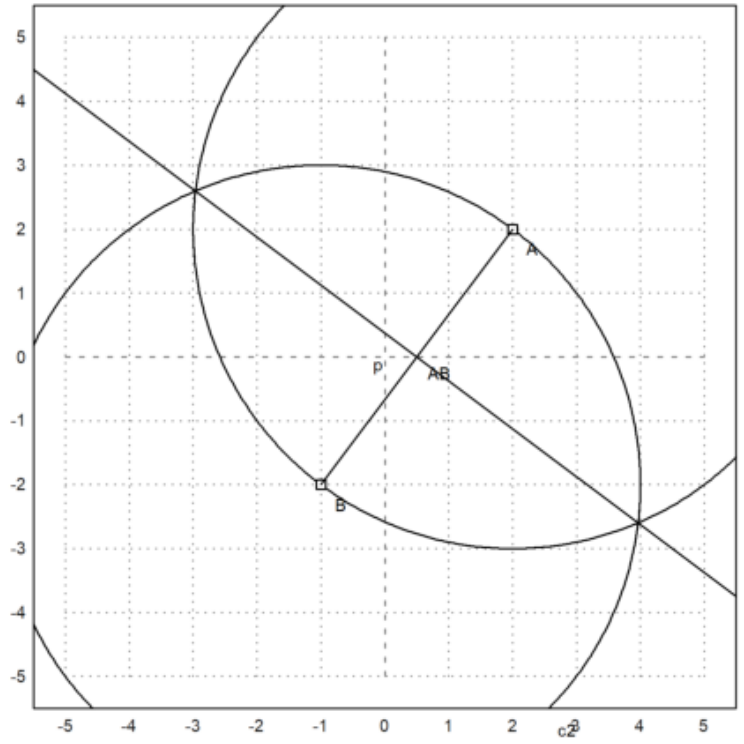

Selanjutnya, kami melakukan hal yang sama di Maxima dengan koordinat umum.

```
>A &= [a1,a2]; B &= [b1,b2];
>c1 &= circleWithCenter(A,distance(A,B));
>c2 &= circleWithCenter(B,distance(A,B));
>P &= circleCircleIntersections(c1,c2); P1 &= P[1]; P2 &= P[2];
```

Persamaan untuk titik potongnya cukup rumit. Tapi kita bisa menyederhanakan, jika kita menyelesaikan y.

```
>g &= getLineEquation(lineThrough(P1,P2),x,y);
>$solve(g,y)
```

$$\left[y=\frac{-\left(2\,b_1-2\,a_1\right)\,x+{b_2}^2+{b_1}^2-{a_2}^2-{a_1}^2}{2\,b_2-2\,a_2}\right]$$

Ini memang sama dengan tengah tegak lurus, yang dihitung dengan cara yang sama sekali berbeda

```
>$solve(getLineEquation(middlePerpendicular(A,B),x,y),y)
```

$$\left[y=\frac{-\left(2\,b_1-2\,a_1\right)\,x+{b_2}^2+{b_1}^2-{a_2}^2-{a_1}^2}{2\,b_2-2\,a_2}\right]$$

```
>h &=getLineEquation(lineThrough(A,B),x,y);
>$solve(h,y)
```

$$\left[y=\frac{\left(b_2-a_2\right)\,x-a_1\,b_2+a_2\,b_1}{b_1-a_1}\right]$$

Perhatikan hasil kali gradien garis g dan h adalah:

$$\frac{-(b_1-a_1)}{(b_2-a_2)} \times \frac{(b_2-a_2)}{(b_1-a_1)} = -1.$$

Artinya kedua garis tegak lurus.

```
>load geometry
```

```
  Numerical and symbolic geometry.
```

Contoh 3: Rumus Heron

Rumus Heron menyatakan bahwa luas segitiga dengan panjang sisi-sisi a, b dan c adalah:

$$L = \sqrt{s(s-a)(s-b)(s-c)} \quad \text{dengan } s = (a+b+c)/2,$$

atau bisa ditulis dalam bentuk lain:

$$L = \frac{1}{4}\sqrt{(a+b+c)(b+c-a)(a+c-b)(a+b-c)}$$

Untuk membuktikan hal ini kita misalkan C(0,0), B(a,0) dan A(x,y), b=AC, c=AB. Luas segitiga ABC adalah

$$L_{\triangle ABC} = \frac{1}{2}a \times y.$$

Nilai y didapat dengan menyelesaikan sistem persamaan:

$$x^2 + y^2 = b^2, \quad (x-a)^2 + y^2 = c^2.$$

```
>setPlotRange(-1,10,-1,8); plotPoint([0,0], "C(0,0)"); plotPoint([5.5,0], "B(a,0)");  ...
> plotPoint([7.5,6], "A(x,y)"):
```

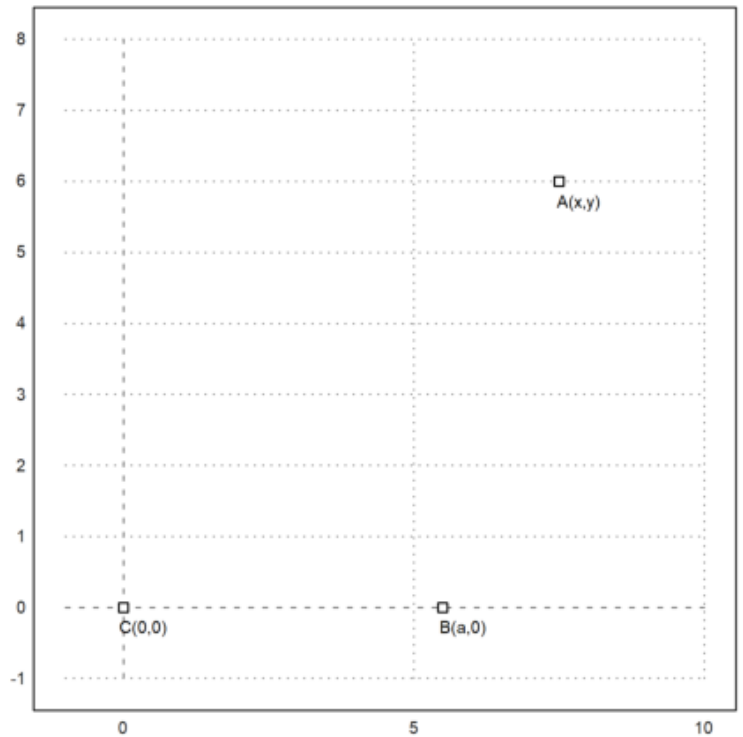

```
>plotSegment([0,0],[5.5,0], "a",25); plotSegment([5.5,0],[7.5,6],"c",15);  ...
>plotSegment([0,0],[7.5,6],"b",25);
>plotSegment([7.5,6],[7.5,0],"t=y",25):
```

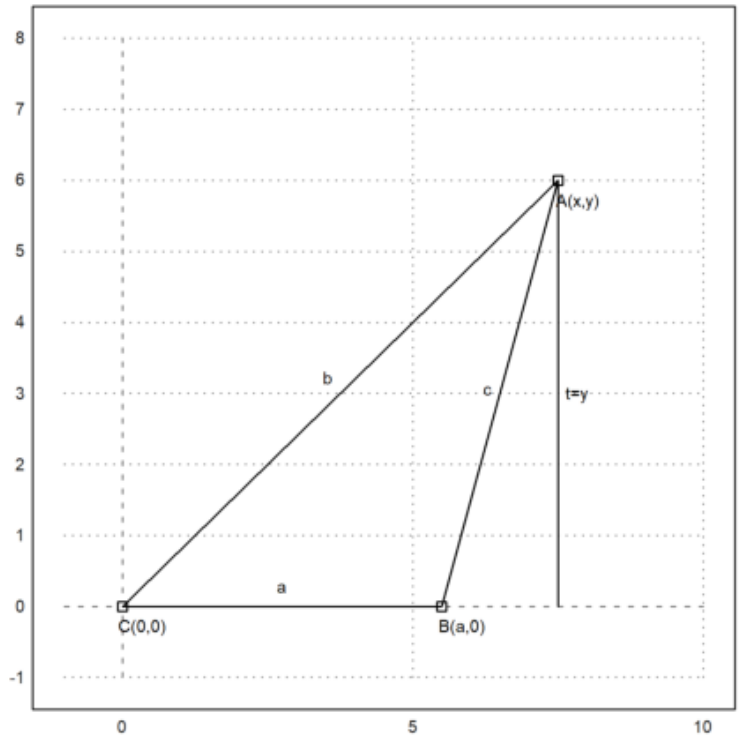

```
>&assume(a>0); sol &= solve([x^2+y^2=b^2,(x-a)^2+y^2=c^2],[x,y])
```

[]

Substitusi solusi y.

```
>ysol &= y with sol[2][2]; $'y=sqrt(factor(ysol^2))
```

```
Maxima said:
part: invalid index of list or matrix.
 -- an error. To debug this try: debugmode(true);

Error in:
ysol &= y with sol[2][2]; $'y=sqrt(factor(ysol^2)) ...
                          ^
```

Kami mendapatkan formula Heron.
ak lurus, yang dihitung dengan cara yang sama sekali berbeda

```
>function H(a,b,c) &= sqrt(factor((ysol*a/2)^2)); $'H(a,b,c)=H(a,b,c)
```

$$H\left(a,b,[1,0,4]\right)=\frac{a\ |ysol|}{2}$$

```
>$'Luas=H(2,5,6) // luas segitiga dengan panjang sisi-sisi 2, 5, 6
```

$$Luas = |ysol|$$

Tentu saja, setiap segitiga persegi panjang adalah kasus yang terkenal.

```
>H(3,4,5) //luas segitiga siku-siku dengan panjang sisi 3, 4, 5
```

```
Variable or function ysol not found.
Try "trace errors" to inspect local variables after errors.
H:
    useglobal; return a*abs(ysol)/2
Error in:
H(3,4,5) //luas segitiga siku-siku dengan panjang sisi 3, 4, 5 ...
        ^
```

Dan jelas juga, bahwa ini adalah segitiga dengan luas maksimal dan kedua sisinya 3 dan 4.

```
>aspect (1.5); plot2d(&H(3,4,x),1,7): // Kurva luas segitiga sengan panjang sisi 3, 4, x (1<= x <=7)
```

```
Variable or function ysol not found.
Error in expression: 3*abs(ysol)/2
 %ploteval:
    y0=f$(x[1],args());
adaptiveevalone:
    s=%ploteval(g$,t;args());
Try "trace errors" to inspect local variables after errors.
plot2d:
    dw/n,dw/n^2,dw/n,auto;args());
```

Kasus umum juga berfungsi.

```
>$solve(diff(H(a,b,c)^2,c)=0,c)
```

```
Maxima said:
diff: second argument must be a variable; found [1,0,4]
 -- an error. To debug this try: debugmode(true);

Error in:
 $solve(diff(H(a,b,c)^2,c)=0,c) ...
                               ^
```

Sekarang mari kita cari himpunan semua titik di mana b+c=d untuk beberapa konstanta d. Diketahui bahwa ini adalah elips.

```
>s1 &= subst(d-c,b,sol[2]); $s1
```

```
Maxima said:
part: invalid index of list or matrix.
 -- an error. To debug this try: debugmode(true);

Error in:
s1 &= subst(d-c,b,sol[2]); $s1 ...
                           ^
```

Dan buat fungsi dengan ini

```
>function fx(a,c,d) &= rhs(s1[1]); $fx(a,c,d), function fy(a,c,d) &= rhs(s1[2]); $fy(a,c,d)
```

0

Sekarang kita bisa menggambar setnya. Sisi b bervariasi dari 1 hingga 4. Diketahui bahwa kita mendapatkan elips.

```
>aspect(1); plot2d(&fx(3,x,5),&fy(3,x,5),xmin=1,xmax=4,square=1):
```

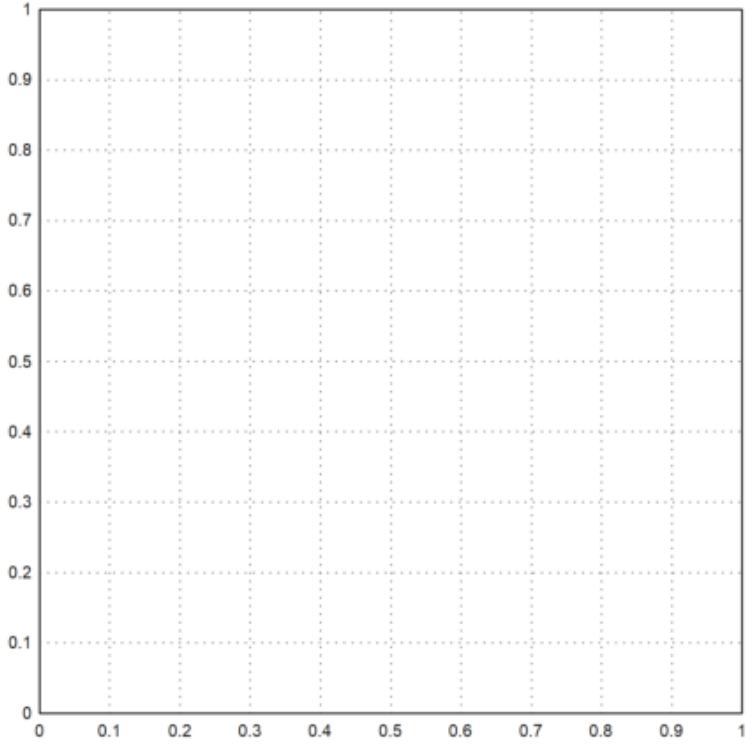

Kita dapat memeriksa persamaan umum elips ini, yaitu

$$\frac{(x-x_m)^2}{u^2}+\frac{(y-y_m)}{v^2}=1,$$

di mana (xm,ym) adalah pusat, dan u dan v adalah setengah sumbu.

```
>$ratsimp((fx(a,c,d)-a/2)^2/u^2+fy(a,c,d)^2/v^2 with [u=d/2,v=sqrt(d^2-a^2)/2])
```

$$\frac{a^2}{d^2}$$

Kita melihat bahwa tinggi dan luas segitiga adalah maksimal untuk x=0. Jadi luas segitiga dengan a+b+c=d adalah maksimal, jika sama sisi. Kami ingin mendapatkan ini secara analitis.

```
>eqns &= [diff(H(a,b,d-(a+b))^2,a)=0,diff(H(a,b,d-(a+b))^2,b)=0]; $eqns
```

$$\left[\frac{a\ ysol^2}{2}=0,0=0\right]$$

Kami mendapatkan beberapa minima, yang termasuk dalam segitiga dengan satu sisi 0, dan solusi a=b=c=d/3.

```
>$solve(eqns,[a,b])
```

$$[[a=0,b=\%r_1]]$$

Ada juga metode Lagrange, memaksimalkan H (a,b,c)^2 terhadap a+b+d=d.

```
>&solve([diff(H(a,b,c)^2,a)=la,diff(H(a,b,c)^2,b)=la, ...
>   diff(H(a,b,c)^2,c)=la,a+b+c=d],[a,b,c,la])
```

```
Maxima said:
diff: second argument must be a variable; found [1,0,4]
 -- an error. To debug this try: debugmode(true);

Error in:
... la,    diff(H(a,b,c)^2,c)=la,a+b+c=d],[a,b,c,la]) ...
                                          ^
```

Kita bisa membuat plot dari situasinya

Pertama, atur titik di Maxima.

```
>A &= at([x,y],sol[2]); $A
```

```
Maxima said:
part: invalid index of list or matrix.
 -- an error. To debug this try: debugmode(true);

Error in:
A &= at([x,y],sol[2]); $A ...
                      ^
```

```
>B &= [0,0]; $B, C &= [a,0]; $C
```

$$[a,0]$$

Kemudian atur rentang plot, dan plot titiknya.

```
>setPlotRange(0,5,-2,3); ...
>a=4; b=3; c=2; ...
>plotPoint(mxmeval("B"),"B"); plotPoint(mxmeval("C"),"C"); ...
>plotPoint(mxmeval("A"),"A"):
```

```
Variable a1 not found!
Use global variables or parameters for string evaluation.
Error in Evaluate, superfluous characters found.
Try "trace errors" to inspect local variables after errors.
mxmeval:
    return evaluate(mxm(s));
Error in:
... otPoint(mxmeval("C"),"C"); plotPoint(mxmeval("A"),"A"): ...
                                                          ^
```

Plot segmennya

```
>plotSegment(mxmeval("A"),mxmeval("C")); ...
>plotSegment(mxmeval("B"),mxmeval("C")); ...
>plotSegment(mxmeval("B"),mxmeval("A")):
```

```
Variable a1 not found!
Use global variables or parameters for string evaluation.
Error in Evaluate, superfluous characters found.
Try "trace errors" to inspect local variables after errors.
mxmeval:
    return evaluate(mxm(s));
Error in:
plotSegment(mxmeval("A"),mxmeval("C")); plotSegment(mxmeval("B ...
                        ^
```

Hitung bagian tengah tegak lurus di Maxima.

```
>h &= middlePerpendicular(A,B); g &= middlePerpendicular(B,C);
```

Dan bagian tengah dari keliling.

```
>U &= lineIntersection(h,g);
```

Kami mendapatkan rumus untuk jari-jari lingkaran.

```
>&assume(a>0,b>0,c>0); $distance(U,B) | radcan
```

$$\frac{\sqrt{{a_2}^2+{a_1}^2}\,\sqrt{{a_2}^2+{a_1}^2-2\,a\,a_1+a^2}}{2\,\left|a_2\right|}$$

Mari kita tambahkan ini ke plot.

```
>plotPoint(U()); ...
>plotCircle(circleWithCenter(mxmeval("U"),mxmeval("distance(U,C)"))):
```

```
Variable a2 not found!
Use global variables or parameters for string evaluation.
Error in ^
Error in expression: [a/2,(a2^2+a1^2-a*a1)/(2*a2)]
Error in:
plotPoint(U()); plotCircle(circleWithCenter(mxmeval("U"),mxmev ...
             ^
```

Menggunakan geometri, kami memperoleh rumus sederhana

$$\frac{a}{\sin(\alpha)} = 2r$$

untuk jari-jari. Kami dapat memeriksa, apakah ini benar dengan Maxima. Maxima akan memfaktorkannya hanya jika kita mengkuadratkannya.

```
>$c^2/sin(computeAngle(A,B,C))^2  | factor
```

$$\left[\frac{{a_2}^2+{a_1}^2}{{a_2}^2}, 0, \frac{16\left({a_2}^2+{a_1}^2\right)}{{a_2}^2}\right]$$

Contoh 4: Garis Euler dan Parabola

Garis euler adalah garis yang ditentukan dari segitiga yang tidak sama sisi. Ini adalah garis tengah segitiga,dan melewati beberapa titik penting yang ditentukan dari segitiga, termasuk pusat ortosentrum, circumcenter, centroid, titik Exeter dan pusat lingkaran sembilan titik segitiga.

Untuk demonstrasi, kami menghitung dan memplot garis Euler dalam segitiga.
Pertama, kami menentukan sudut segitiga di Euler.

Kami menggunakan definisi, yang terlihat secara ekspresi simbolis

```
>A::=[-1,-1]; B::=[2,0]; C::=[1,2];
```

Untuk memplot objek geometris, kami menyiapkan area plot, dan menambahkan titik ke dalamnya. Semua plot objek geometris ditambahkan ke plot saat ini.

```
>setPlotRange(3); plotPoint(A,"A"); plotPoint(B,"B"); plotPoint(C,"C"):
```

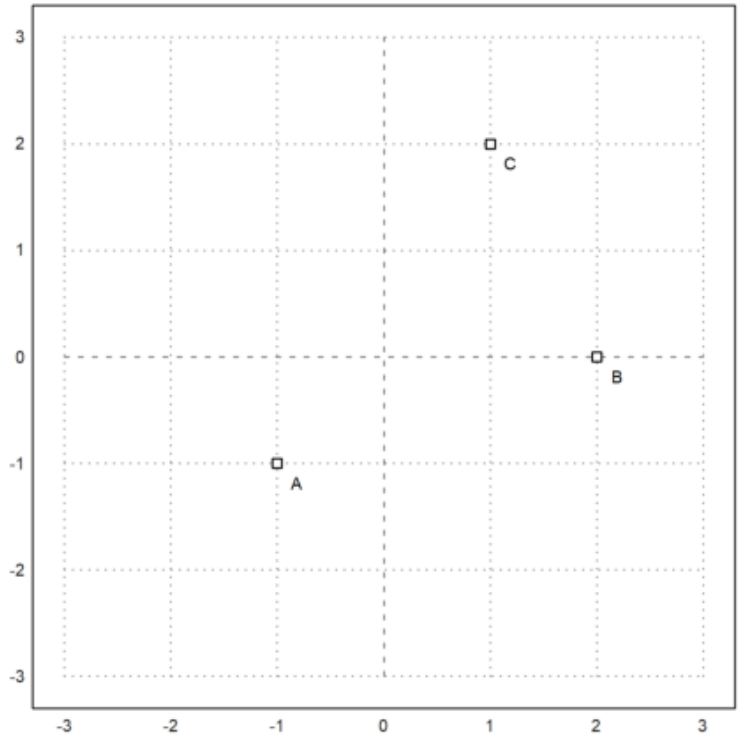

Kita juga bisa menambahkan sisi segitiga.

```
>plotSegment(A,B,""); plotSegment(B,C,""); plotSegment(C,A,""):
```

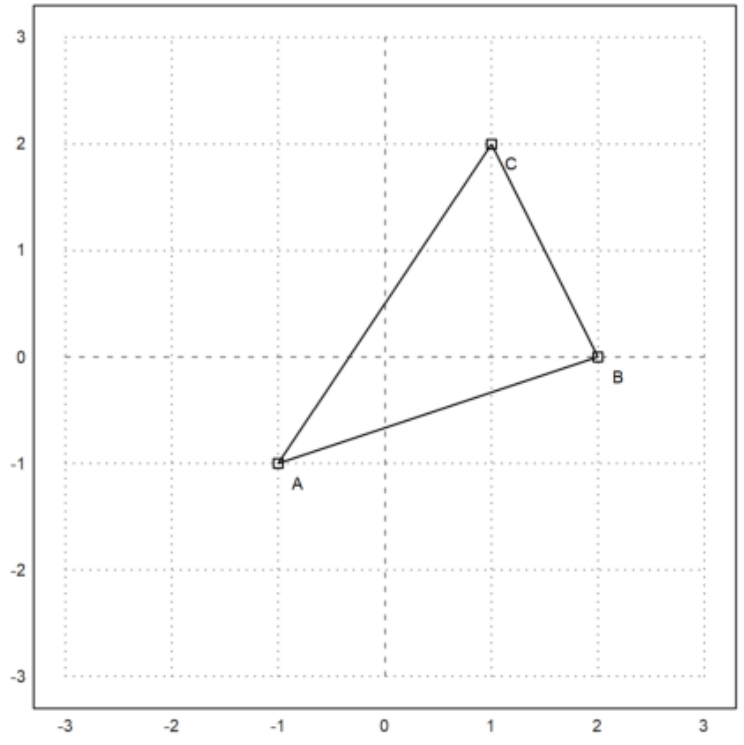

Berikut adalah luas segitiga menggunakan rumus determinan. Tentu saja, kita harus mengambil nilai absolut hasil ini.

```
>$areaTriangle(A,B,C)
```

$$-\frac{7}{2}$$

Kita dapat menghitung koefisien dari sisi C.

```
>c &= lineThrough(A,B)
```

```
[- 1, 3, - 2]
```

Dan juga mendapatkan rumus untuk baris ini.

```
>$getLineEquation(c,x,y)
```

$$3\,y-x=-2$$

Untuk bentuk Hesse, kita perlu menentukan titik, sehingga titik tersebut berada di sisi positif dari bentuk Hesse. Memasukkan titik menghasilkan jarak positif ke garis.

```
>$getHesseForm(c,x,y,C), $at(%,[x=C[1],y=C[2]])
```

$$\frac{7}{\sqrt{10}}$$

$$\frac{7}{\sqrt{10}}$$

Sekarang kami menghitung lingkaran dari ABC.

```
>LL &= circleThrough(A,B,C); $getCircleEquation(LL,x,y)
```

$$\left(y-\frac{5}{14}\right)^2+\left(x-\frac{3}{14}\right)^2=\frac{325}{98}$$

```
>O &= getCircleCenter(LL); $O
```

$$\left[\frac{3}{14},\frac{5}{14}\right]$$

Plot lingkaran dan pusatnya. Cu dan U adalah simbolik. Kami mengevaluasi ekspresi ini untuk Euler.

```
>plotCircle(LL()); plotPoint(O(),"O"):
```

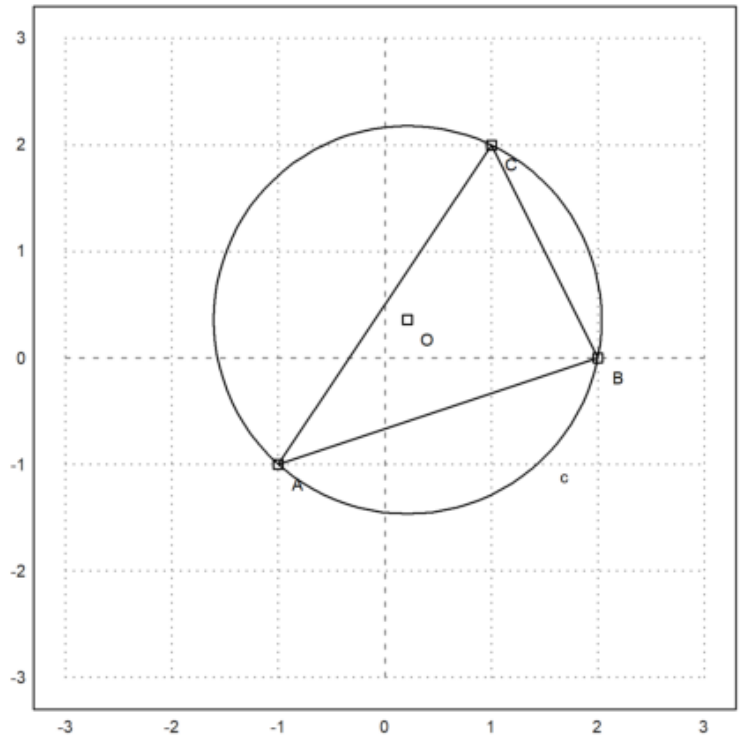

Kita dapat menghitung perpotongan ketinggian di ABC (orthocenter) secara numerik dengan perintah berikut.

```
>H &= lineIntersection(perpendicular(A,lineThrough(C,B)),...
>  perpendicular(B,lineThrough(A,C))); $H
```

$$\left[\frac{11}{7},\frac{2}{7}\right]$$

Sekarang kita dapat menghitung garis Euler dari segitiga tersebut.

```
>el &= lineThrough(H,O); $getLineEquation(el,x,y)
```

$$-\frac{19\,y}{14}-\frac{x}{14}=-\frac{1}{2}$$

Tambahkan ke plot kami.

```
>plotPoint(H(),"H"); plotLine(el(),"Garis Euler"):
```

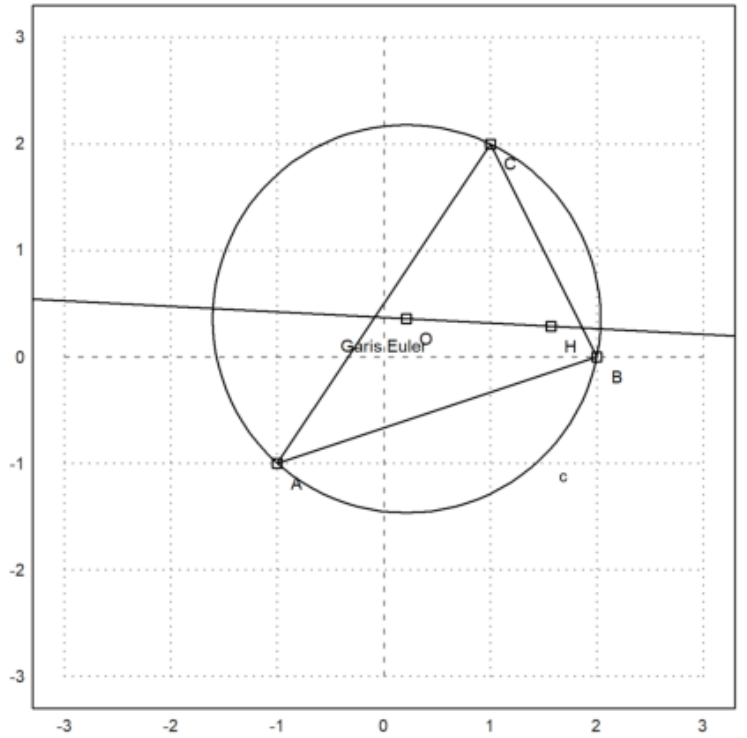

Pusat gravitasi harus berada di garis ini.

```
>M &= (A+B+C)/3; $getLineEquation(el,x,y) with [x=M[1],y=M[2]]
```

$$-\frac{1}{2} = -\frac{1}{2}$$

```
>plotPoint(M(),"M"): // titik berat
```

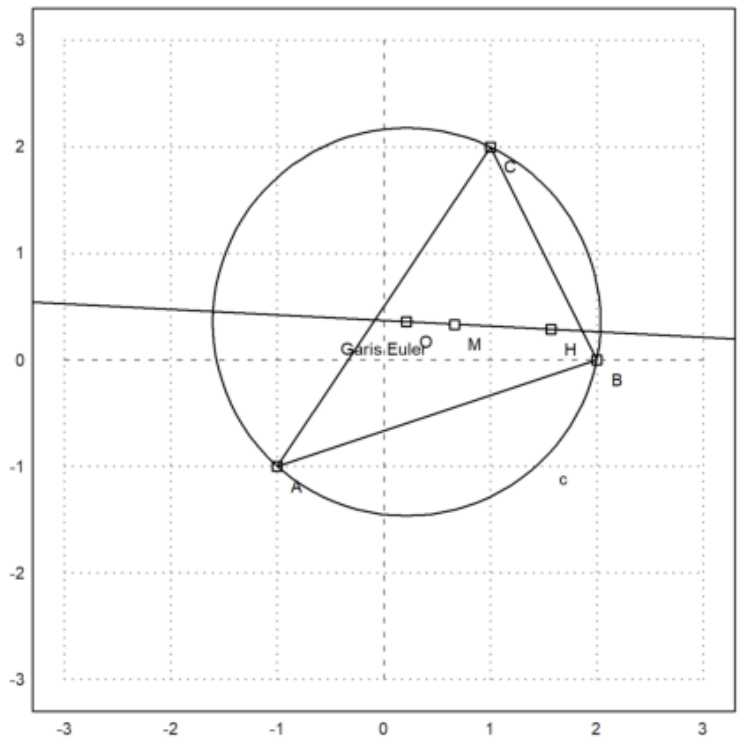

Teorinya mengatakan bahwa MH=2*MO. Kita perlu menyederhanakan dengan radcan untuk mencapai ini.

```
>$distance(M,H)/distance(M,O)|radcan
```

$$2$$

Fungsinya termasuk fungsi untuk sudut juga.

```
>$computeAngle(A,C,B), degprint(%())
```

$$\arccos\left(\frac{4}{\sqrt{5}\sqrt{13}}\right)$$

```
60°15’18.43’’
```

Persamaan untuk pusat lingkaran tidak terlalu bagus

```
>Q &= lineIntersection(angleBisector(A,C,B),angleBisector(C,B,A))|radcan; $Q
```

$$\left[\frac{\left(2^{\frac{3}{2}}+1\right)\sqrt{5}\sqrt{13}-15\sqrt{2}+3}{14},\frac{\left(\sqrt{2}-3\right)\sqrt{5}\sqrt{13}+5\,2^{\frac{3}{2}}+5}{14}\right]$$

Mari kita hitung juga ekspresi jari-jari lingkaran yang tertulis.

```
>r &= distance(Q,projectToLine(Q,lineThrough(A,B)))|ratsimp; $r
```

$$\frac{\sqrt{\left(-41\sqrt{2}-31\right)\ \sqrt{5}\sqrt{13}+115\sqrt{2}+614}}{7\sqrt{2}}$$

```
>LD &=  circleWithCenter(Q,r); // Lingkaran dalam
```

Mari kita tambahkan ini ke plot.

```
>color(5); plotCircle(LD()):
```

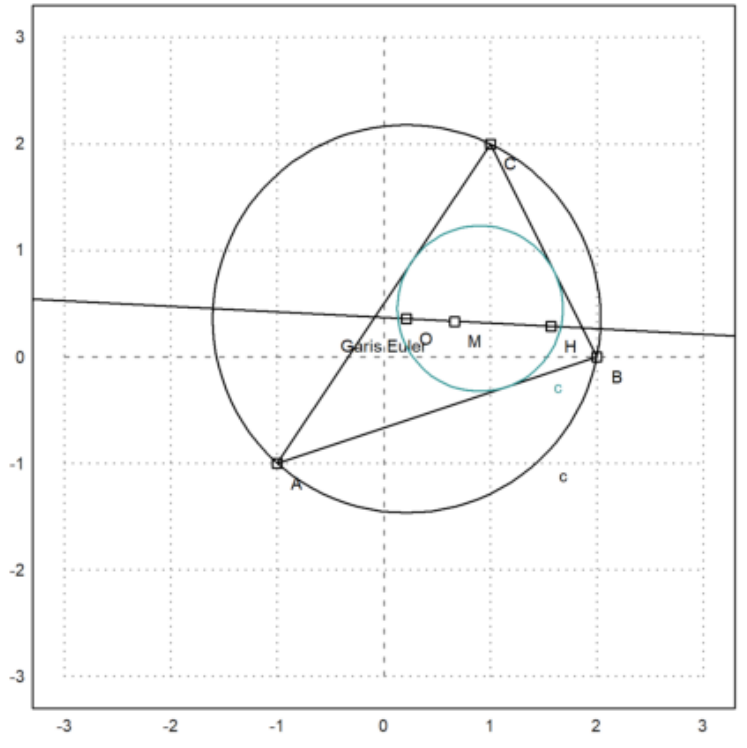

Parabola

Selanjutnya akan dicari persamaan tempat kedudukan titik-titik yang berjarak sama ke titik C dan ke garis AB.

```
>p &= getHesseForm(lineThrough(A,B),x,y,C)-distance([x,y],C); $p='0
```

$$\frac{3\,y-x+2}{\sqrt{10}}-\sqrt{(2-y)^2+(1-x)^2}=0$$

Persamaan tersebut dapat digambar menjadi satu dengan gambar sebelumnya.

```
>plot2d(p,level=0,add=1,contourcolor=6):
```

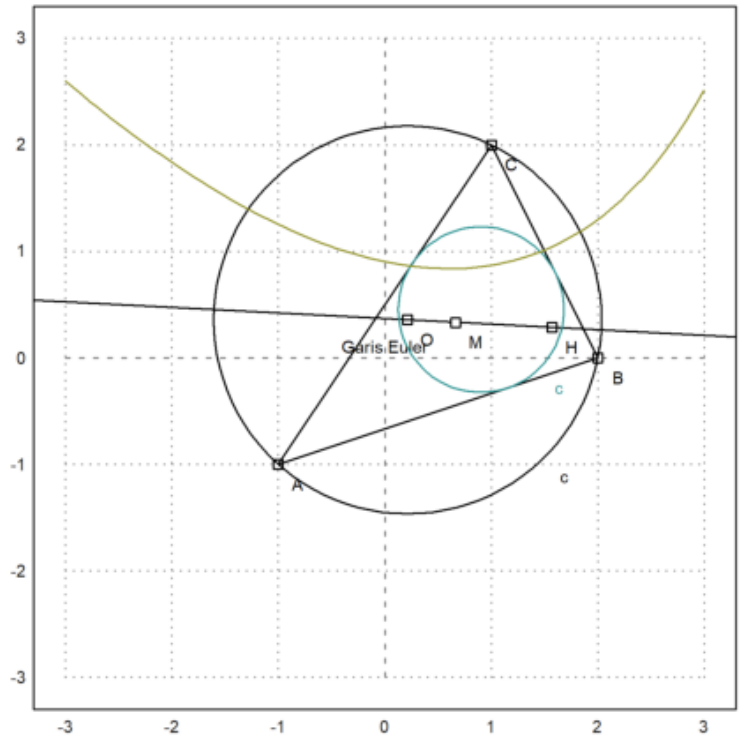

Ini seharusnya menjadi beberapa fungsi, tetapi pemecah default Maxima dapat menemukan solusi, jika kita mengkuadratkan persamaan. Akibatnya, kami mendapatkan solusi palsu.
itik penting yang ditentukan dari segitiga, termasuk pusat ortosentrum, circumcenter, centroid, titik Exeter dan pusat lingkaran sembilan titik segitiga.

Untuk demonstrasi, kami menghitung dan memplot garis Euler dalam segitiga.
Pertama, kami menentukan sudut segitiga di Euler.

Kami menggunakan definisi, yang terlihat secara ekspresi simbolis

```
>akar &= solve(getHesseForm(lineThrough(A,B),x,y,C)^2-distance([x,y],C)^2,y)
```

```
[y = - 3 x - sqrt(70) sqrt(9 - 2 x) + 26,
                      y = - 3 x + sqrt(70) sqrt(9 - 2 x) + 26]
```

Solusi pertama adalah

maxima: akar[1]

Menambahkan solusi pertama ke pertunjukan plot, bahwa itu memang jalan yang kita cari. Teori memberi tahu kita bahwa itu adalah parabola yang diputar.

```
>plot2d(&rhs(akar[1]),add=1):
```

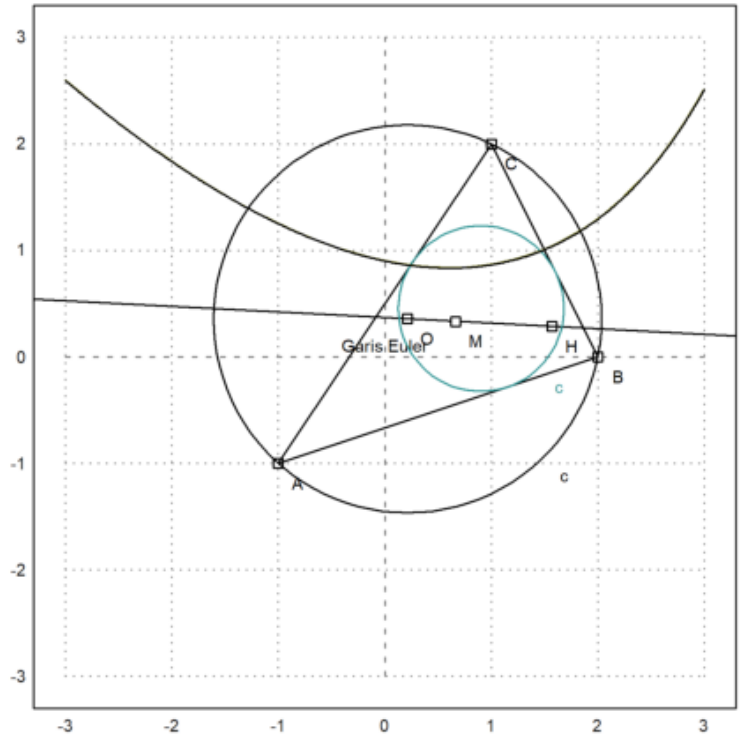


```
>function g(x) &= rhs(akar[1]); $'g(x)= g(x)// fungsi yang mendefinisikan kurva di atas
```

$$g\left(x\right)=-3\,x-\sqrt{70}\,\sqrt{9-2\,x}+26$$

```
>T &=[-1, g(-1)]; // ambil sebarang titik pada kurva tersebut
>dTC &= distance(T,C); $fullratsimp(dTC), $float(%) // jarak T ke C
```

$$2.135605779339061$$

```
>U &= projectToLine(T,lineThrough(A,B)); $U // proyeksi T pada garis AB
```

$$\left[\frac{80-3\sqrt{11}\sqrt{70}}{10},\frac{20-\sqrt{11}\sqrt{70}}{10}\right]$$

```
>dU2AB &= distance(T,U); $fullratsimp(dU2AB), $float(%) // jatak T ke AB
```

$$2.135605779339061$$

Ternyata jarak T ke C sama dengan jarak T ke AB. Coba Anda pilih titik T yang lain dan ulangi perhitungan-perhitungan di atas untuk menunjukkan bahwa hasilnya juga sama.

Contoh 5: Trigonometri Rasional

Ini terinspirasi oleh ceramah N.J.Wildberger. Dalam bukunya "Proporsi Agung", Wildberger mengusulkan untuk menggantikan pengertian klasik tentang jarak dan sudut dengan kuadran dan sebaran. Menggunakan ini, memang mungkin untuk dihindari fungsi trigonometri dalam banyak contoh, dan tetap "rasional".

Berikut ini, saya memperkenalkan konsep, dan memecahkan beberapa masalah. Saya menggunakan perhitungan simbolis Maxima di sini, yang menyembunyikan keuntungan utama dari trigonometri rasional bahwa perhitungan dapat dilakukan dengan kertas dan pensil saja. Anda diundang untuk memeriksa hasil tanpa komputer.

ntinya adalah bahwa perhitungan rasional simbolis sering kali menghasilkan hasil yang sederhana. Sebaliknya, trigonometri klasik menghasilkan hasil trigonometri yang rumit, yang hanya mengevaluasi perkiraan numerik.

```
>load geometry;
```

Untuk pendahuluan pertama, kami menggunakan segitiga persegi panjang dengan proporsi Mesir yang terkenal 3, 4 dan 5. Perintah berikut adalah perintah Euler untuk memplot geometri bidang yang terdapat dalam file Euler "geometry.e".

```
>C&:=[0,0]; A&:=[4,0]; B&:=[0,3]; ...
>setPlotRange(-1,5,-1,5); ...
>plotPoint(A,"A"); plotPoint(B,"B"); plotPoint(C,"C"); ...
>plotSegment(B,A,"c"); plotSegment(A,C,"b"); plotSegment(C,B,"a"); ...
>insimg(30);
```

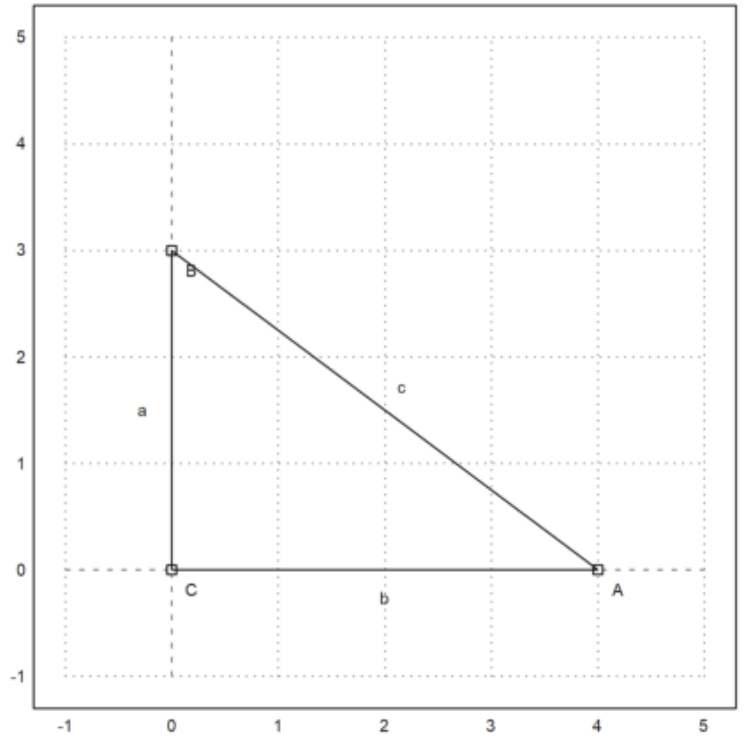

Tentu saja,

$$\sin(w_a) = \frac{a}{c},$$

di mana wa adalah sudut di A. Cara biasa untuk menghitung sudut ini, adalah dengan melakukan invers dari fungsi sinus. Hasilnya adalah sudut yang tidak dapat dicerna, yang hanya dapat dicetak secara perkiraan.

```
>wa := arcsin(3/5); degprint(wa)
```

```
  36°52’11.63’’
```

Trigonometri rasional mencoba menghindari hal ini.

Pengertian pertama dari trigonometri rasional adalah sebuah kuadran, yang menggantikan jarak. Faktanya,
itu hanya jarak kuadrat. Berikut ini, a, b, dan c menunjukkan kuadran sisi-sisinya.

Lalu Teorema Pythogoras menjadi a + b = c

```
>a &= 3^2; b &= 4^2; c &= 5^2; &a+b=c
```

$$25 = 25$$

Gagasan kedua dari trigonometri rasional adalah penyebarannya. Mengukur persebaran bukaan antar baris. Ini 0, jika garisnya sejajar, dan 1, jika garisnya persegi panjang. Ini adalah kuadrat dari sinus sudut antara dua garis.

Penyebaran garis AB dan AC pada gambar di atas didefinisikan sebagai

$$s_a = \sin(\alpha)^2 = \frac{a}{c},$$

di mana a dan c adalah kuadrat dari segitiga persegi panjang mana pun dengan satu sudut di A.

```
>sa &= a/c; $sa
```

$$\frac{9}{25}$$

Ini lebih mudah dihitung daripada sudut, tentu saja. Tetapi Anda kehilangan properti yang sudut dapat ditambahkan dengan mudah.

Tentu saja, kita dapat mengubah nilai perkiraan sudut wa menjadi menyebar, dan mencetaknya sebagai pecahan.

```
>fracprint(sin(wa)^2)
```

```
  9/25
```

Hukum kosinus dari trigonometri klasik diterjemahkan menjadi "hukum silang" berikut.

$$(c+b-a)^2 = 4bc\,(1-s_a)$$

Di sini a, b, dan c adalah kuadran dari sisi-sisi segitiga, dan sa adalah sebaran di sudut A. Sisi a seperti biasa, berlawanan dengan sudut A. Hukum ini diimplementasikan dalam file geometry.e yang kami muat ke Euler.

```
>$crosslaw(aa,bb,cc,saa)
```

$$\left[\left(bb-aa+\frac{7}{6}\right)^2,\left(bb-aa+\frac{7}{6}\right)^2,\left(bb-aa+\frac{5}{3\sqrt{2}}\right)^2\right]=\left[\frac{14\,bb\;(1-saa)}{3},\frac{14\,bb\;(1-saa)}{3},\frac{5\,2^{\frac{3}{2}}\;bb\;(1-saa)}{3}\right]$$

Dalam kasus kami, kami mendapatkan

```
>$crosslaw(a,b,c,sa)
```

$$1024=1024$$

Mari kita gunakan crosslaw ini untuk mencari sebaran di A. Untuk melakukan ini, kita menghasilkan crosslaw untuk kuadran a, b,dan c, dan menyelesaikannya untuk penyebaran yang tidak diketahui sa.

Anda dapat melakukan ini dengan tangan dengan mudah, tetapi saya menggunakan Maxima. Tentu saja, kami mendapatkan hasilnya, kami sudah mendapatkannya.

```
>$crosslaw(a,b,c,x), $solve(%,x)
```

$$\left[x=\frac{9}{25}\right]$$

$\left[x=\frac{9}{25}\right]$

Kami sudah tahu ini. Definisi penyebaran adalah kasus khusus darihukum silang.

Kita juga bisa menyelesaikan ini untuk umum a, b, c. Hasilnya adalahrumus yang menghitung sebaran sudut sebuah segitiga diberi kuadran dari tiga sisi.

```
>$solve(crosslaw(aa,bb,cc,x),x)
```

$$\left[\left[\frac{168\,bb\,x+36\,bb^2+(-72\,aa-84)\;bb+36\,aa^2-84\,aa+49}{36},\frac{168\,bb\,x+36\,bb^2+(-72\,aa-84)\;bb+36\,aa^2-84\,aa+4\right.\right.$$

Kita bisa membuat fungsi dari hasilnya. Fungsi seperti itu sudah ditentukan dalam file geometry.e Euler

```
>$spread(a,b,c)
```

$$\frac{9}{25}$$

Sebagai contoh, kita bisa menggunakannya untuk menghitung sudut segitiga bersisi

$$a,\quad a,\quad \frac{4a}{7}$$

Hasilnya rasional, yang tidak mudah didapat jika kita menggunakan trigonometri klasik.

```
>$spread(a,a,4*a/7)
```

$$\frac{6}{7}$$

Ini adalah sudut dalam derajat.

```
>degprint(arcsin(sqrt(6/7)))
```

```
  67°47’32.44’’
```

Contoh lain

Sekarang, mari kita coba contoh yang lebih canggih.
Kami mengatur tiga sudut segitiga sebagai berikut.

```
>A&:=[1,2]; B&:=[4,3]; C&:=[0,4]; ...
>setPlotRange(-1,5,1,7); ...
>plotPoint(A,"A"); plotPoint(B,"B"); plotPoint(C,"C"); ...
>plotSegment(B,A,"c"); plotSegment(A,C,"b"); plotSegment(C,B,"a"); ...
>insimg;
```

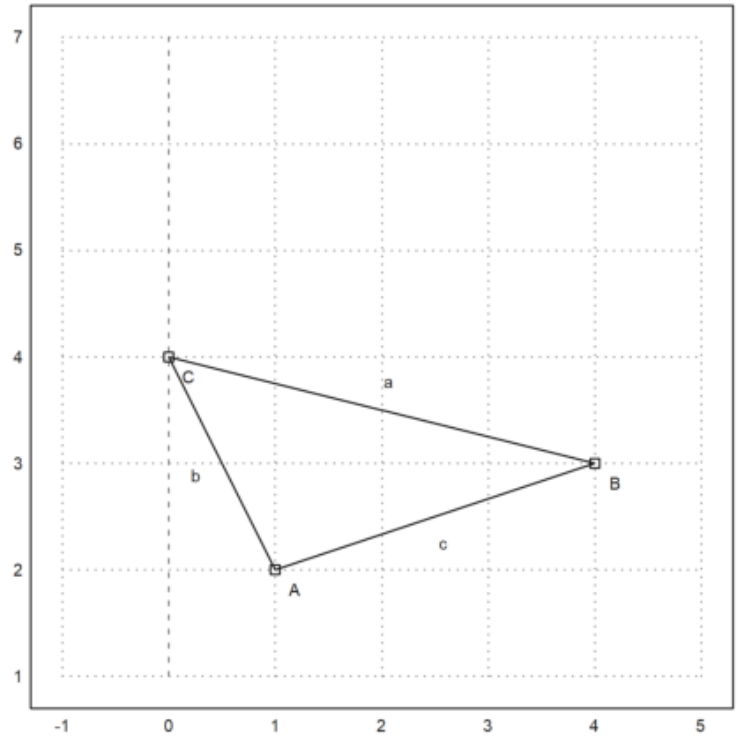

Menggunakan Pythogoras, mudah untuk menghitung jarak antara dua titik. Saya pertama kali menggunakan jarak fungsi dari File Euler untuk geometri. Jarak fungsi menggunakan geometri klasik.

```
>$distance(A,B)
```

$$\sqrt{10}$$

Euler juga memiliki fungsi kuadran antara dua titik.
Dalam contoh berikut, karena c+b bukan a, segitiga tidak persegi.

```
>c &= quad(A,B); $c, b &= quad(A,C); $b, a &= quad(B,C); $a,
```


Pertama, mari kita hitung sudut tradisional. Fungsi computAngle menggunakan metode biasa berdasarkan titik produk dari dua vektor. Hasilnya adalah beberapa pendekatan floating point.

$$A =< 1,2 > \quad B =< 4,3 >, \quad C =< 0,4 >$$

$$\mathbf{a} = C - B =< -4,1 >, \quad \mathbf{c} = A - B =< -3,-1 >, \quad \beta = \angle ABC$$

$$\mathbf{a}.\mathbf{c} = |\mathbf{a}|.|\mathbf{c}| \cos\beta$$

$$\cos\angle ABC = \cos\beta = \frac{\mathbf{a}.\mathbf{c}}{|\mathbf{a}|.|\mathbf{c}|} = \frac{12-1}{\sqrt{17}\sqrt{10}} = \frac{11}{\sqrt{17}\sqrt{10}}$$

```
>wb &= computeAngle(A,B,C); $wb, $(wb/pi*180)()
```

$$\arccos\left(\frac{11}{\sqrt{10}\sqrt{17}}\right)$$

```
32.4711922908
```

Menggunakan pensil dan kertas, kita bisa melakukan hal yang samadengan hukum silang. Kami memasukkan kuadran a, b, dan c ke dalam lintas hukum dan pecahkan untuk x.

```
>$crosslaw(a,b,c,x), $solve(%,x), //(b+c-a)^=4b.c(1-x)
```

$$\left[x=\frac{49}{50}\right]$$

$$\left[x=\frac{49}{50}\right]$$

Artinya, fungsi penyebaran yang didefinisikan dalam "geometry.e".

```
>sb &= spread(b,a,c); $sb
```

$$\frac{49}{170}$$

Maxima mendapatkan hasil yang sama dengan menggunakan trigonometri biasa, jika kita memaksakannya. Itu menyelesaikan sin(arccos (...)) istilah untuk hasil pecahan. Kebanyakan siswa tidak dapat melakukan ini.

```
>$sin(computeAngle(A,B,C))^2
```

$$\frac{49}{170}$$

Setelah kita mendapatkan sebaran di B, kita bisa menghitung tinggi ha di sisi a. Ingat bahwa,

$$s_b = \frac{h_a}{c}$$

menurut definisi.

```
>ha &= c*sb; $ha
```

$$\frac{49}{17}$$

Gambar berikut telah diproduksi dengan program geometri C.a.R., yangdapat menggambar kuadran dan menyebar

image: (20) Rational_Geometry_CaR.png

Menurut definisi, panjang ha adalah akar kuadrat dari kuadrannya.

```
>$sqrt(ha)
```

$$\frac{7}{\sqrt{17}}$$

Sekarang kita bisa menghitung luas segitiga. Jangan lupa, bahwa kita berurusan dengan kuadran!

```
>$sqrt(ha)*sqrt(a)/2
```

$$\frac{7}{2}$$

Rumus determinan yang biasa menghasilkan hasil yang sama.

```
>$areaTriangle(B,A,C)
```

$$\frac{7}{2}$$

Formula Heron

Sekarang, mari kita selesaikan masalah ini secara umum!

```
>&remvalue(a,b,c,sb,ha);
```

Pertama-tama kita menghitung seberan di B untuk segitiga dengan sisi a,b, dan c. Kemudian kami menghitung luas area yang dikuadratkan ("quadrea"?), faktorkan dengan Maxima, dan kita mendapatkan formula Heron yang terkenal.
Memang, ini sulit dilakukan dengan pensil dan kertas.

```
>$spread(b^2,c^2,a^2), $factor(%*c^2*a^2/4)
```

$$\frac{(-c+b+a)\ (c-b+a)\ (c+b-a)\ (c+b+a)}{16}$$

$\frac{(-c+b+a)\ (c-b+a)\ (c+b-a)\ (c+b+a)}{16}$

Aturan Triple Spread

Kerugian dari penyebaran adalah bahwa mereka tidak lagi hanya menambahkan sudut serupa. Namun, tiga sebaran segitiga memenuhi aturan "penyebaran rangkaptiga" berikut.

```
>&remvalue(sa,sb,sc); $triplespread(sa,sb,sc)
```

$$(sc+sb+sa)^2=2\left(sc^2+sb^2+sa^2\right)+4\,sa\,sb\,sc$$

Aturan ini berlaku untuk tiga sudut yang bertambah menjadi 180 °

$$\alpha+\beta+\gamma=\pi$$

Sejak penyebaran

$$\alpha,\pi-\alpha$$

sama, aturan penyebaran tiga kali lipat juga benar, jika

atex: \alpha+\beta=\gamma

Karena penyebaran sudut negatif adalah sama, aturan penyebaran tiga kali lipat juga berlaku, jika

$$\alpha+\beta+\gamma=0$$

Misalnya, kita dapat menghitung sebaran sudut 60 °. Ini 3/4. Persamaan memiliki solusi kedua, Namun, di mana semua spread adalah 0

```
>$solve(triplespread(x,x,x),x)
```

$$\left[x=\frac{3}{4},x=0\right]$$

Sebaran 90° jelaslah 1. Jika dua sudut dijumlahkan menjadi 90°, penyebarannya menyelesaikan persamaan penyebaran rangkap tiga dengan a,b,1. Dengan perhitungan berikut kita mendapatkan a+b=1.

```
>$triplespread(x,y,1), $solve(%,x)
```

$$[x=1-y]$$

Karena penyebaran 180 °-t sama dengan penyebaran t, rumus penyebaran rangkap tiga juga berlaku, jika satu sudut adalah jumlah atau perbedaan dari dua sudut lainnya.
Jadi kita bisa menemukan sebaran sudut berlipat ganda. Perhatikan bahwa ada dua solusi lagi. Kami menjadikan ini sebuah fungsi.

```
>$solve(triplespread(a,a,x),x), function doublespread(a) &= factor(rhs(%[1]))
```

$$[x = 4\,a - 4\,a^2, x = 0]$$

```
- 4 (a - 1) a
```

Garis Bagi Sudut

Ini situasinya, kita sudah tahu.

```
>C&:=[0,0]; A&:=[4,0]; B&:=[0,3]; ...
>setPlotRange(-1,5,-1,5); ...
>plotPoint(A,"A"); plotPoint(B,"B"); plotPoint(C,"C"); ...
>plotSegment(B,A,"c"); plotSegment(A,C,"b"); plotSegment(C,B,"a"); ...
>insimg;
```

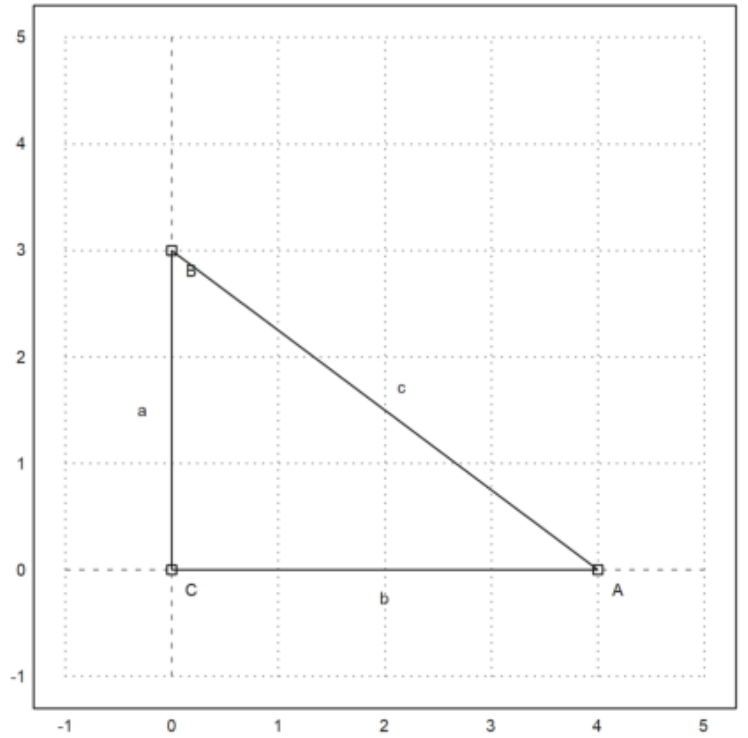

Mari kita hitung panjang garis bagi sudut pada A. Tapi kita ingin menyelesaikannya untuk umum a,b,c.

```
>&remvalue(a,b,c);
```

Jadi pertama-tama kita menghitung sebaran sudut terbagi di A, menggunakan rumus sebaran rangkap tiga.
Masalah dengan rumus ini muncul lagi. Ini memiliki dua solusi. Kamiharus memilih yang benar. Solusi yang lain mengacu pada sudut terbagi 180 °-wa.

```
>$triplespread(x,x,a/(a+b)), $solve(%,x), sa2 &= rhs(%[1]); $sa2
```

$$\frac{-\sqrt{b}\,\sqrt{b+a}+b+a}{2\,b+2\,a}$$

$$\left[x=\frac{-\sqrt{b}\,\sqrt{b+a}+b+a}{2\,b+2\,a},x=\frac{\sqrt{b}\,\sqrt{b+a}+b+a}{2\,b+2\,a}\right]$$

$$\frac{-\sqrt{b}\,\sqrt{b+a}+b+a}{2\,b+2\,a}$$

Mari kita periksa persegi panjang Mesir.

```
>$sa2 with [a=3^2,b=4^2]
```

$$\frac{1}{10}$$

Kami dapat mencetak sudut di Euler, setelah mentransfer penyebaran ke radian.

```
>wa2 := arcsin(sqrt(1/10)); degprint(wa2)
```

```
  18°26’5.82’’
```

Titik P adalah perpotongan dari garis bagi sudut dengan sumbu y.

```
>P := [0,tan(wa2)*4]
```

```
  [0,  1.33333]
```

```
>plotPoint(P,"P"); plotSegment(A,P):
```

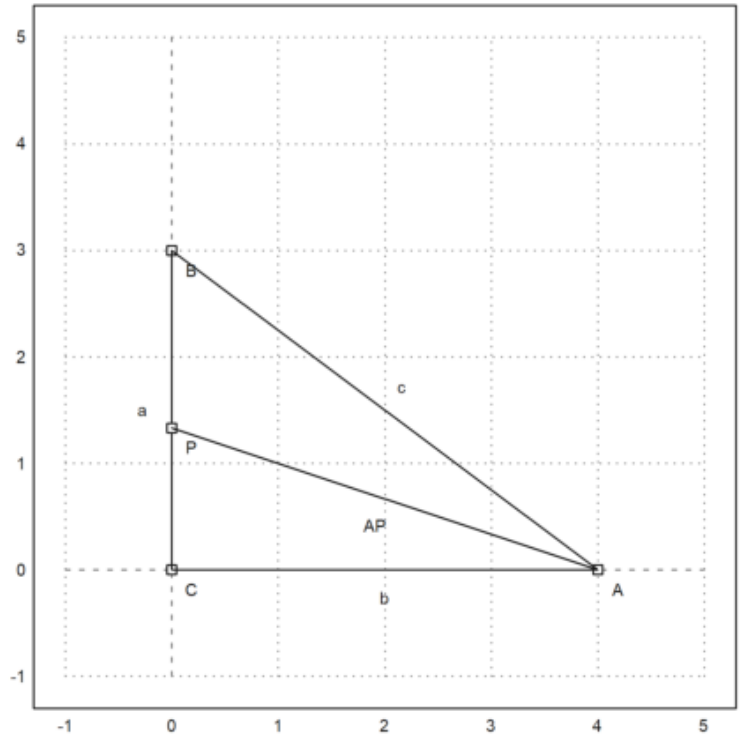

Mari kita periksa sudut dalam contoh spesifik kita.

```
>computeAngle(C,A,P), computeAngle(P,A,B)
```

```
0.321750554397
0.321750554397
```

Sekarang kita menghitung panjang bisektor AP

Kami menggunakan teorema sinus di segitiga APC. Teorema ini menyatakan bahwa

$$\frac{BC}{\sin(w_a)} = \frac{AC}{\sin(w_b)} = \frac{AB}{\sin(w_c)}$$

memegang di segitiga apa pun. Persegi itu, itu diterjemahkan ke dalam apa yang disebut "hukum penyebaran"

$$\frac{a}{s_a} = \frac{b}{s_b} = \frac{c}{s_b}$$

dimana a,b,c menunjukkan kuadran.

Karena BPA sebaran adalah 1-sa2, kami dapatkan darinya bisa/1=b/(1-sa2) dan dapat menghitung bisa (kuadran garis bagi sudut)

```
>&factor(ratsimp(b/(1-sa2))); bisa &= %; $bisa
```

$$\frac{2\,b\,(b+a)}{\sqrt{b}\,\sqrt{b+a}+b+a}$$

Mari kita periksa rumus ini untuk nilai mesir kita.

```
>sqrt(mxmeval("at(bisa,[a=3^2,b=4^2])")), distance(A,P)
```

```
  4.21637021356
  4.21637021356
```

Kami juga dapat menghitung P menggunakan rumus penyebaran.

```
>py&=factor(ratsimp(sa2*bisa)); $py
```

$$-\frac{b\left(\sqrt{b}\sqrt{b+a}-b-a\right)}{\sqrt{b}\sqrt{b+a}+b+a}$$

Nilainya sama dengan yang kita dapatkan dengan rumus trigonometri.

```
>sqrt(mxmeval("at(py,[a=3^2,b=4^2])"))
```

```
  1.33333333333
```

Sudut Akord

Perhatikan situasi berikut.

```
>setPlotRange(1.2); ...
>color(1); plotCircle(circleWithCenter([0,0],1)); ...
>A:=[cos(1),sin(1)]; B:=[cos(2),sin(2)]; C:=[cos(6),sin(6)]; ...
>plotPoint(A,"A"); plotPoint(B,"B"); plotPoint(C,"C"); ...
>color(3); plotSegment(A,B,"c"); plotSegment(A,C,"b"); plotSegment(C,B,"a"); ...
>color(1); O:=[0,0];  plotPoint(O,"0"); ...
>plotSegment(A,O); plotSegment(B,O); plotSegment(C,O,"r"); ...
>insimg;
```

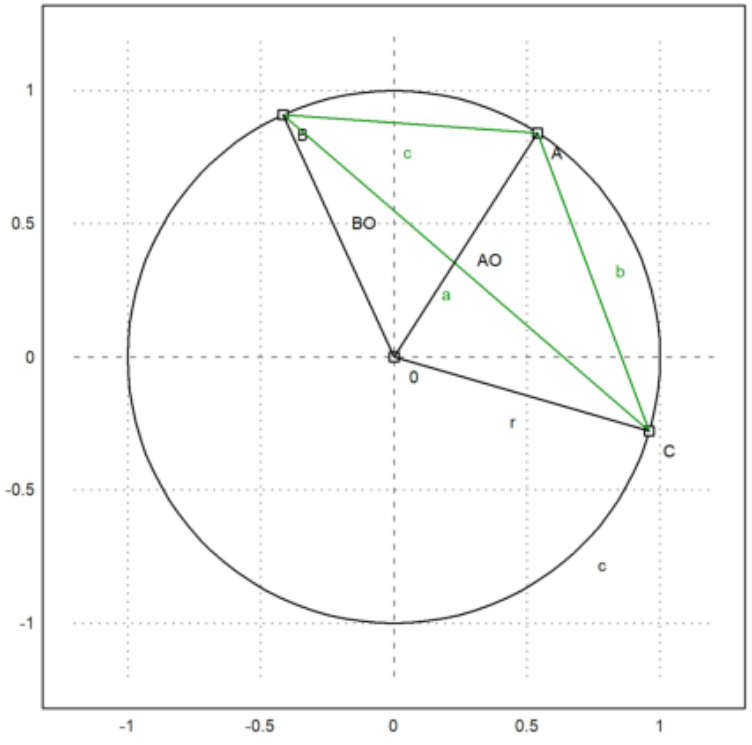

Kita bisa menggunakan Maxima untuk menyelesaikan rumus sebaran rangkap tiga untuk sudut di pusat O untuk r. Dengan demikian kami mendapatkan formula untuk jari-jari kuadrat dari keliling dalam hal kuadrat sisi-sisinya
Kali ini, Maxima menghasilkan beberapa angka nol yang kompleks, yang kita abaikan.

```
>&remvalue(a,b,c,r); // hapus nilai-nilai sebelumnya untuk perhitungan baru
>rabc &= rhs(solve(triplespread(spread(b,r,r),spread(a,r,r),spread(c,r,r)),r)[4]); $rabc
```

$$-\frac{a\,b\,c}{c^2-2\,b\,c+a\,(-2\,c-2\,b)+b^2+a^2}$$

Kita bisa menjadikannya sebagai fungsi Euler.

```
>function periradius(a,b,c) &= rabc;
```

Mari kita periksa hasilnya untuk titik A,B,C.

```
>a:=quadrance(B,C); b:=quadrance(A,C); c:=quadrance(A,B);
```

Jari-jarinya memang 1

```
>periradius(a,b,c)
```

1

Faktanya, penyebaran CBA hanya bergantung pada b dan c. Ini adalah teorema sudut akord.

```
>$spread(b,a,c)*rabc | ratsimp
```

$$\frac{b}{4}$$

Sebenarnya sebarannya adalah b/(4r), dan kita melihat bahwa sudut akord b adalah setengah dari sudut tengah.

```
>$doublespread(b/(4*r))-spread(b,r,r) | ratsimp
```

$$0$$

Contoh 6: Jarak Minimal pada Bidang

Catatan awal

Fungsi yang mana, ke titik M di bidang, menetapkan jarak AM antara titik tetap A dan M, memiliki lebih garis tingkat sederhana: lingkaran yang berpusat di A

```
>&remvalue();
>A=[-1,-1];
>function d1(x,y):=sqrt((x-A[1])^2+(y-A[2])^2)
>fcontour("d1",xmin=-2,xmax=0,ymin=-2,ymax=0,hue=1, ...
>title="If you see ellipses, please set your window square"):
```

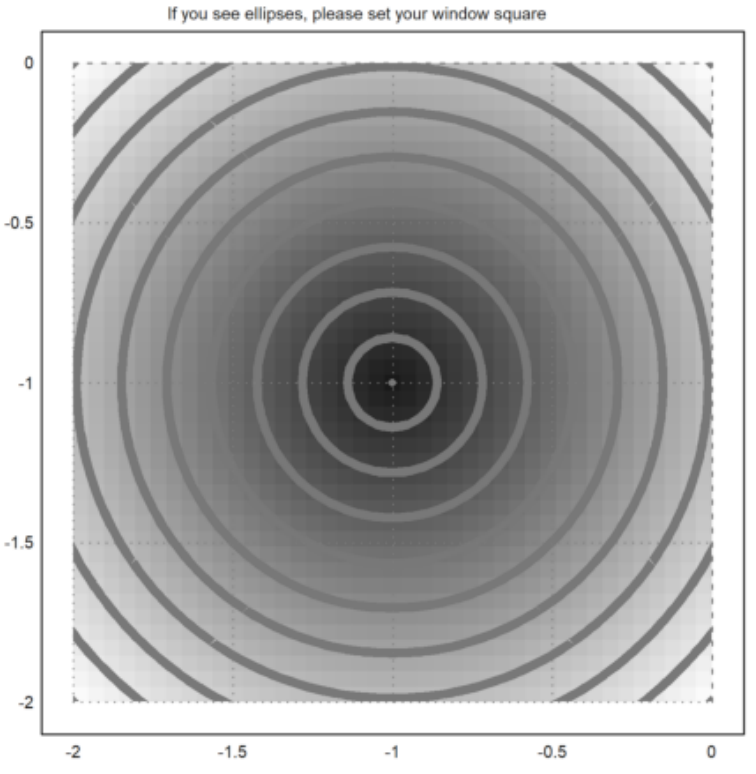

dan grafiknya juga agak sederhana: bagian atas kerucut:

```
>plot3d("d1",xmin=-2,xmax=0,ymin=-2,ymax=0):
```

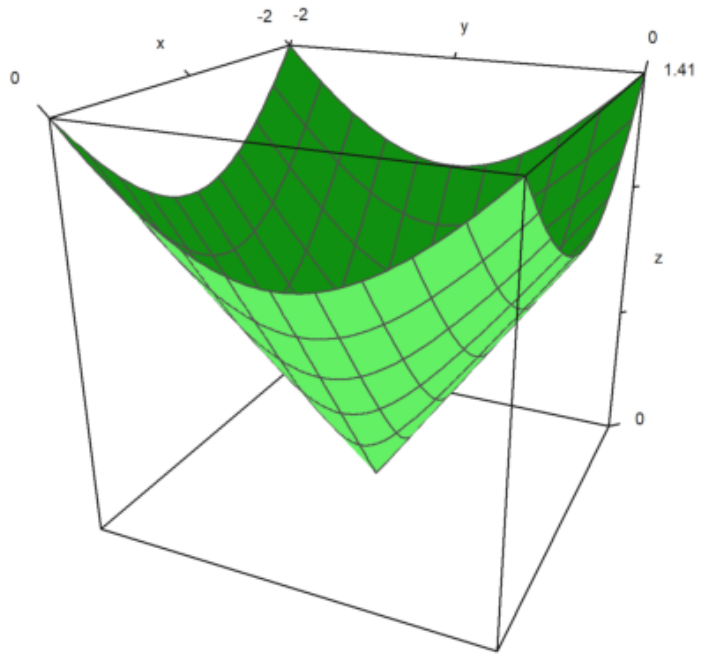

Tentu saja minimal 0 dicapai di A.

Dua titik

Sekarang kita melihat fungsi MA+MB dimana A dan B adalah dua titik (tetap). Ini adalah ”fakta terkenal” bahwa level itu kurva adalah elips, titik fokusnya adalah A dan B; kecuali untuk minimum AB yang konstan pada segmen tersebut[AB:

```
>B=[1,-1];
>function d2(x,y):=d1(x,y)+sqrt((x-B[1])^2+(y-B[2])^2)
>fcontour("d2",xmin=-2,xmax=2,ymin=-3,ymax=1,hue=1):
```

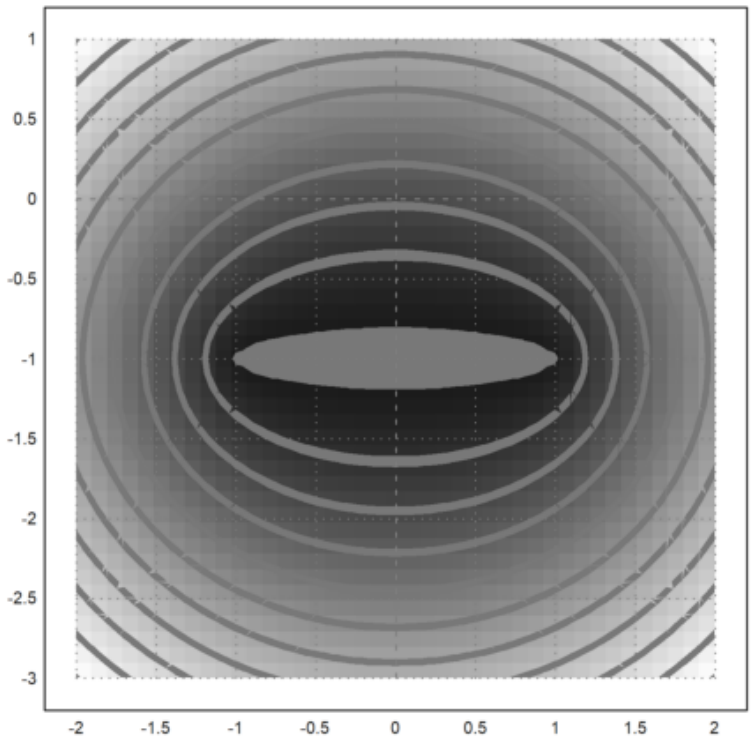

Grafiknya lebih menarik:

```
>plot3d("d2",xmin=-2,xmax=2,ymin=-3,ymax=1):
```

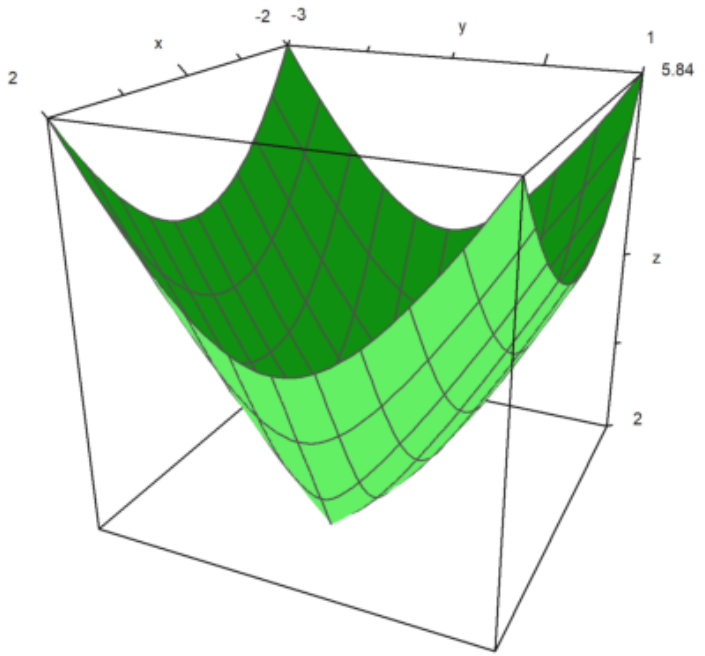

Batasan ke baris (AB) lebih terkenal:

```
>plot2d("abs(x+1)+abs(x-1)",xmin=-3,xmax=3):
```

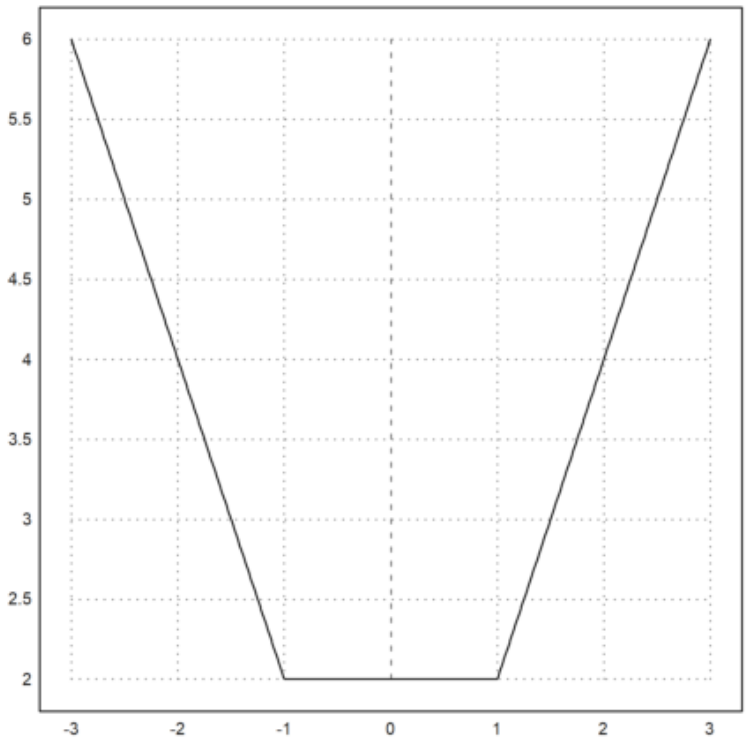

Sekarang segalanya menjadi lebih sederhana: Sedikit kurang diketahui bahwa MA+MB+MC mencapai minimumnya pada satu titik bidang tetapi untuk menentukannya kurang sederhana:

1) Jika salah satu sudut segitiga ABC lebih dari 120°(katakanlah dalam A), maka minimumnya tercapai pada ini sangat penting(katakanlah AB+AC.

Contoh:

```
>C=[-4,1];
>function d3(x,y):=d2(x,y)+sqrt((x-C[1])^2+(y-C[2])^2)
>plot3d("d3",xmin=-5,xmax=3,ymin=-4,ymax=4);
>insimg;
```

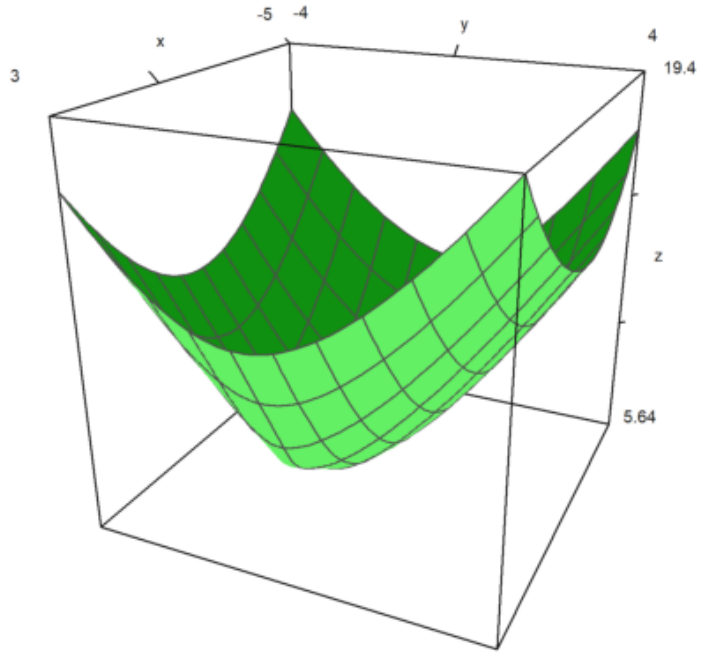


```
>fcontour("d3",xmin=-4,xmax=1,ymin=-2,ymax=2,hue=1,title="The minimum is on A");
>P=(A_B_C_A)'; plot2d(P[1],P[2],add=1,color=12);
>insimg;
```

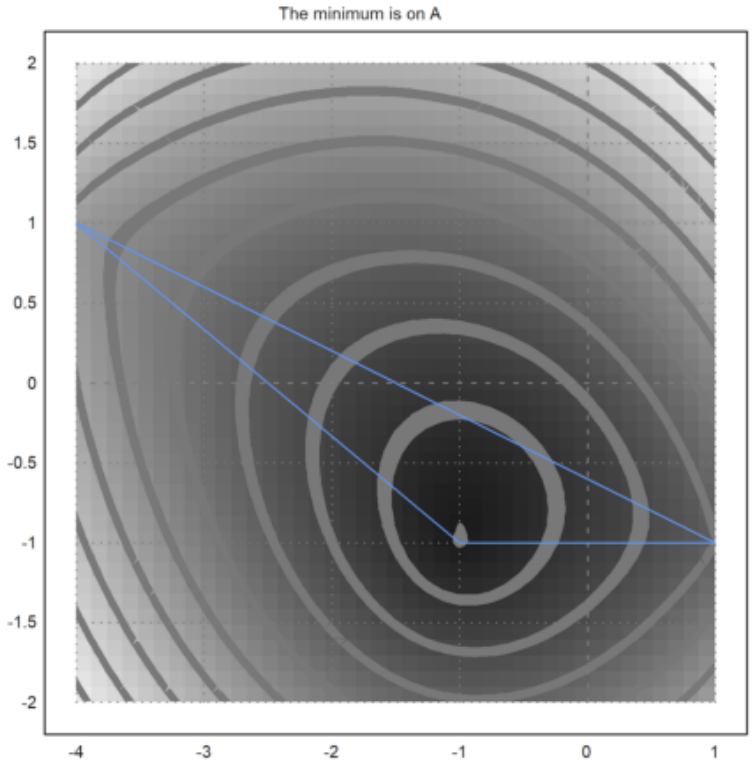

2) Tetapi jika semua sudut segitiga ABC kurang dari 120°, minimum berada pada titik F di bagian dalam segitiga,yang merupakan satu-satunya titik yang melihat sisi ABC dengan sudut yang sama (lalu masing-masing 120°):

```
>C=[-0.5,1];
>plot3d("d3",xmin=-2,xmax=2,ymin=-2,ymax=2):
```

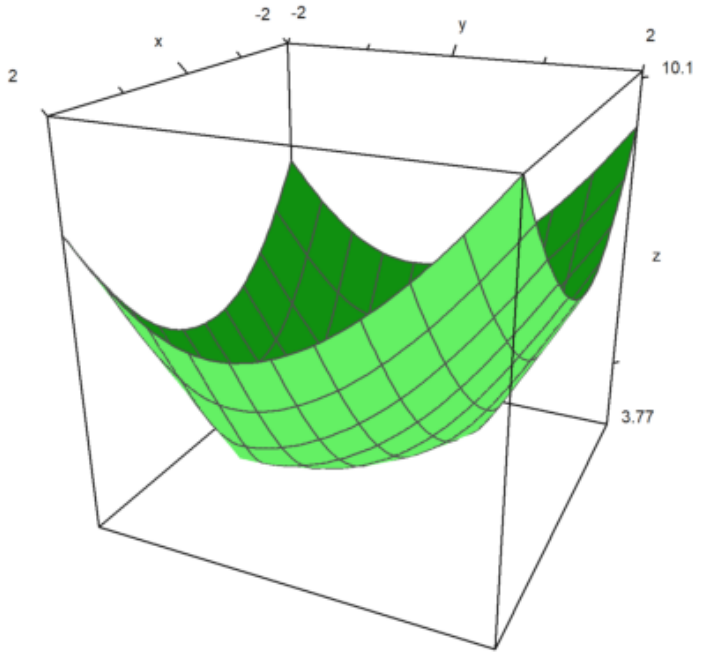


```
>fcontour("d3",xmin=-2,xmax=2,ymin=-2,ymax=2,hue=1,title="The Fermat point");
>P=(A_B_C_A)'; plot2d(P[1],P[2],add=1,color=12);
>insimg;
```

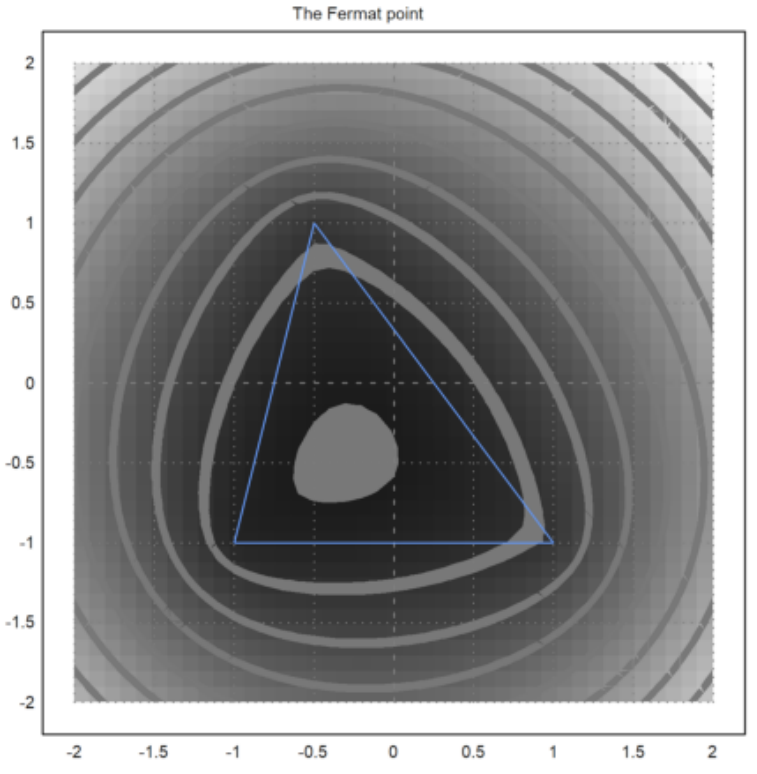

Merupakan kegiatan yang menarik untuk mewujudkan gambar di atas dengan perangkat lunak geometri;misalnya, saya tahu yang halus ditulis di Java yang memiliki instruksi ”garis kontur” ...

Semua ini di atas telah ditemukan oleh seorang hakim Prancis bernama Pierre de Fermat; dia menulis surat kepada orang lain penggila seperti pendeta Marin Mersenne dan Blaise Pascal yang bekerja di bagian pajak penghasilan. Jadi poin uniknya F sedemikian sehingga FA+FB+FC minimal, disebut titik Fermat segitiga. Tapi sepertinya beberapa tahun sebelumnya, Torriccelli Italia telah menemukan titik ini sebelum Fermat menemukannya! Pokoknya tradisinya adalah mencatat titik F ini ...

Empat titik

Langkah selanjutnya adalah menambahkan titik D ke-4 dan mencoba meminimalkan MA+MB+MC+MD; Katakanlah bahwa Anda adalah operator TV kabel dan ingin menemukan di bidang mana Anda harus meletakkan antena Anda sehingga Anda dapat memberi makan empat desa dan menggunakan kabel kecil sepanjang mungkin!

```
>D=[1,1];
>function d4(x,y):=d3(x,y)+sqrt((x-D[1])^2+(y-D[2])^2)
>plot3d("d4",xmin=-1.5,xmax=1.5,ymin=-1.5,ymax=1.5):
```

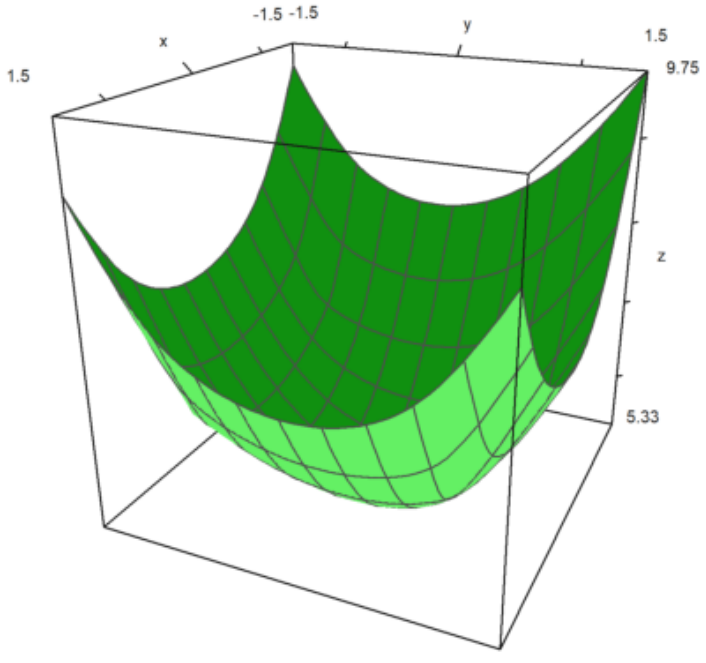


```
>fcontour("d4",xmin=-1.5,xmax=1.5,ymin=-1.5,ymax=1.5,hue=1);
>P=(A_B_C_D)'; plot2d(P[1],P[2],points=1,add=1,color=12);
>insimg;
```

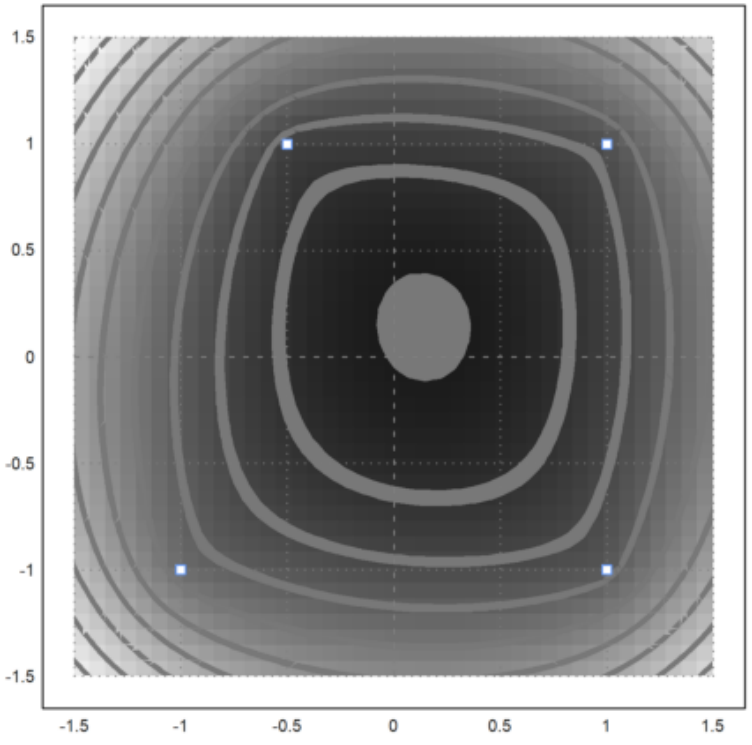

Masih ada minimum dan tidak ada yang dicapai pada simpul A,B,C atau D:

```
>function f(x):=d4(x[1],x[2])
>neldermin("f",[0.2,0.2])
```

```
  [0.142858,  0.142857]
```

ampaknya dalam kasus ini, koordinat titik optimal rasional atau mendekati rasional ...

Sekarang ABCD adalah bujur sangkar, kami andaikan bahwa titik optimal adalah pusat ABCD:

```
>C=[-1,1];
>plot3d("d4",xmin=-1,xmax=1,ymin=-1,ymax=1):
```

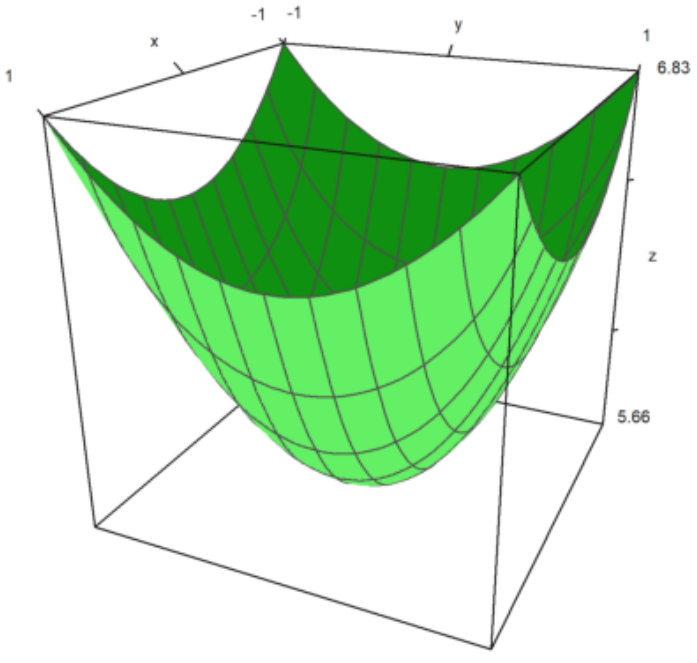


```
>fcontour("d4",xmin=-1.5,xmax=1.5,ymin=-1.5,ymax=1.5,hue=1);
>P=(A_B_C_D)'; plot2d(P[1],P[2],add=1,color=12,points=1);
>insimg;
```

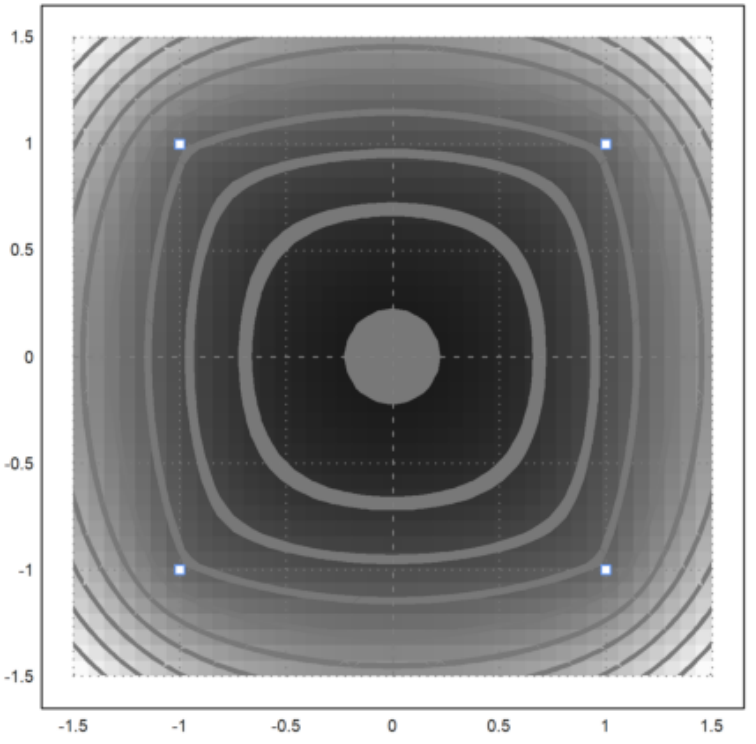
1.5
1
0.5
0
-0.5
-1
-1.5
-1.5
-1
-0.5
0
0.5
1
1.5

Contoh 7: Bola Dandelin dengan Povray

Anda dapat menjalankan demonstrasi ini, jika Anda memiliki Povray diinstal, dan pvengine.exe di jalur program.

Pertama kami menghitung jari-jari bola.

Jika Anda melihat gambar di bawah, Anda melihat bahwa kita membutuhkan dua lingkaran yang menyentuh dua garis yang membentuk kerucut, dan satu garis yang membentuk bidang memotong kerucut.

Kami menggunakan file geometry.e dari Euler untuk ini.

```
>load geometry;
```

Pertama, dua garis yang membentuk kerucut

```
>g1 &= lineThrough([0,0],[1,a])
```

```
[- a, 1, 0]
```

```
>g2 &= lineThrough([0,0],[-1,a])
```

```
[- a, - 1, 0]
```

Kemudian baris ketiga.

```
>g &= lineThrough([-1,0],[1,1])
```

```
[- 1, 2, 1]
```

Kami plot semuanya sejauh ini

```
>setPlotRange(-1,1,0,2);
>color(black); plotLine(g(),"")
>a:=2; color(blue); plotLine(g1(),""), plotLine(g2(),""):
```

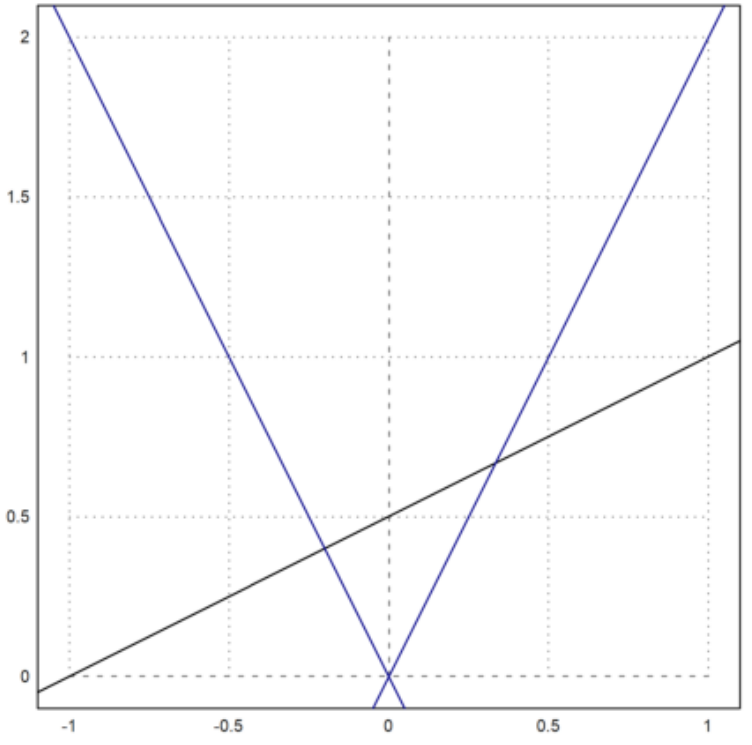

Sekarang kita ambil titik umum pada sumbu y.

```
>P &= [0,u]
```

```
[0, u]
```

Hitung jarak ke g1

```
>d1 &= distance(P,projectToLine(P,g1)); $d1
```

$$\sqrt{\left(\frac{a^2\,u}{a^2+1}-u\right)^2+\frac{a^2\,u^2}{\left(a^2+1\right)^2}}$$

Hitung jarak ke g.

```
>d &= distance(P,projectToLine(P,g)); $d
```

$$\sqrt{\left(\frac{u+2}{5}-u\right)^2+\frac{\left(2\,u-1\right)^2}{25}}$$

Dan temukan pusat kedua lingkaran, di mana jaraknya sama.

```
>sol &= solve(d1^2=d^2,u); $sol
```

$$\left[u=\frac{-\sqrt{5}\,\sqrt{a^2+1}+2\,a^2+2}{4\,a^2-1},u=\frac{\sqrt{5}\,\sqrt{a^2+1}+2\,a^2+2}{4\,a^2-1}\right]$$

Ada dua solusi.

Kami mengevaluasi solusi simbolis, dan menemukan kedua pusat, dan kedua jarak.

```
>u := sol()
```

```
  [0.333333,  1]
```

```
>dd := d()
```

```
  [0.149071,  0.447214]
```

Plot lingkaran ke dalam gambar.

```
>color(red);
>plotCircle(circleWithCenter([0,u[1]],dd[1]),"");
>plotCircle(circleWithCenter([0,u[2]],dd[2]),"");
>insimg;
```

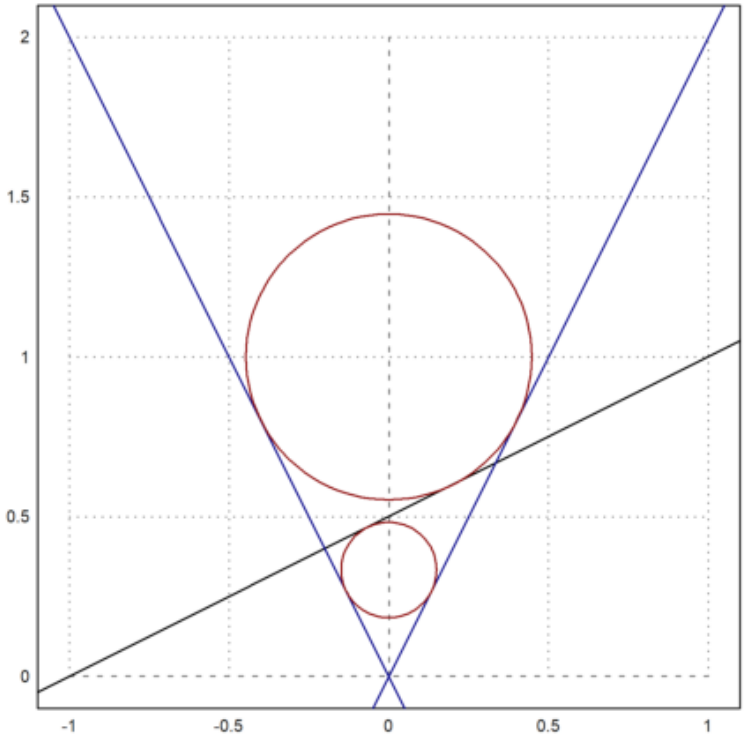

Plot dengan Povray

Selanjutnya kami merencanakan semuanya dengan Povray. Perhatikan bahwa Anda mengubah perintah apa pun dalam urutan perintah Povray berikut, dan jalankan kembali semua perintah dengan Shift-Return.

Pertama kita memuat fungsi povray.

```
>load povray;
>defaultpovray="C:\Program Files\POV-Ray\v3.7\bin\pvengine.exe"
```

```
  C:\Program Files\POV-Ray\v3.7\bin\pvengine.exe
```

Kami mengatur adegan dengan tepat.

```
>povstart(zoom=11,center=[0,0,0.5],height=10°,angle=140°);
```

Selanjutnya kami menulis dua bidang ke file Povray.

```
>writeln(povsphere([0,0,u[1]],dd[1],povlook(red)));
>writeln(povsphere([0,0,u[2]],dd[2],povlook(red)));
```

Dan kerucutnya, transparan.

```
>writeln(povcone([0,0,0],0,[0,0,a],1,povlook(lightgray,1)));
```

Kami menghasilkan bidang terbatas pada kerucut.

```
>gp=g();
>pc=povcone([0,0,0],0,[0,0,a],1,"");
>vp=[gp[1],0,gp[2]]; dp=gp[3];
>writeln(povplane(vp,dp,povlook(blue,0.5),pc));
```

Sekarang kami menghasilkan dua titik pada lingkaran, di mana bola menyentuh kerucut.

```
>function turnz(v) := return [-v[2],v[1],v[3]]
>P1=projectToLine([0,u[1]],g1()); P1=turnz([P1[1],0,P1[2]]);
>writeln(povpoint(P1,povlook(yellow)));
>P2=projectToLine([0,u[2]],g1()); P2=turnz([P2[1],0,P2[2]]);
>writeln(povpoint(P2,povlook(yellow)));
```

Kemudian kami menghasilkan dua titik di mana bola menyentuh bidang. Ini adalah fokus elips.

```
>P3=projectToLine([0,u[1]],g()); P3=[P3[1],0,P3[2]];
>writeln(povpoint(P3,povlook(yellow)));
>P4=projectToLine([0,u[2]],g()); P4=[P4[1],0,P4[2]];
>writeln(povpoint(P4,povlook(yellow)));
```

Selanjutnya kita menghitung perpotongan P1P2 dengan bidang.

```
>t1=scalp(vp,P1)-dp; t2=scalp(vp,P2)-dp; P5=P1+t1/(t1-t2)*(P2-P1);
>writeln(povpoint(P5,povlook(yellow)));
```

Kami menghubungkan titik dengan segmen garis.

```
>writeln(povsegment(P1,P2,povlook(yellow)));
>writeln(povsegment(P5,P3,povlook(yellow)));
>writeln(povsegment(P5,P4,povlook(yellow)));
```

Sekarang kami membuat pita abu-abu, di mana bola menyentuh kerucut.

```
>pcw=povcone([0,0,0],0,[0,0,a],1.01);
>pc1=povcylinder([0,0,P1[3]-defaultpointsize/2],[0,0,P1[3]+defaultpointsize/2],1);
>writeln(povintersection([pcw,pc1],povlook(gray)));
>pc2=povcylinder([0,0,P2[3]-defaultpointsize/2],[0,0,P2[3]+defaultpointsize/2],1);
>writeln(povintersection([pcw,pc2],povlook(gray)));
```

Mulai program Povray.

```
>povend();
```

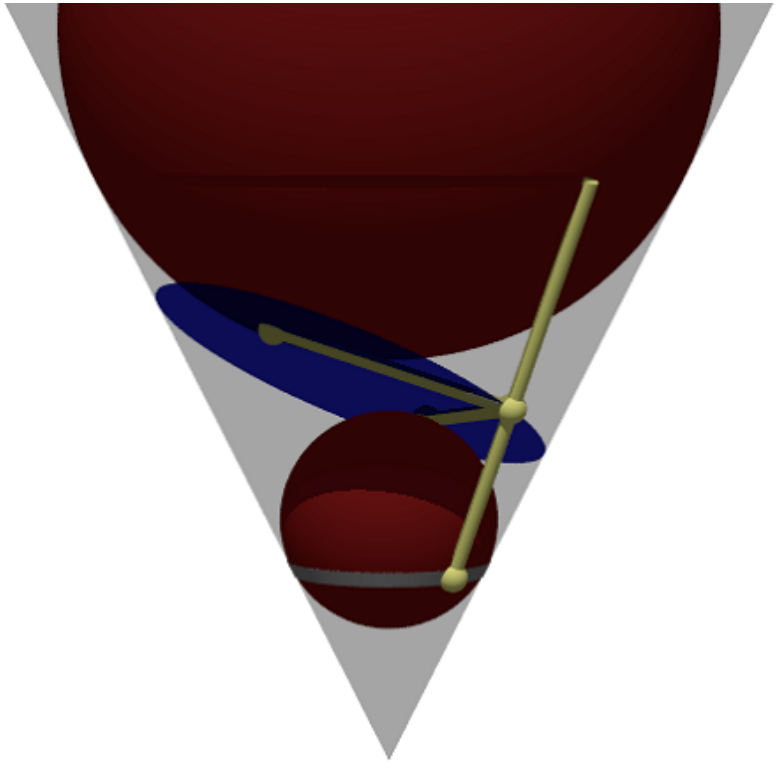

Untuk mendapatkan Anaglyph ini, kita perlu memasukkan semuanya ke dalam fungsi scene. Fungsi ini akan digunakan dua kali kemudian.

```
>function scene () ...
```

```
global a,u,dd,g,g1,defaultpointsize;
writeln(povsphere([0,0,u[1]],dd[1],povlook(red)));
writeln(povsphere([0,0,u[2]],dd[2],povlook(red)));
writeln(povcone([0,0,0],0,[0,0,a],1,povlook(lightgray,1)));
gp=g();
pc=povcone([0,0,0],0,[0,0,a],1,"");
vp=[gp[1],0,gp[2]]; dp=gp[3];
writeln(povplane(vp,dp,povlook(blue,0.5),pc));
P1=projectToLine([0,u[1]],g1()); P1=turnz([P1[1],0,P1[2]]);
writeln(povpoint(P1,povlook(yellow)));
P2=projectToLine([0,u[2]],g1()); P2=turnz([P2[1],0,P2[2]]);
writeln(povpoint(P2,povlook(yellow)));
P3=projectToLine([0,u[1]],g()); P3=[P3[1],0,P3[2]];
writeln(povpoint(P3,povlook(yellow)));
P4=projectToLine([0,u[2]],g()); P4=[P4[1],0,P4[2]];
writeln(povpoint(P4,povlook(yellow)));
t1=scalp(vp,P1)-dp; t2=scalp(vp,P2)-dp; P5=P1+t1/(t1-t2)*(P2-P1);
writeln(povpoint(P5,povlook(yellow)));
writeln(povsegment(P1,P2,povlook(yellow)));
writeln(povsegment(P5,P3,povlook(yellow)));
writeln(povsegment(P5,P4,povlook(yellow)));
pcw=povcone([0,0,0],0,[0,0,a],1.01);
pc1=povcylinder([0,0,P1[3]-defaultpointsize/2],[0,0,P1[3]+defaultpointsize/2],1);
writeln(povintersection([pcw,pc1],povlook(gray)));
pc2=povcylinder([0,0,P2[3]-defaultpointsize/2],[0,0,P2[3]+defaultpointsize/2],1);
writeln(povintersection([pcw,pc2],povlook(gray)));
endfunction
```

Anda membutuhkan kacamata merah / cyan untuk mengapresiasi efek berikut.

```
>povanaglyph("scene",zoom=11,center=[0,0,0.5],height=10°,angle=140°);
```



Contoh 8: Geometri Bumi

Di notebook ini, kami ingin melakukan beberapa komputasi bola. Fungsi-fungsi tersebut terdapat di dalam file "spherical.e" di folder contoh. Kita perlu memuat file itu dulu.

```
>load "spherical.e";
```

Untuk memasukkan posisi geografis, kami menggunakan vektor dengan dua koordinat dalam radian (utara dan timur, nilai negatif untuk selatan dan barat). Berikut koordinat Kampus FMIPA UNY.

```
>FMIPA=[rad(-7,-46.467),rad(110,23.05)]
```

```
  [-0.13569,  1.92657]
```

Anda dapat mencetak posisi ini dengan sposprint (cetak posisi bola).

```
>sposprint(FMIPA) // posisi garis lintang dan garis bujur FMIPA UNY
```

```
  S 7°46.467' E 110°23.050'
```

Mari kita tambahkan dua kota lagi, Solo dan Semarang.

```
>Solo=[rad(-7,-34.333),rad(110,49.683)]; Semarang=[rad(-6,-59.05),rad(110,24.533)];
>sposprint(Solo), sposprint(Semarang),
```

```
S 7°34.333’ E 110°49.683’
S 6°59.050’ E 110°24.533’
```

Pertama kita menghitung vektor dari satu bola ke bola lainnya pada bola ideal. Vektor ini adalah [heading, distance] dalam radian.Untuk menghitung jarak di bumi, kita mengalikan dengan jari-jari bumi pada garis lintang 7°.

```
>br=svector(FMIPA,Solo); degprint(br[1]), br[2]*rearth(7°)->km // perkiraan jarak FMIPA-Solo
```

```
65°20’26.60’’
53.8945384608
```

Ini adalah perkiraan yang bagus. Rutinitas berikut menggunakan perkiraan yang lebih baik. Pada jarak yang begitu dekat hasilnya hampir sama.

```
>esdist(FMIPA,Semarang)->" km" // perkiraan jarak FMIPA-Semarang
```

```
Commands must be separated by semicolon or comma!
Found:  // perkiraan jarak FMIPA-Semarang (character 32)
You can disable this in the Options menu.
Error in:
esdist(FMIPA,Semarang)->" km" // perkiraan jarak FMIPA-Semaran ...
                              ^
```

Ada fungsi untuk heading, dengan mempertimbangkan bentuk bumi yang elips. Sekali lagi, kami mencetak dalam format cara maju.

```
>sdegprint(esdir(FMIPA,Solo))
```

```
      65.34°
```

Sudut segitiga melebihi 180° pada bola.

```
>asum=sangle(Solo,FMIPA,Semarang)+sangle(FMIPA,Solo,Semarang)+sangle(FMIPA,Semarang,Solo); degprint(
```

```
  180°0’10.77’’
```

Ini dapat digunakan untuk menghitung luas segitiga. Catatan: Untuk segitiga kecil, ini tidak akurat karena kesalahan pengurangan dalam asum-pi.

```
>(asum-pi)*rearth(48°)^2->" km^2" // perkiraan luas segitiga FMIPA-Solo-Semarang
```

```
Commands must be separated by semicolon or comma!
Found:  // perkiraan luas segitiga FMIPA-Solo-Semarang (character 32)
You can disable this in the Options menu.
Error in:
(asum-pi)*rearth(48°)^2->" km^2" // perkiraan luas segitiga FM ...
                                 ^
```

Ada fungsi untuk ini, yang menggunakan garis lintang rata-rata segitiga untuk menghitung jari-jari bumi, dan mengambil perawatan kesalahan pembulatan untuk segitiga yang sangat kecil.

```
>esarea(Solo,FMIPA,Semarang)->" km^2", //perkiraan yang sama dengan fungsi esarea()
```

```
2123.64310526 km^2
```

Kami juga dapat menambahkan vektor ke posisi. Vektor berisi heading dan jarak, keduanya dalam radian. Untuk mendapatkan vektor, kami menggunakan svector. Untuk menambahkan vektor ke posisi, kami menggunakan saddvector.

```
>v=svector(FMIPA,Solo); sposprint(saddvector(FMIPA,v)), sposprint(Solo),
```

```
  S 7°34.333' E 110°49.683'
  S 7°34.333' E 110°49.683'
```

Fungsi-fungsi ini mengasumsikan bola yang ideal. Hal yang sama di bumi.

```
>sposprint(esadd(FMIPA,esdir(FMIPA,Solo),esdist(FMIPA,Solo))), sposprint(Solo),
```

```
  S 7°34.333' E 110°49.683'
  S 7°34.333' E 110°49.683'
```

Mari kita beralih ke contoh yang lebih besar, Tugu Jogja dan Monas Jakarta (menggunakan Google Earth untuk mencari koordinatnya.

```
>Tugu=[-7.7833°,110.3661°]; Monas=[-6.175°,106.811944°];
>sposprint(Tugu), sposprint(Monas)
```

```
  S 7°46.998' E 110°21.966'
  S 6°10.500' E 106°48.717'
```

Menurut Google Earth, jaraknya 429,66 km. Kami mendapatkan perkiraan yang bagus.

```
>esdist(Tugu,Monas)->" km" // perkiraan jarak Tugu Jogja - Monas Jakarta
```

```
Commands must be separated by semicolon or comma!
Found:  // perkiraan jarak Tugu Jogja - Monas Jakarta (character 32)
You can disable this in the Options menu.
Error in:
esdist(Tugu,Monas)->" km" // perkiraan jarak Tugu Jogja - Mona ...
                          ^
```

Judulnya sama dengan yang dihitung di Google Earth.

```
>degprint(esdir(Tugu,Monas))
```

```
294°17’2.85’’
```

Namun, kami tidak lagi mendapatkan posisi target yang tepat, jika kami menambahkan heading dan jarak ke posisi aslinya. Begitulah, karena kita tidak menghitung fungsi invers dengan tepat, tetapi mengambil pendekatan dari jari-jari bumi di sepanjang jalan.

```
>sposprint(esadd(Tugu,esdir(Tugu,Monas),esdist(Tugu,Monas)))
```

```
S 6°10.500’ E 106°48.717’
```

Namun, kesalahannya tidak besar.

```
>sposprint(Monas),
```

```
  S 6°10.500' E 106°48.717'
```

Tentu kita tidak bisa berlayar dengan tujuan yang sama dari satu tujuan ke tujuan lainnya, jika kita ingin mengambil jarak yang paling pendek. Bayangkan, Anda terbang NE mulai dari titik mana pun di bumi. Kemudian Anda akan berputar ke kutub utara. Bagus lingkaran tidak mengikuti tajuk konstan!

Perhitungan berikut menunjukkan bahwa kami jauh dari tujuan yang benar, jika kami menggunakan judul yang sama selama perjalanan kita.

```
>dist=esdist(Tugu,Monas); hd=esdir(Tugu,Monas);
```

Sekarang kita tambahkan 10 kali sepersepuluh jaraknya, menggunakan heading ke Monas, kita sampai di Tugu.

```
>p=Tugu; loop 1 to 10; p=esadd(p,hd,dist/10); end;
```

Hasilnya masih jauh.

```
>sposprint(p), skmprint(esdist(p,Monas))
```

```
  S 6°11.250' E 106°48.372'
       1.529km
```

Sebagai contoh lain, mari kita ambil dua titik di bumi pada ketinggian yang sama.

```
>P1=[30°,10°]; P2=[30°,50°];
```

Jalur terpendek dari P1 ke P2 bukanlah lingkaran garis lintang 30˚, tetapi jalur yang lebih pendek mulai 10˚lebih jauh ke utara di P1.

```
>sdegprint(esdir(P1,P2))
```

```
       79.69°
```

Tapi, jika kita mengikuti pembacaan kompas ini, kita akan berputar ke kutub utara! Jadi kita harus menyesuaikan heading kita di sepanjang cara. Untuk tujuan kasar, kami menyesuaikannya pada 1/10 dari jarak total.

```
>p=P1;  dist=esdist(P1,P2); ...
>  loop 1 to 10; dir=esdir(p,P2); sdegprint(dir), p=esadd(p,dir,dist/10); end;
```

```
79.69°
81.67°
83.71°
85.78°
87.89°
90.00°
92.12°
94.22°
96.29°
98.33°
```

Jaraknya tidak tepat, karena kita akan menambahkan sedikit kesalahan, jika kita mengikuti tajuk yang sama terlalu lama.

```
>skmprint(esdist(p,P2))
```

```
0.203km
```

Kami mendapatkan perkiraan yang baik, jika kami menyesuaikan heading setelah setiap 1/100 dari total jarak dari Tugu ke Monas.

```
>p=Tugu; dist=esdist(Tugu,Monas); ...
>  loop 1 to 100; p=esadd(p,esdir(p,Monas),dist/100); end;
>skmprint(esdist(p,Monas))
```

```
       0.000km
```

Untuk keperluan navigasi, kita bisa mendapatkan urutan posisi GPS di sepanjang lingkaran besar menuju Monas dengan fungsi navigasi.

```
>load spherical; v=navigate(Tugu,Monas,10); ...
>  loop 1 to rows(v); sposprint(v[#]), end;
```

```
  S 7°46.998’ E 110°21.966’
  S 7°37.422’ E 110°0.573’
  S 7°27.829’ E 109°39.196’
  S 7°18.219’ E 109°17.834’
  S 7°8.592’ E 108°56.488’
  S 6°58.948’ E 108°35.157’
  S 6°49.289’ E 108°13.841’
  S 6°39.614’ E 107°52.539’
  S 6°29.924’ E 107°31.251’
  S 6°20.219’ E 107°9.977’
  S 6°10.500’ E 106°48.717’
```

Kami menulis sebuah fungsi, yang menggambarkan bumi, dua posisi, dan posisi di antaranya.

```
>function testplot ...
```

```
useglobal;
plotearth;
plotpos(Tugu,"Tugu Jogja"); plotpos(Monas,"Tugu Monas");
plotposline(v);
endfunction
```

Sekarang plot semuanya.

```
>plot3d("testplot",angle=25, height=6,>own,>user,zoom=4):
```

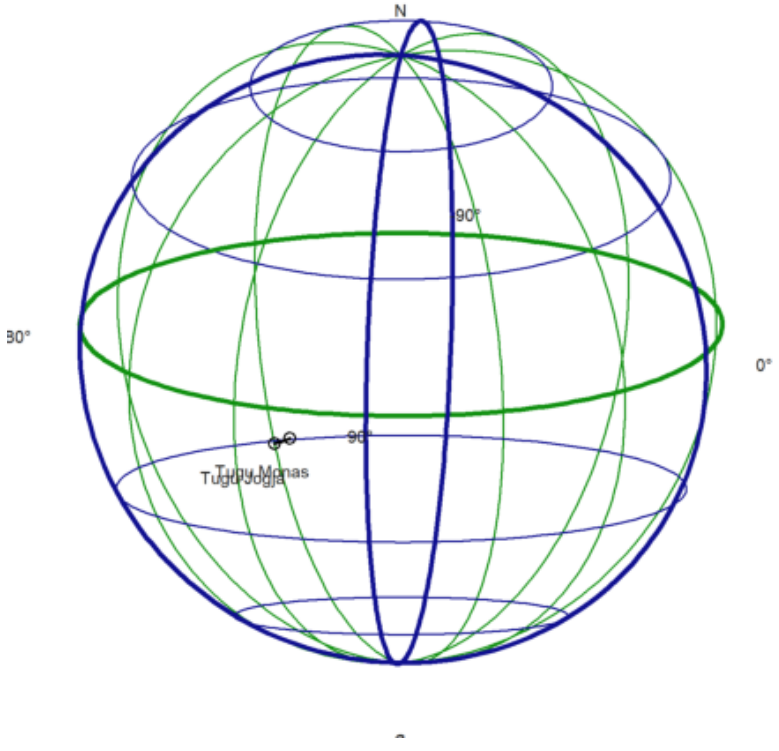

Atau gunakan plot3d untuk mendapatkan tampilan anaglyphnya. Ini terlihat sangat bagus dengan kacamata merah / cyan.

```
>plot3d("testplot",angle=25,height=6,distance=5,own=1,anaglyph=1,zoom=4):
```

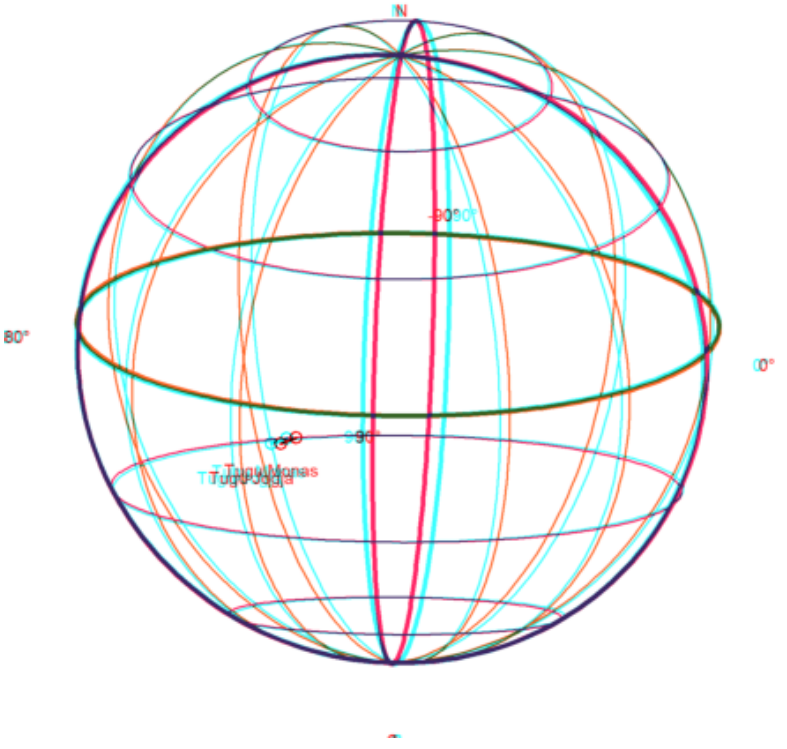
N
90°
80°
0°
Tanay
Manas

Latihan

1. Gambarlah segi-n beraturan jika diketahui titik pusat O, n, dan jarak titik pusat ke titik-titik sudut segi-n tersebut (jari-jari lingkaran luar segi-n), r.

Petunjuk:

- Besar sudut pusat yang menghadap masing-masing sisi segi-n adalah (360/n).
- Titik-titik sudut segi-n merupakan perpotongan lingkaran luar segi-n dan garis-garis yang melalui pusat dan saling membentuk sudut sebesar kelipatan (360/n).
- Untuk n ganjil, pilih salah satu titik sudut adalah di atas.
- Untuk n genap, pilih 2 titik di kanan dan kiri lurus dengan titik pusat.
- Anda dapat menggambar segi-3, 4, 5, 6, 7, dst beraturan.

```
>load geometry
```

```
  Numerical and symbolic geometry.
```

```
>setPlotRange(-3.5,3.5,-3.5,3.5):
```

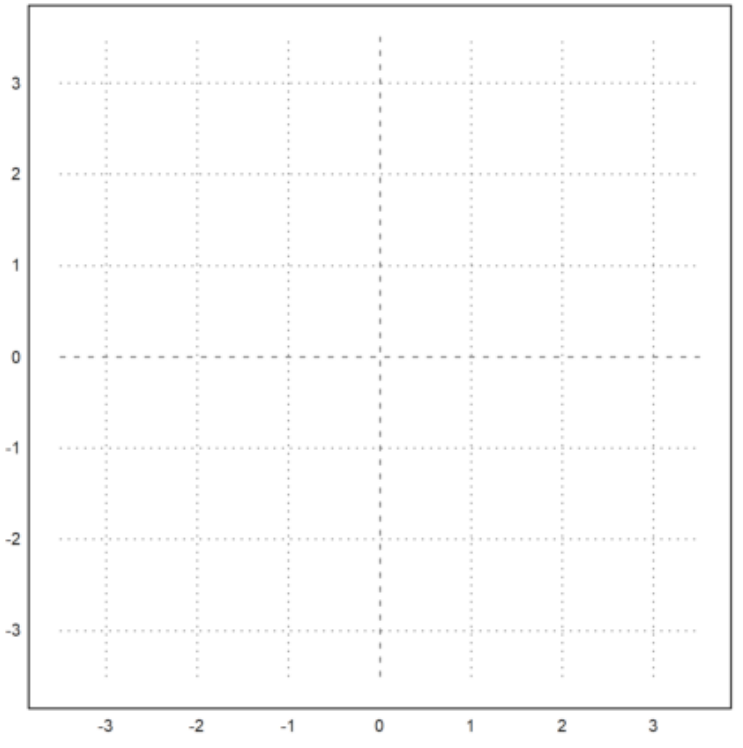


```
>A=[-2,-2]; plotPoint(A,"A"):
```

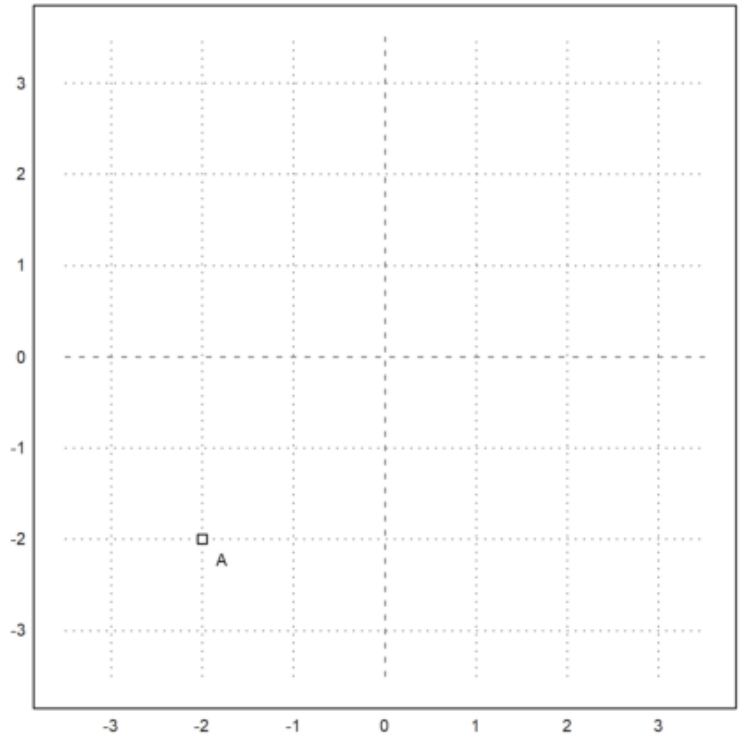


```
>B=[2,-2]; plotPoint(B,"B"):
```

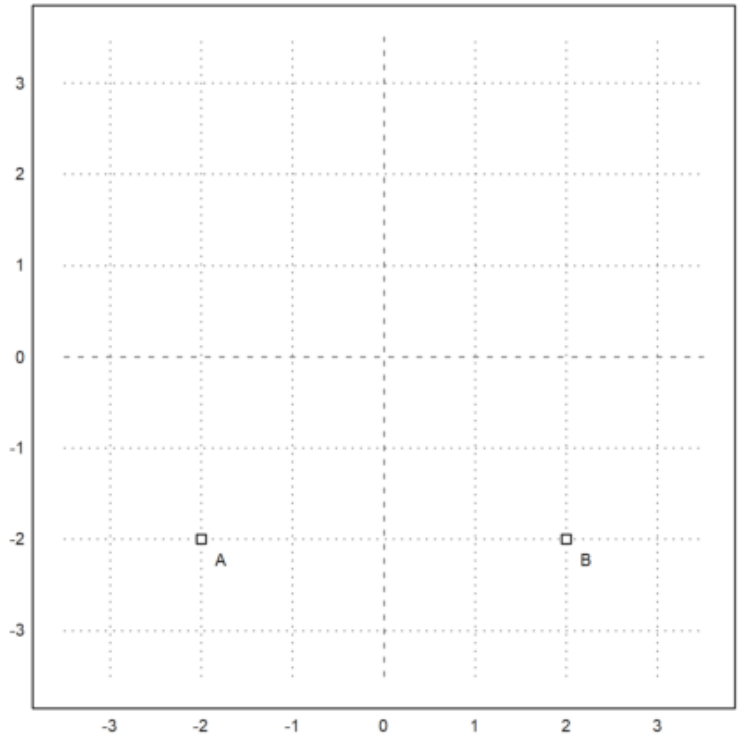


```
>plotSegment(A,B,"c"):
```

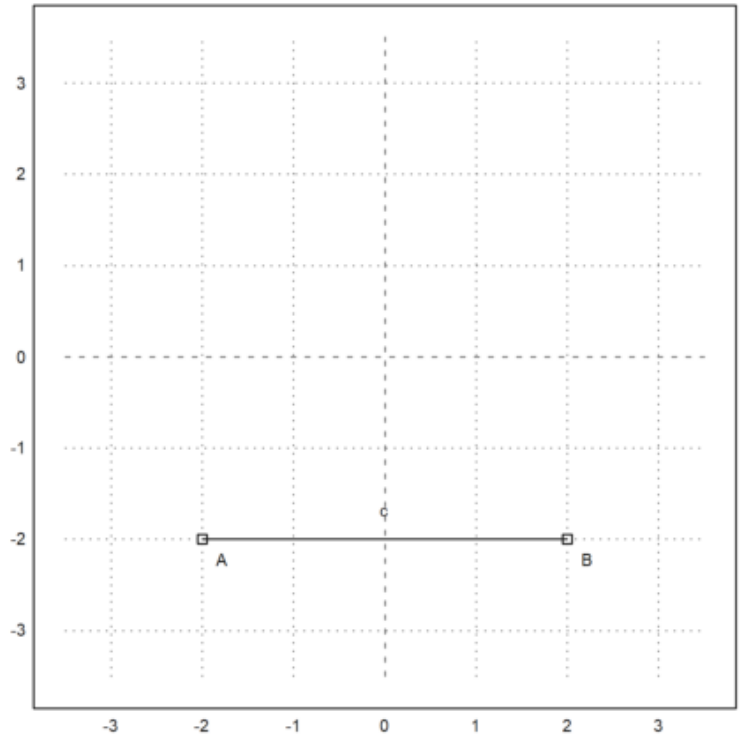


```
>plotSegment(B,C,"a"):
```

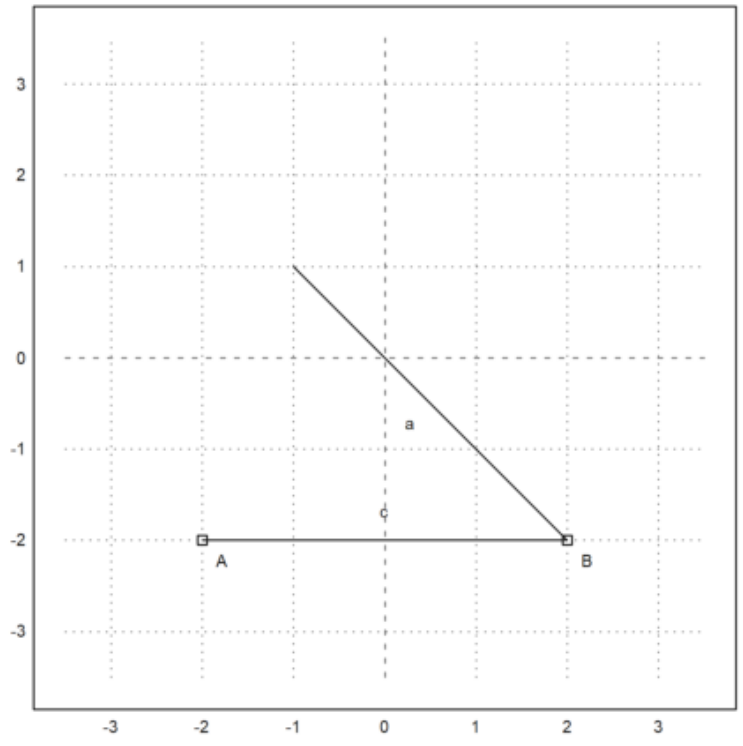


```
>plotSegment(A,C,"b");
>aspect(1);
>c=circleThrough(A,B,C);
>R=getCircleRadius(c);
>O=getCircleCenter(c);
>plotPoint(O,"O");
>l=angleBisector(A,C,B):
```

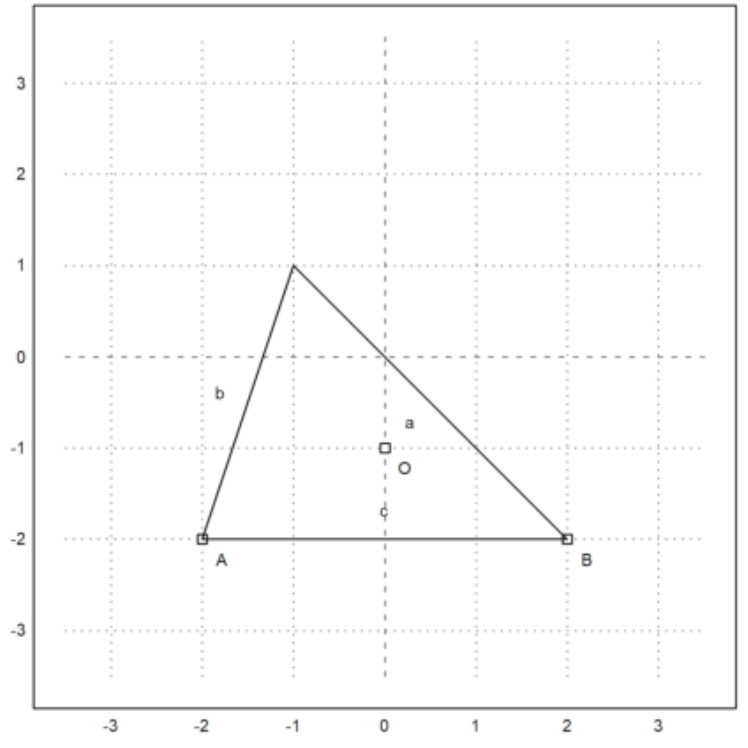


```
>color(2); plotLine(l); color(1):
```

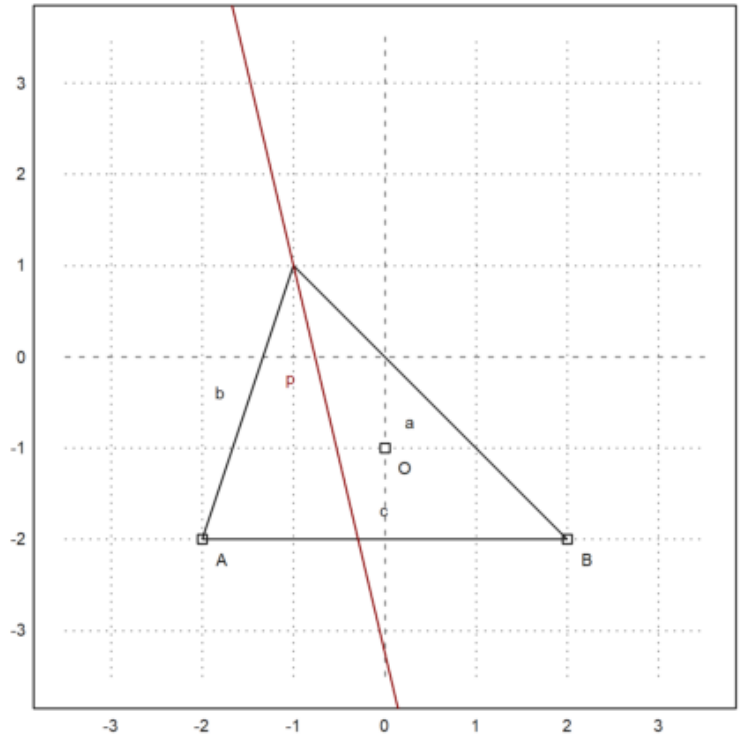


```
>plotCircle(c,"Lingkaran luar segitiga ABC"):
```

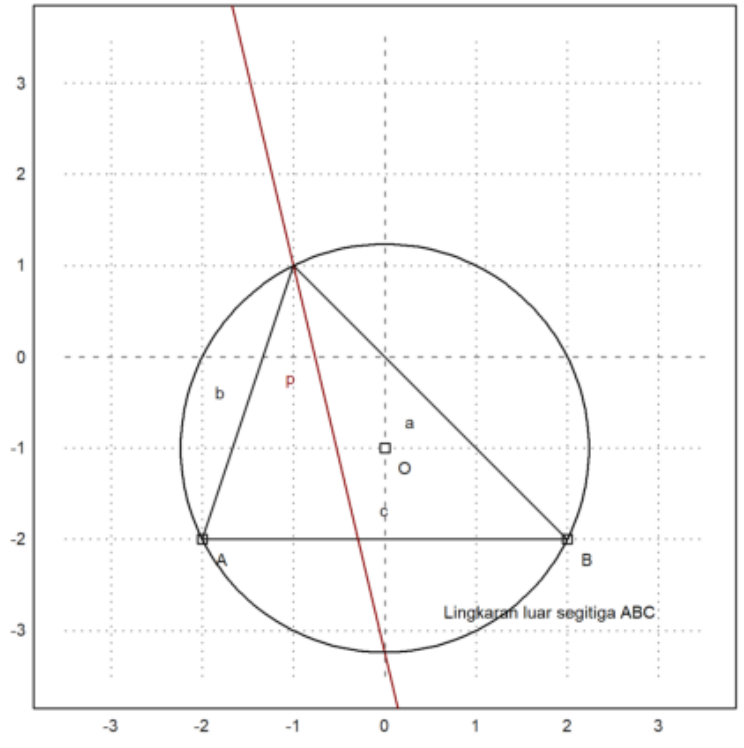
3
2
1
0
-1
-2
-3
-3
-2
-1
0
1
2
3
b
p
a
O
c
A
B
Lingkaran luar segitiga ABC

>

2. Gambarlah suatu parabola yang melalui 3 titik yang diketahui.

Petunjuk:
- Misalkan persamaan parabolanya y= axˆ2+bx+c.
- Substitusikan koordinat titik-titik yang diketahui ke persamaan tersebut.
- Selesaikan SPL yang terbentuk untuk mendapatkan nilai-nilai a, b, c.

```
>load geometry;
>setPlotRange(5); P=[2,0]; Q=[4,0]; R=[0,-4]:
```

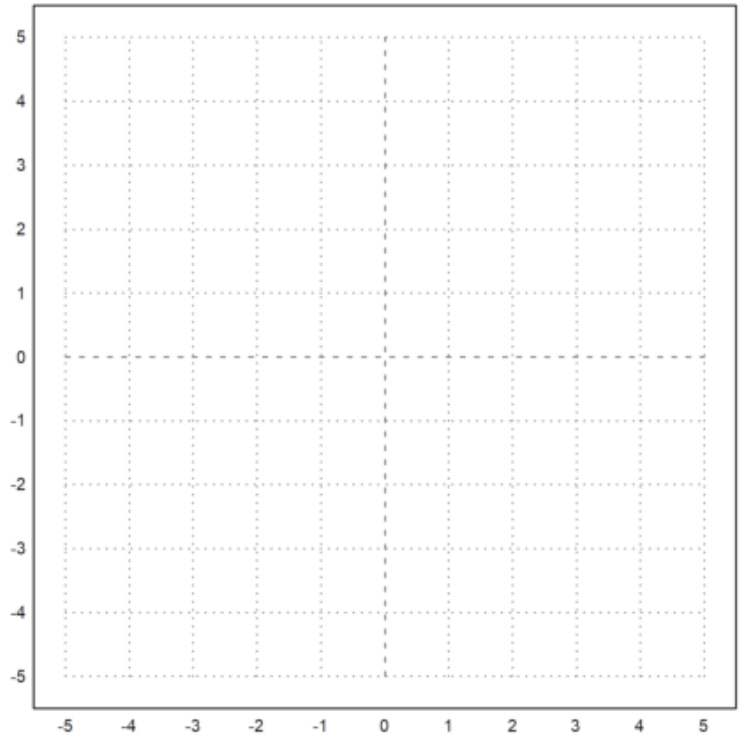


```
>plotPoint(P,"P"); plotPoint(Q,"Q"); plotPoint(R,"R"):
```

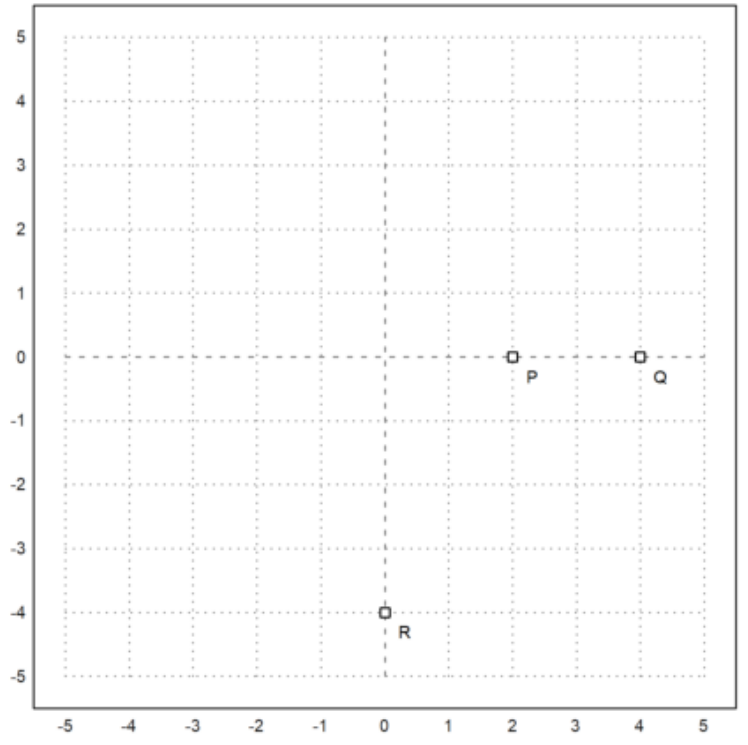


```
>sol &= solve([a+b=-c,16*a+4*b=-c,c=-4],[a,b,c])
```

```
[[a = - 1, b = 5, c = - 4]]
```

3. Gambarlah suatu segi-4 yang diketahui keempat titik sudutnya, misalnya A, B, C, D.

- Tentukan apakah segi-4 tersebut merupakan segi-4 garis singgung

(sisinya-sisintya merupakan garis singgung lingkaran yang sama yakni lingkaran dalam segi-4 tersebut).

- Suatu segi-4 merupakan segi-4 garis singgung apabila keempat

garis bagi sudutnya bertemu di satu titik.

- Jika segi-4 tersebut merupakan segi-4 garis singgung, gambar

lingkaran dalamnya.

- Tunjukkan bahwa syarat suatu segi-4 merupakan segi-4 garis

singgung apabila hasil kali panjang sisi-sisi yang berhadapan sama.

```
>load geometry
```

```
  Numerical and symbolic geometry.
```

```
>setPlotRange(-4.5,4.5,-4.5,4.5):
```

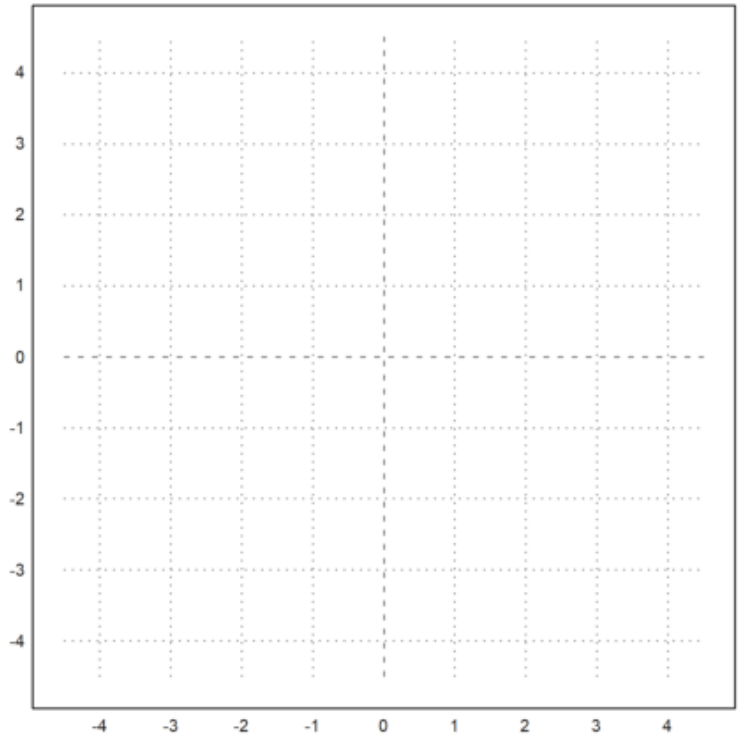


```
>A=[-3,-3]; plotPoint(A,"A"):
```

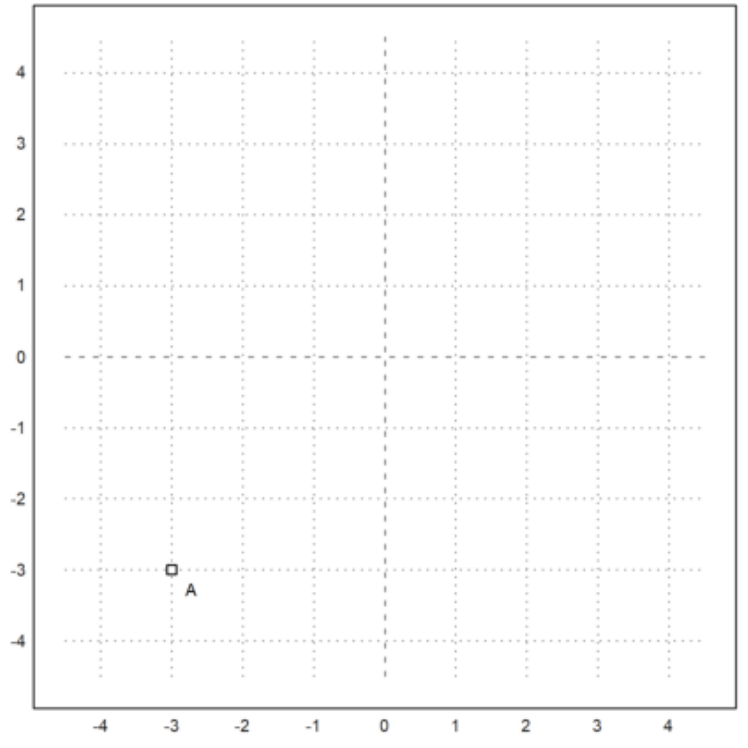


```
>B=[3,-3]; plotPoint(B,"B"):
```

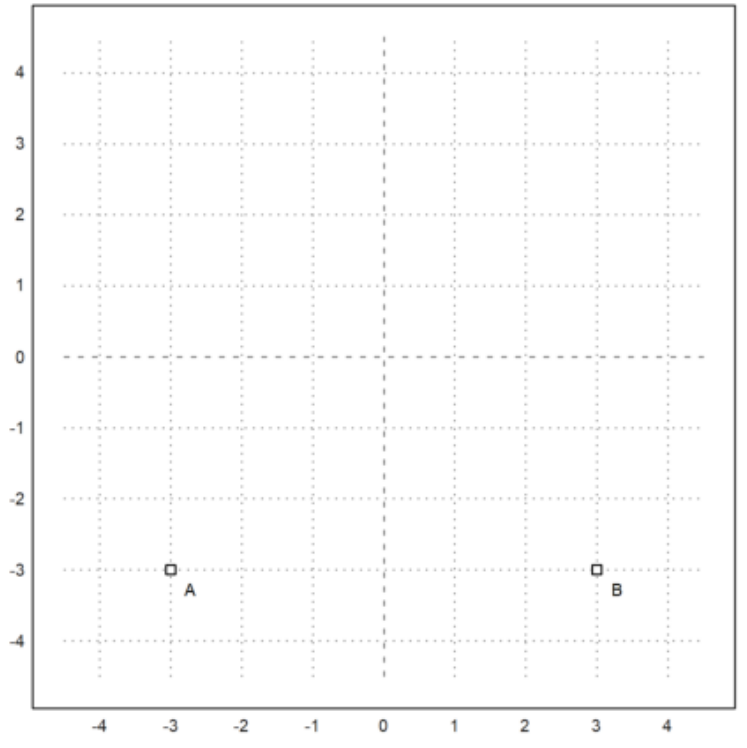


```
>C=[3,3]; plotPoint(C,"C"):
```

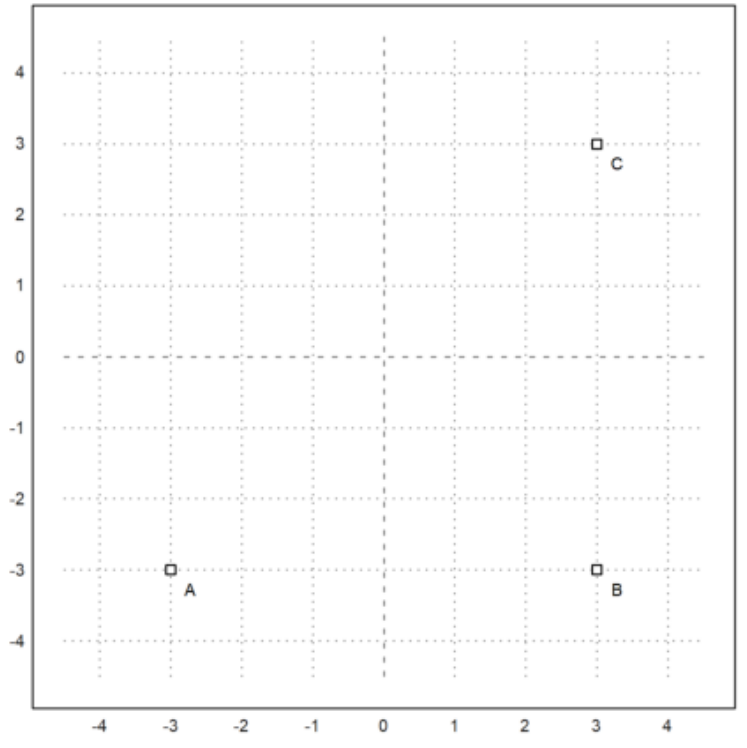


```
>D=[-3,3]; plotPoint(D,"D"):
```

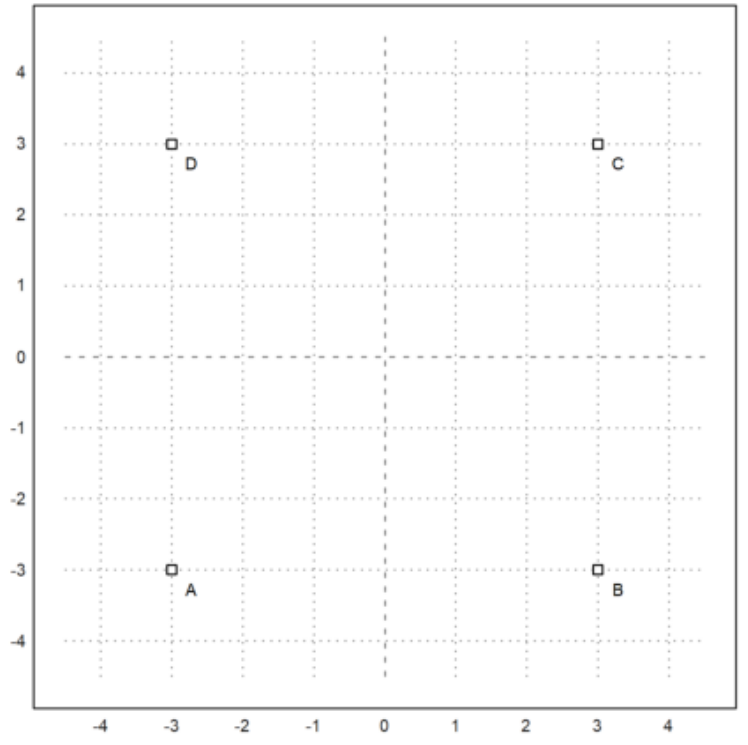


```
>plotSegment(A,B,"");
>plotSegment(B,C,"");
>plotSegment(C,D,"");
>plotSegment(A,D,"");
>aspect(1):
```

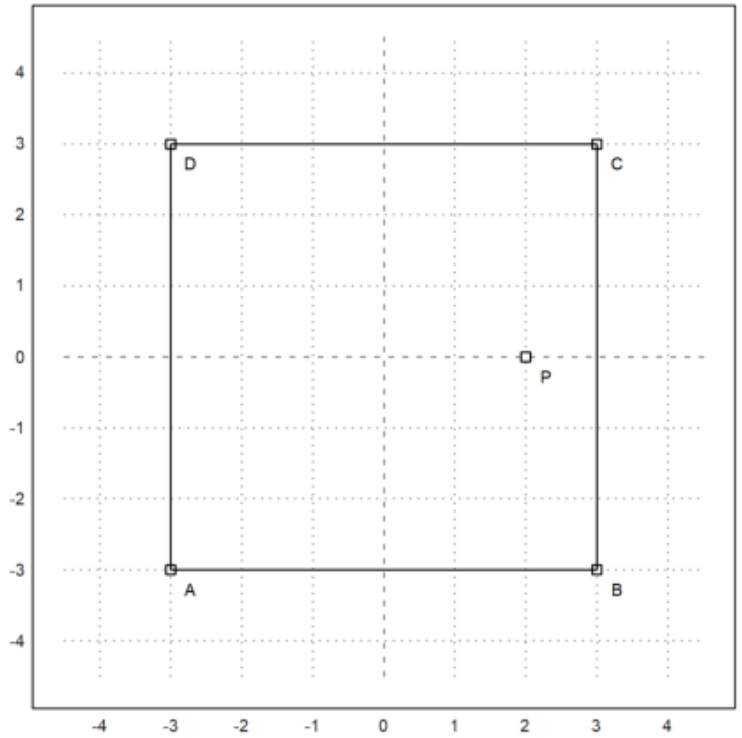


```
>l=angleBisector(A,B,C);
>m=angleBisector(B,C,D);
>P=lineIntersection(l,m);
>color(5); plotLine(l); plotLine(m); color(1);
>plotPoint(P,"P"):
```

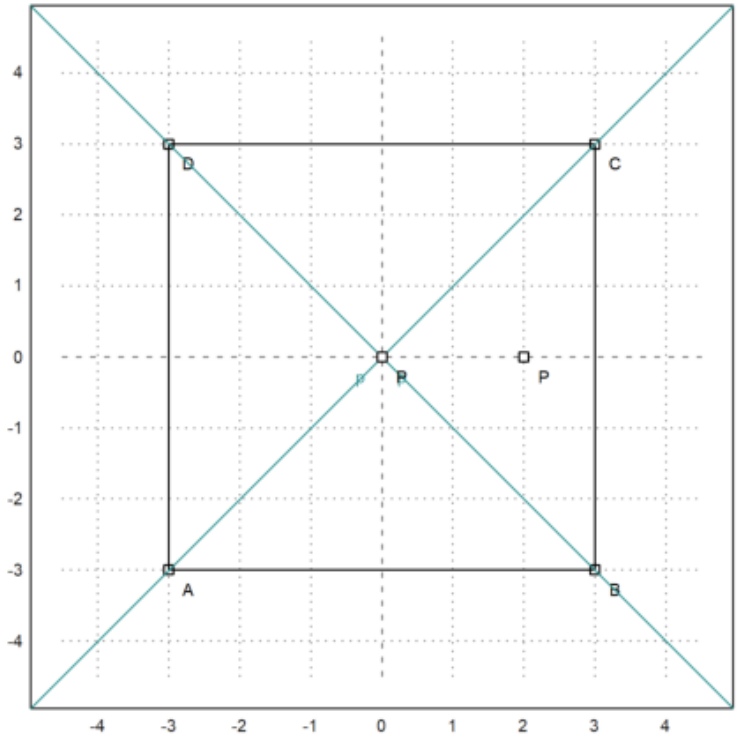

Dari gambar diatas terlihat bahwa keempat garis bagi sudutnya bertemu di satu titik yaitu titik P.

```
>r=norm(P-projectToLine(P,lineThrough(A,B)));
>plotCircle(circleWithCenter(P,r),"Lingkaran dalam segiempat ABCD"):
```

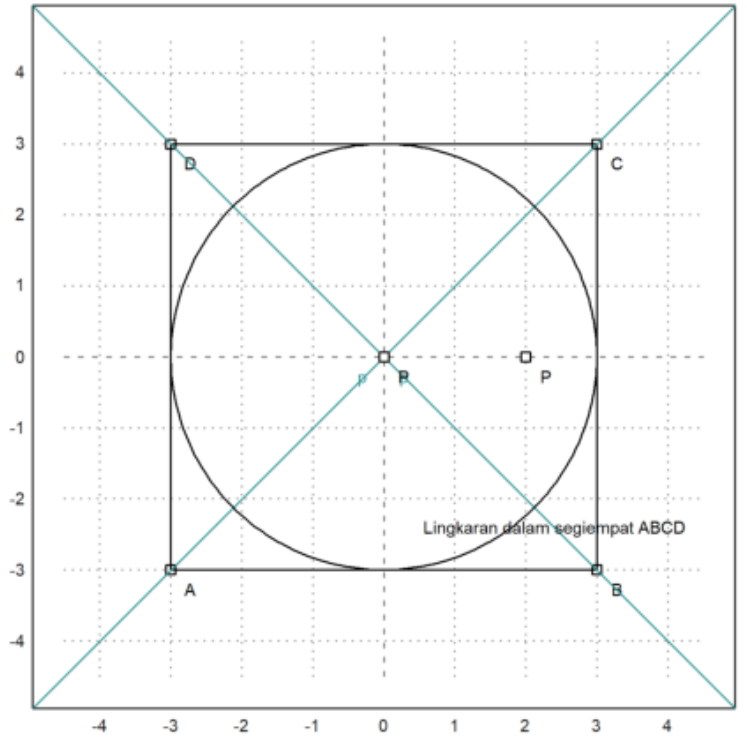


```
>AB=norm(A-B) //panjang sisi AB
```

6

```
>CD=norm(C-D) //panjang sisi CD
```

```
  6
```

```
>AD=norm(A-D) //panjang sisi AD
```

```
  6
```

```
>BC=norm(B-C) //panjang sisi BC
```

```
  6
```

```
>AB.CD
```

```
  36
```

```
>AD.BC
```

```
  36
```

Maka terbukti bahwa hasil kali panjang sisi-sisi yang berhadapan sama yaitu 36. Jadi dapat dipastikan bahwa segiempat tersebut merupakan segiempat garis singgung.

4. Gambarlah suatu ellips jika diketahui kedua titik fokusnya, misalnya P dan Q. Ingat ellips dengan fokus P dan Q adalah tempat kedudukan titik-titik yang jumlah jarak ke P dan ke Q selalu sama (konstan).

Penyelesaian :
Diketahui kedua titik fokus P = [-1,-1] dan Q = [1,-1]

```
>P=[-1,-1]; Q=[1,-1];
>function d1(x,y):=sqrt((x-P[1])^2+(y-P[2])^2)
>Q=[1,-1]; function d2(x,y):=sqrt((x-P[1])^2+(y-P[2])^2)+sqrt((x-Q[1])^2+(y-Q[2])^2)
>fcontour("d2",xmin=-2,xmax=2,ymin=-3,ymax=1,hue=1):
```

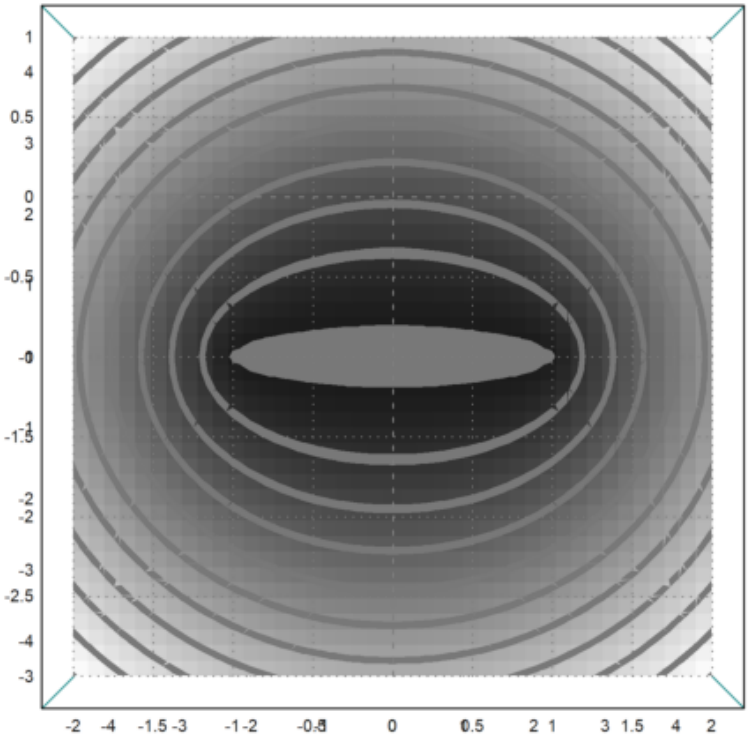

Grafik yang lebih menarik.

```
>plot3d("d2",xmin=-2,xmax=2,ymin=-3,ymax=1):
```

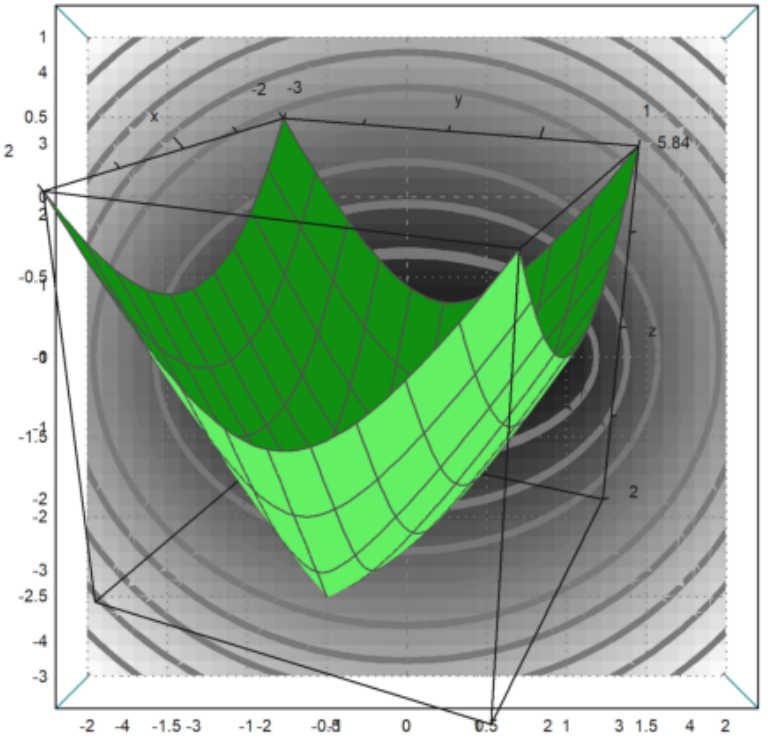

Batasan ke garis PQ.

```
>plot2d("abs(x+1)+abs(x-1)",xmin=-3,xmax=3):
```

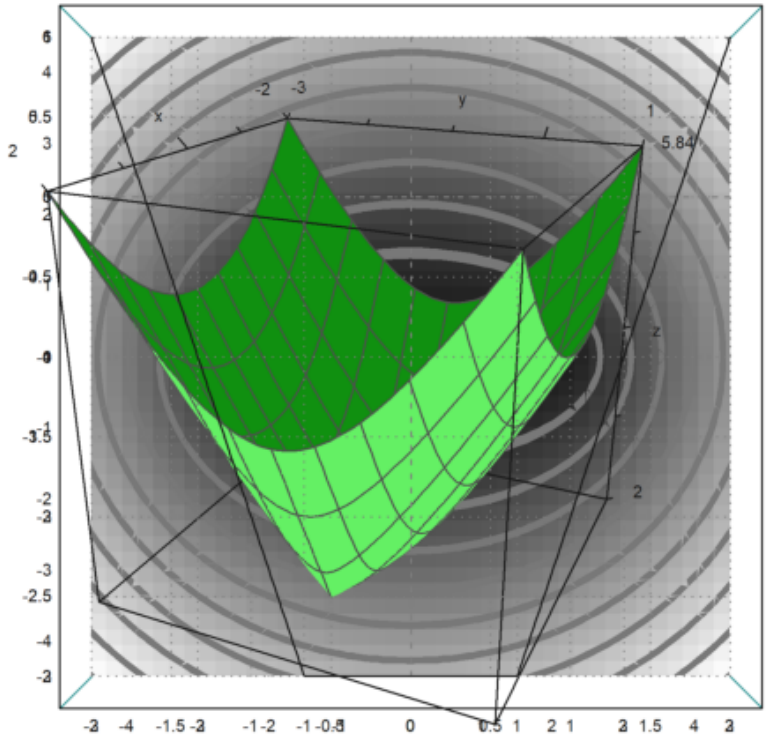

5. Gambarlah suatu hiperbola jika diketahui kedua titik fokusnya, misalnya P dan Q. Ingat ellips dengan fokus P dan Q adalah tempat kedudukan titik-titik yang selisih jarak ke P dan ke Q selalu sama (konstan).

```
>P=[-1,-1]; Q=[1,-1];
>function d1(x,y):=sqrt((x-p[1])^2+(y-p[2])^2)
>Q=[1,-1]; function d2(x,y):=sqrt((x-P[1])^2+(y-P[2])^2)+sqrt((x+Q[1])^2+(y+Q[2])^2)
>fcontour("d2",xmin=-2,xmax=2,ymin=-3,ymax=1,hue=1):
```

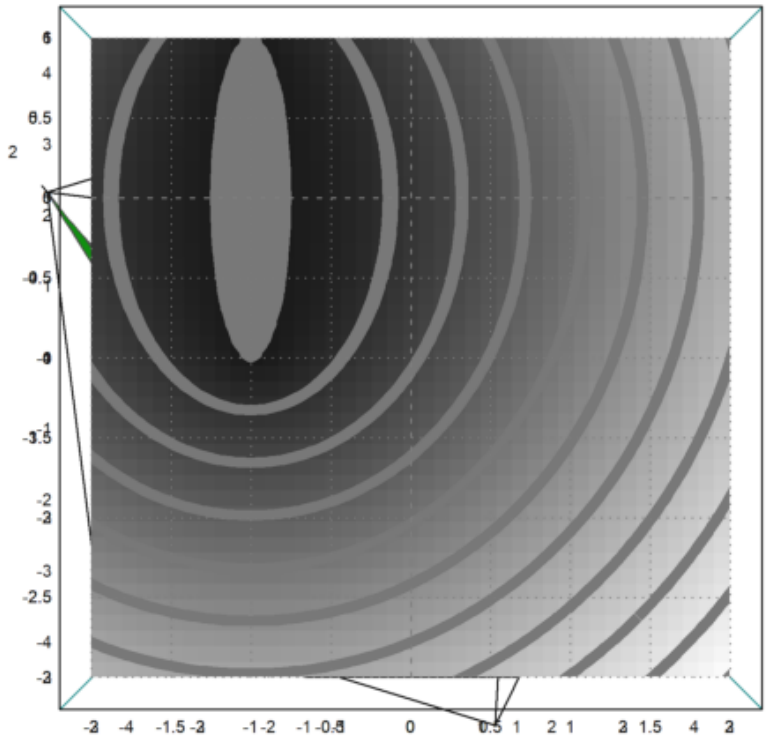

```
>plot3d("d2",xmin=-2,xmax=2,ymin=-3,ymax=1):
```

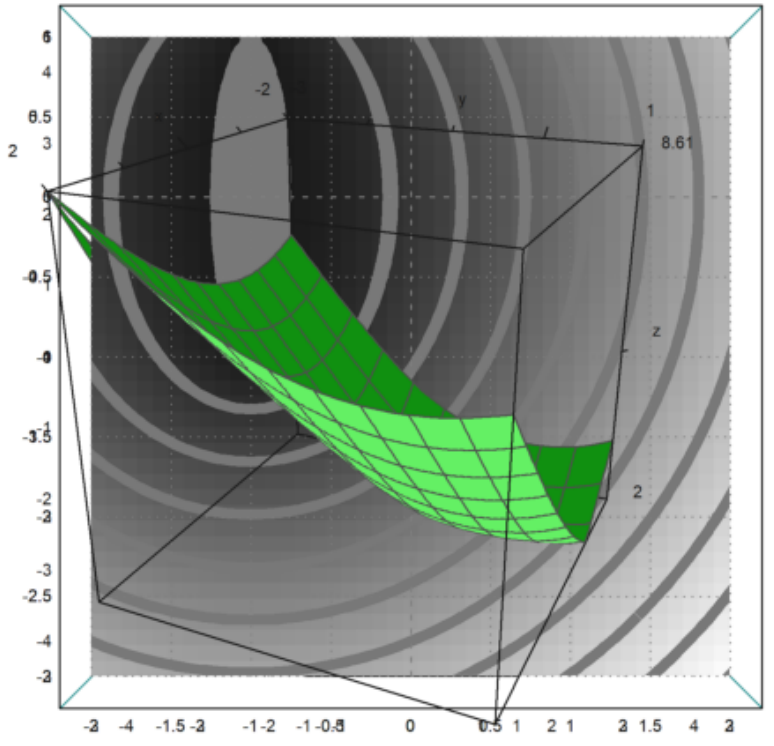


```
>plot2d("abs(x+1)+abs(x-1)",xmin=-3,xmax=3):
```

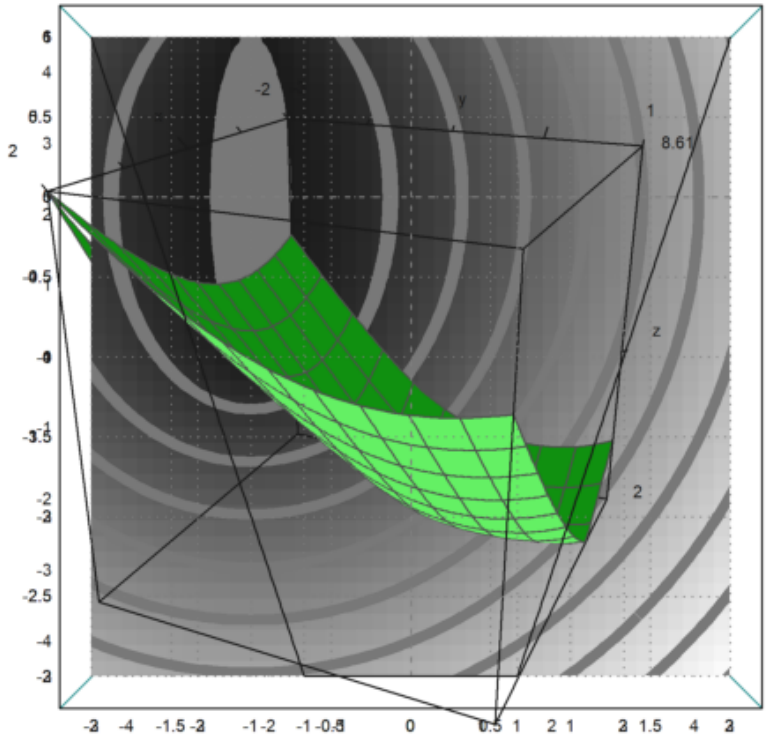

-2
y
1
8.61
z
2